Vendredi 10 Avril 2020

Rituels mathématiques

1) Pose et calcule les multiplications (Attention à la présentation).

8 056 x 7 = ……



5 408 x 8 = ……



8 519 x 3 = ……



5 098 x 9 = ……



2) Problèmes.

a) Pok a acheté 12 caramels. Il veut faire 2 paquets de caramels identiques. **Combien de caramels doit-il mettre dans chaque paquet ?**

opération : ……..

phrase-réponse : ……..

b) Sam joue au jeu de l'oie. Son pion est sur la case 14. Il lance 2 dés qui marquent chacun 3 points. Il avance son pion. **Sur quelle case va-t-il arriver ?**

phrase-réponse : ……..

Phrase grammaticale

Les enfants profitent des vacances pour jouer...

_____

Lecture

Lire le nouvel album « Copieuse ! » chapitre 5

Vocabulaire

1) Colorie de la même couleur les adjectifs synonymes.

gentil	délicieux	ancien	moche	vieux
laid	méchant	cruel	bon	aimable

2) Relie les noms synonymes.

visage ●	● vitesse
voiture ●	● gamin
rapidité ●	● automobile
vélo ●	● figure
enfant ●	● bicyclette
calme ●	● nourriture
aliment ●	● cartable
docteur ●	● copain
sac ●	● silence
ami ●	● médecin

3) Remplace le mot souligné par un synonyme.

a) Ce thé est **bouillant** ! => .....

b) Il **sanglote**, il s'est fait mal. => .....

c) Arthur est **heureux**. => .....

d) L'avion **arrive** sur la piste. => .....

4) Colorie de la même couleur les adjectifs contraires.

gentil	lent	rugueux	court	méchant
laid	doux	rapide	long	beau

5) Relie les verbes contraires.

descendre ●	● chuchoter
crier ●	● acheter
vendre ●	● éteindre
allumer ●	● monter
arriver ●	● partir
aimer ●	● pousser
commencer ●	● coller
décoller ●	● salir
laver ●	● finir
tirer ●	● détester

6) Ajoute un préfixe pour former le contraire des mots.

.....chance - .....monter - .....boucher - .....honnête - .....coller –

.....juste- .....obéissant - .....poli

7) Remplace le mot souligné par son contraire.

a) Ce thé est trop **chaud**. => .....

b) Cette caisse est vraiment **lourde**. => .....

c) Il regarde **devant** lui. => .....

1) Calcule.

a. 5 × 200 = ...
b. 4 × 2 000 = ...
c. 8 × 500 = ...
d. 13 × 200 = ...
e. 50 × 20 = ...
f. 9 × 600 = ...
g. 15 × 200 = ...
h. 11 × 400 = ...
i. 20 × 90 = ...

2) Complète.

a. 14 × ..... = 2 800
b. 2 000 × ..... = 8 000
c. ..... × 400 = 8 000
d. 30 × ..... = 6 000
e. 200 × ..... = 1 000
f. ..... × 32 = 9 600

3) Utilise les résultats de l'ardoise pour calculer :

45 × 3 = 135
45 × 7 = 315

a. 45 × 4 = ...
b. 45 × 5 = ...
c. 45 × 8 = ...
d. 6 × 45 = ...

4) Problèmes.

a) De lundi à vendredi, le confiseur a noté sur ces petites feuilles, le nombre de boites de bonbons à la fraise qu'il a vendues.
Pour chaque jour, indique le nombre de bonbons à la fraise qui ont été vendus.

LUNDI	MARDI	MERCREDI	JEUDI	VENDREDI
3 boites	30 boites	32 boites	33 boites	60 boites
.....	.....	.....	.....	.....

b) Le marchand vends des sacs de billes comme celui-ci.
Complète ces deux tableaux. Tu peux te servir du premier pour compléter le second.

nombre de sacs vendus	1	2	4	5	6	7	9
nombre de billes vendues							

nombre de sacs vendus	11	12	14	15	16	17	19
nombre de billes vendues							

…….