Nom: ----------Date: ----------

ÉVALUATION NUMÉRATION CALCUL

Octobre 2014

1

Trace le chemin du papillon, il va sur toutes les fleurs dans l'ordre:



2

Relie les deux écritures du même nombre :

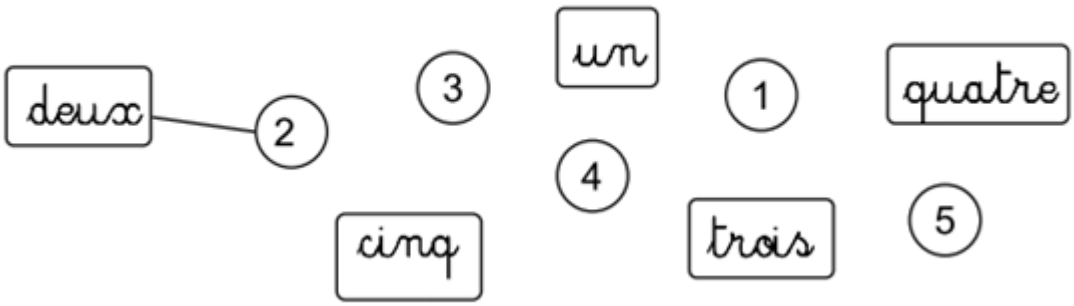

3

Sur chaque ligne, colorie en vert le nombre le plus petit , en rouge le nombre le plus grand:

12	5	18	3
5	24	13	17
1	19	28	14
21	6	16	12

4 Complète chaque ligne avec le nombre qui convient:



5 Complète la maison du 7:

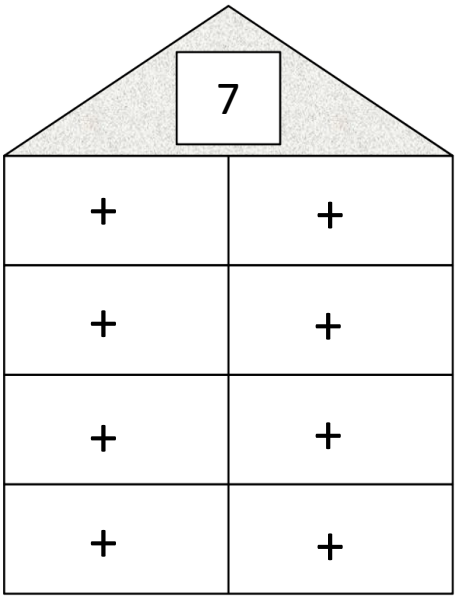

6 Pour colorier ce dessin, calcule la somme de chaque addition

= 5	gris	= 8	vert
= 6	bleu	= 9	noir
= 7	orange	= 10	rouge



Nom: ----------Date: ----------

ÉVALUATION GÉOMÉTRIE MESURES

Octobre 2014

1

Trace en prolongeant les traits :

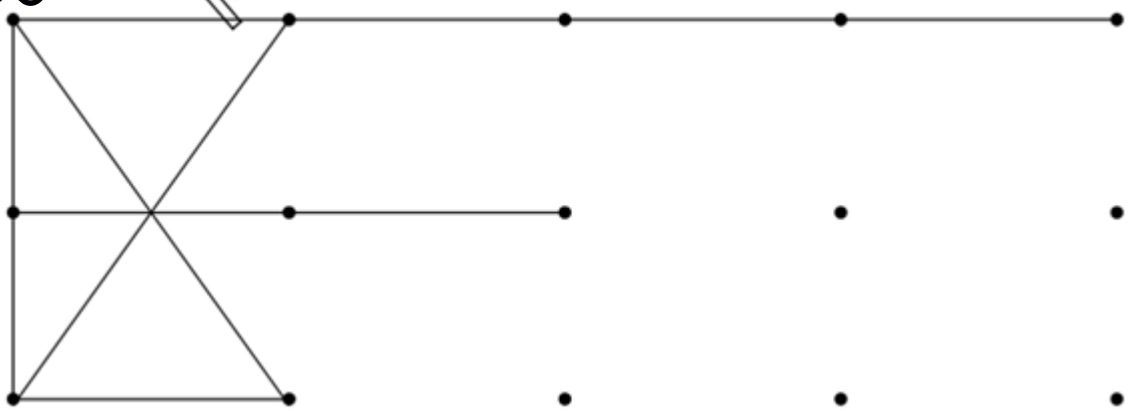

2

Colorie en vert la case de l'objet le plus court et en rouge la case de l'objet le plus long.

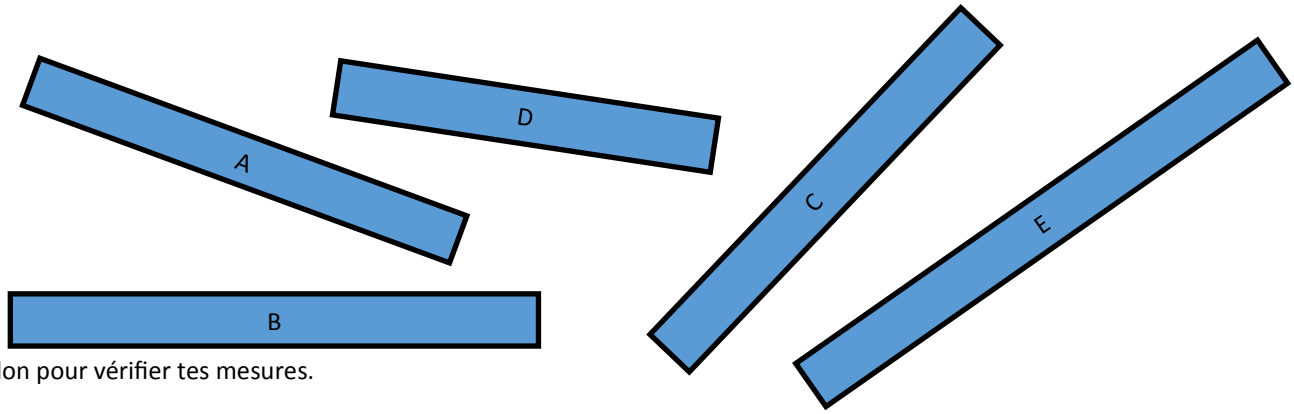

Sers-toi de l'étalon pour vérifier tes mesures.

Tu peux le découper.

A	B	C	D	E

3

Colorie en vert l'objet le plus court dans la réalité, colorie en rouge l'objet le plus long dans la réalité.









Nom: ----------Date: ----------

ÉVALUATION PROBLÈMES

Octobre 2014

1 **Indique le nombre de poules cachées derrière le mur :**



5 + ... = 9 | 3 + ... = 7 | 6 + ... = 10

2 **Chaque chat veut une souris. Combien faut-il de souris?** 1 2 3 4 5



Il faut souris.

3 **Chaque enfant veut deux ballons. Combien faut-il de ballons?** 1 2 3 4 5

Il faut ballons.