G2

L'angle droit

➢ Pour <u>vérifier</u> si un **angle** est **droit**, on utilise une **équerre**.

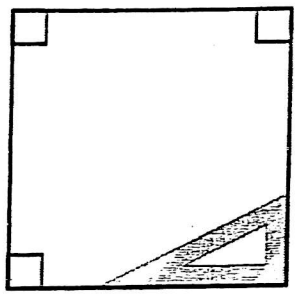

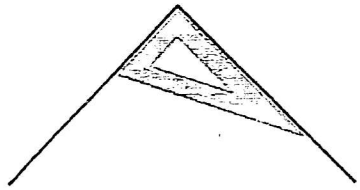

Certains angles sont **plus grands** que l'angle droit :

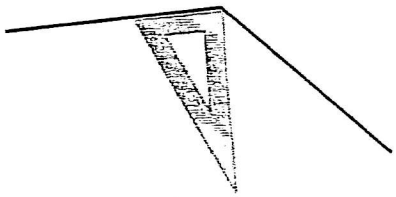

Certains angles sont **plus petits** que l'angle droit :

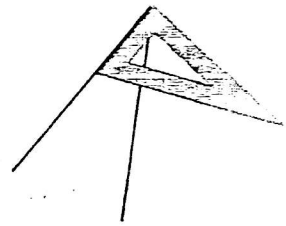

➢ Pour <u>tracer</u> un **angle droit** :

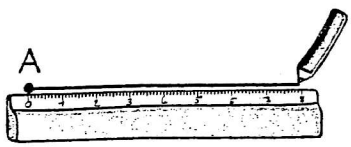

1. On choisit un point A. Avec la règle, on trace un trait à partir de A.

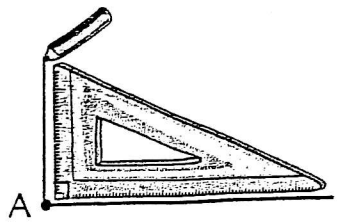

2. On place l'équerre le long du trait avec l'angle droit sur A. On trace un autre trait qui part de A le long de l'équerre.

3. On obtient alors un angle droit.

Pour s'assurer que l'élève a bien compris sa leçon, et pour l'aider à l'apprendre, vous pouvez lui poser ces questions et/ou lui proposer ces activités :

- A l'aide du gabarit fabriqué en classe, ou d'une feuille pliée en 4, faire trouver des angles droits dans une pièce (bord de la table, d'une porte, d'un cahier, etc.).
- Tracer des figures sur le cahier de brouillon et faire trouver les angles droits avec le gabarit.