MATHEMATIQUES
Premier trimestre
semaine 7

Prénom : …… Date : ……

# La monnaie, les euros

Compétence : Savoir payer et dénombrer une somme d'argent en euros

## 1 **Dessine** avec le moins de pièces et de billets possible.

356 €



37 €

## 2 **Calcule** et **écris** les sommes d'argent.

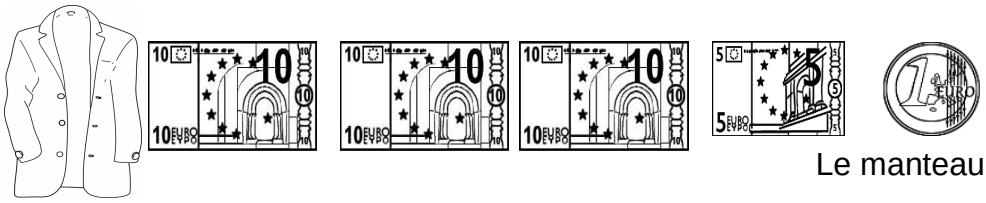

Le manteau coûte ..... euros.

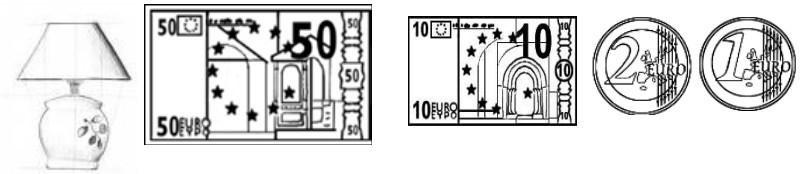

La lampe coûte ..... euros.



La bague coûte ..... euros.

## 3 Combien y a t-il d'euros en tout ? **Continue** à former les groupes de 10 euros et **réponds** :

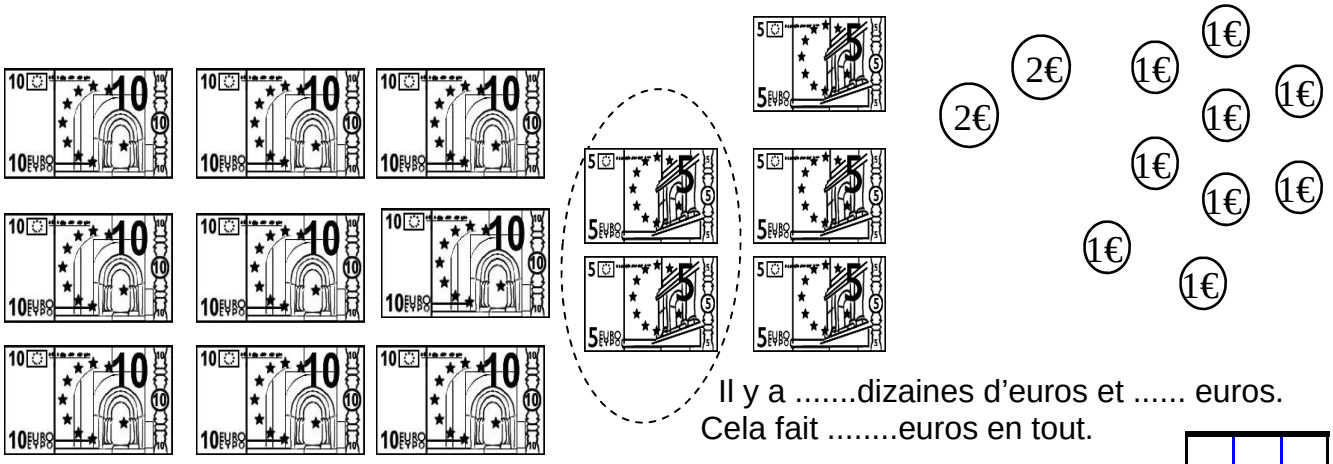

Il y a .....dizaines d'euros et ..... euros.
Cela fait .....euros en tout.

| | | |
|---|---|---|
| | | |

€