Plan de travail 2 CP

Français	Copie : recopier un texte sans erreur	
	Lecture : phonologie : [k]	
	Orthographe : c, qu, k, cl, cr	
	Grammaire : singulier / pluriel	
	Production d'écrit : légender une image	
Maths	Numération : ranger des nombres	
	Ecrire des nombres en lettres	
	Calculer une addition en colonne	
	Calcul mental : +1, -1	
	Tracer / mesurer des segments	

Bilan du plan de travail :

- ☐ Programme tenu
- ☐ Programme non tenu
- ☐ Programme dépassé

Commentaires :

Copie : Copie cette phrase sans erreur.

Pascale et Mélanie sont dans une barque, sur le lac. Arthur est sur son matelas pneumatique.

Lecture : Colorie si tu entends [k].



Orthographe : Ecris les mots sous les dessins. N'oublie pas le déterminant.



Grammaire : Ecris un, une ou des.

_____ cloches	
_____ clown	
_____ micro	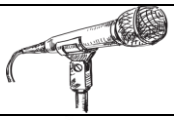
_____ karatékas	
_____ barque	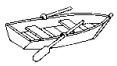

Production d'écrit : Ecris une phrase ou un petit texte puis colorie le dessin.



Numération : Range les nombres du plus petit au plus grand.

45	12	37	33	40	39

Numération : Range les nombres du plus grand au plus petit.

21	32	17	43	30	49

Numération : Relie.

trente-sept	23
vingt-trois	37
quarante	47
quarante-sept	40

Numération : Ecris en lettres.

30 : _____

48 : _____

29 : _____

Calcul : Calcule ces additions.

	3	5
+	2	4

	2	6
+	2	3

Calcul mental : Calcule ces opérations.

25 + 1 = ____ 26 - 1 = ____

34 + 1 = ____ 34 - 1 = ____

41 + 1 = ____ 47 - 1 = ____

48 + 1 = ____ 42 - 1 = ____

Géométrie :

Trace les segments demandés.

5 cm : _____

3 cm : _____

Mesure ces segments :

|————————| ___ cm

|————————————| ___ cm

Pour aller plus loin…

Orthographe : Ecris les mots sous les dessins.

	
	

Production d'écrit : Lis le texte puis invente une suite.

Arthur fait du karaté. Il a tapé sur une brique et il s'est fait mal.

Grammaire : Ecris un, une ou des.

_____ cahier	_____ barque	_____ cri	_____ coqs
_____ kimonos	_____ boucles	_____ croquettes	_____ crabe

Numération : Relie les points de 1 à 25.



Géométrie : Colorie ce pavage en utilisant toujours le même rythme.

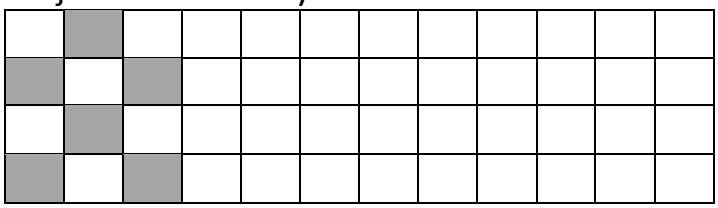
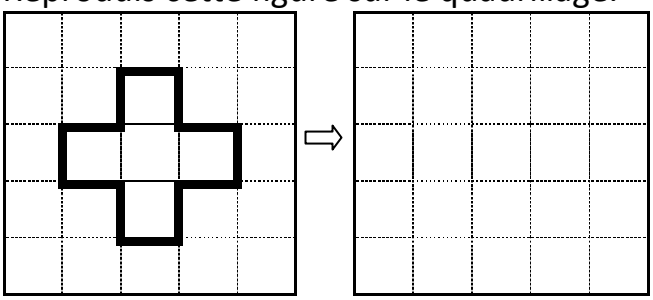
Reproduis cette figure sur le quadrillage.