REPUBLIQUE DU CAMEROUN
Paix – Travail – Patrie
****
MINISTERE DES ENSEIGNEMENTS SECONDAIRES
****
INSPECTION GENERALE DES ENSEIGNEMENTS
****
INSPECTION DE PEDAGOGIE CHARGEE DES SCIENCES HUMAINES
****
SOUS SECTION HISTOIRE-GEOGRAPHIE-EDUCATION A LA CITOYENNETE
****

REPUBLIC OF CAMEROON
Peace – Work – Fatherland
****
MINISTRY OF SECONDARY EDUCATION
****
INSPECTORATE GENERAL OF EDUCATION
****
INSPECTORATE OF PEDAGOGY IN CHARGE OF SOCIAL SCIENCES
****
DEPARTMENT OF HISTORY-GEOGRAPHY AND CITIZENSHIP EDUCATION
****

EPREUVE ZERO
CLASSES DE PREMIERES A, B, C, D, E

GEOGRAPHIE

DUREE: 3h (A-B); 2h (C-D-E).
COEF : 3(A-B) ; 2(C-D-E).

Le candidat traitera l'un des trois sujets au choix

Sujet I.

La circulation atmosphérique générale.

Consigne de travail : Le candidat insistera sur les grands centres d'action, les mouvements des vents à la surface de la terre.

Sur le globe ci-joint :

1. Indiquez : a- les centres de hautes pressions ;
   b- les centres de basses pressions.
2. Tracez les tropiques de Capricorne et du Cancer.
3. Matérialisez par des flèches les vents d'est (Easterlies).

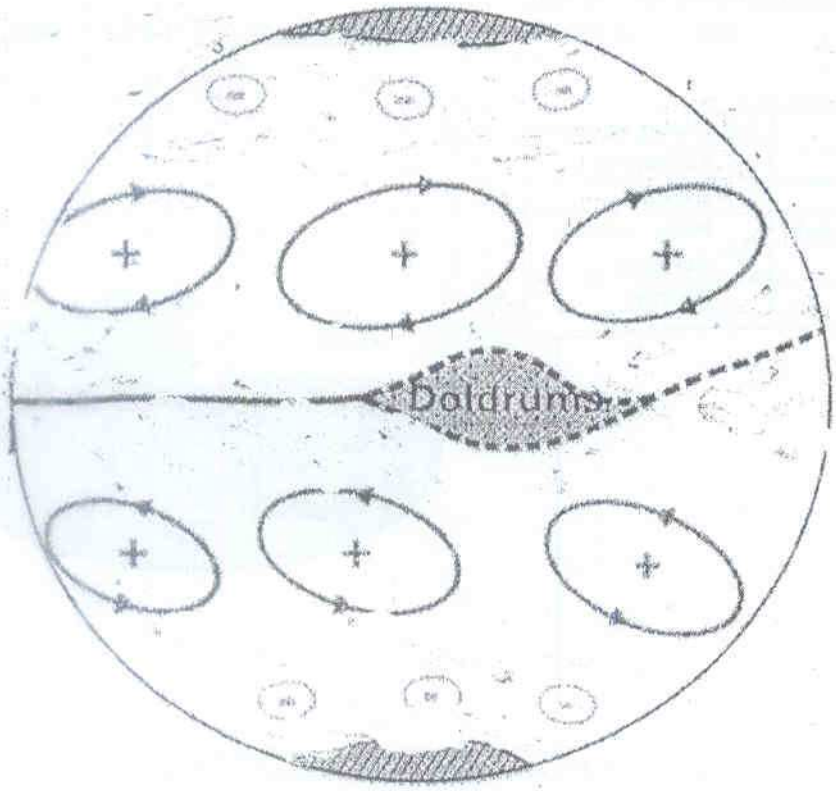

Barème

Carte :

- Application des techniques cartographiques : 2pts
- Traitement des questions posées : 2pts

Dissertation :

- Introduction : 3pts
- Développement :
  - Connaissances : 4pts
  - Organisation des idées : 2pts
  - Argumentation et illustrations : 2pts
- Conclusion : 3pts
- Présentation : 2pts

Sujet II : L'AGRICULTURE DU CAMEROUN.

a. Documents

Document 1.

Le Cameroun possède des richesses naturelles très variées. Les ressources en eau sont abondantes et constituent un potentiel énergétique considérable. Le sous-sol recèle d'importantes réserves d'hydrocarbures (pétrole, gaz naturel).Le Cameroun livre toute une gamme de matières premières d'origine agricole, animale et forestière...

La population camerounaise, avec son fort pourcentage de jeunes, dû à l'explosion démographique, pourvoit largement aux besoins en main d'œuvre des diverses activités économiques.

La dynamique démographique accroît la force de travail du pays, élargit le marché de consommation, stimule la créativité et l'innovation, facteurs décisifs du progrès des rendements et de la productivité du travail.

Source : M. KUETE et AL, Nouvelle Géographie 3ème, EDICEF, 1993.

Document 2.

Mines :	0,1	Transp et comm	1,3
industrie	4,5	Commerce	3,9
Bâtiment	1,7	Finance	0,2
Entreprises publ.	0,1	Adm., Armée, Services	7,5
		Autres :	6,7

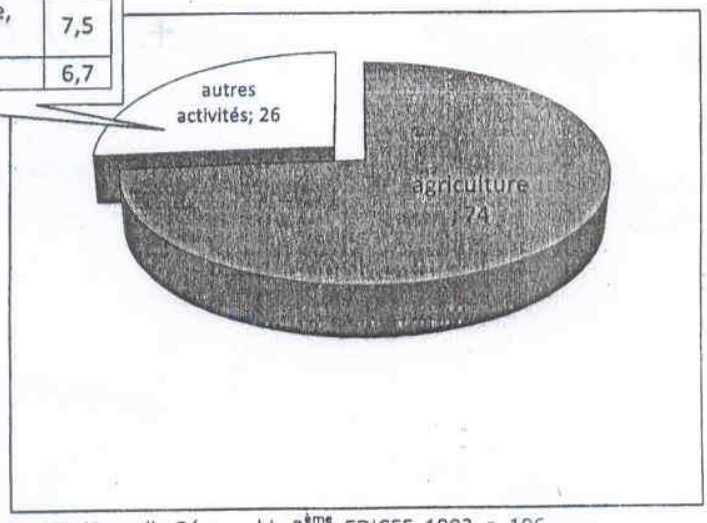

Source : M. KUETE et AL, Nouvelle Géographie 3ème, EDICEF, 1993, p. 106

Document 4.

La plupart des agriculteurs camerounais n'ont pas suffisamment de ressources financières et matérielles pour l'achat des équipements agricoles et l'éradication des insectes nuisibles.

Beaucoup de planteurs ne disposent pas d'un véhicule pour transporter leurs produits vers les marchés et le mauvais état des routes servant au transport des produits agricoles des plantations aux marchés, constitue un obstacle au progrès des agriculteurs...

Par ailleurs plusieurs planteurs camerounais sont analphabètes et conservateurs, lents et récalcitrants à adopter les méthodes culturales modernes...

D'autre part certaines cultures qui occupent la même parcelle pendant de nombreuses années comme les palmiers, les cacaoyers et les caféiers, entraînent le vieillissement des plantations... Ces cultures sont également détruites constamment par des animaux et des catastrophes naturelles...

Source : Aaron NEBA, Géographie Moderne de la République du Cameroun, 2ème édition, 1987, p.102.

Travail à faire :

En vous inspirant du questionnaire guide ci-dessous et vos propres connaissances, vous ferez un commentaire des documents proposés.

1. Présentez ces documents (nature, auteur, idée générale) et dégagez leur centre d'intérêt ;
2. Quels sont les atouts de l'agriculture camerounaise ?
3. a- Donnez 02 caractéristiques de l'agriculture moderne et 02 caractéristiques de l'agriculture traditionnelle au Cameroun ;
   b- Quelles sont les principales cultures d'exportation ? Précisez leurs régions de culture.
4. Quelles sont les difficultés d'ordre économique et technique auxquelles cette agriculture fait face ?
5. Dans quelle mesure les pouvoirs publics peuvent-ils faire de l'agriculture un élément du décollage économique du Cameroun ?

Barème :

Introduction : 3pts

Développement :

- Connaissances : 8pts
- Organisation des idées : 2pts
- Argumentation et exemples : 2pts

Conclusion : 3pts

Présentation : 2pts.

Sujet III.

La mobilité de l'écorce terrestre et les formes de reliefs associés.

Consigne de travail : Le candidat insistera sur les causes, les mouvements verticaux et les formes de reliefs associés.

Barème :

Introduction : 3pts

Développement :

- Connaissances : 8pts
- Organisation des idées : 2pts
- Argumentation et exemples : 2pts

Conclusion : 3pts

Présentation : 2pts.

Document 3 : L'agriculture du Cameroun

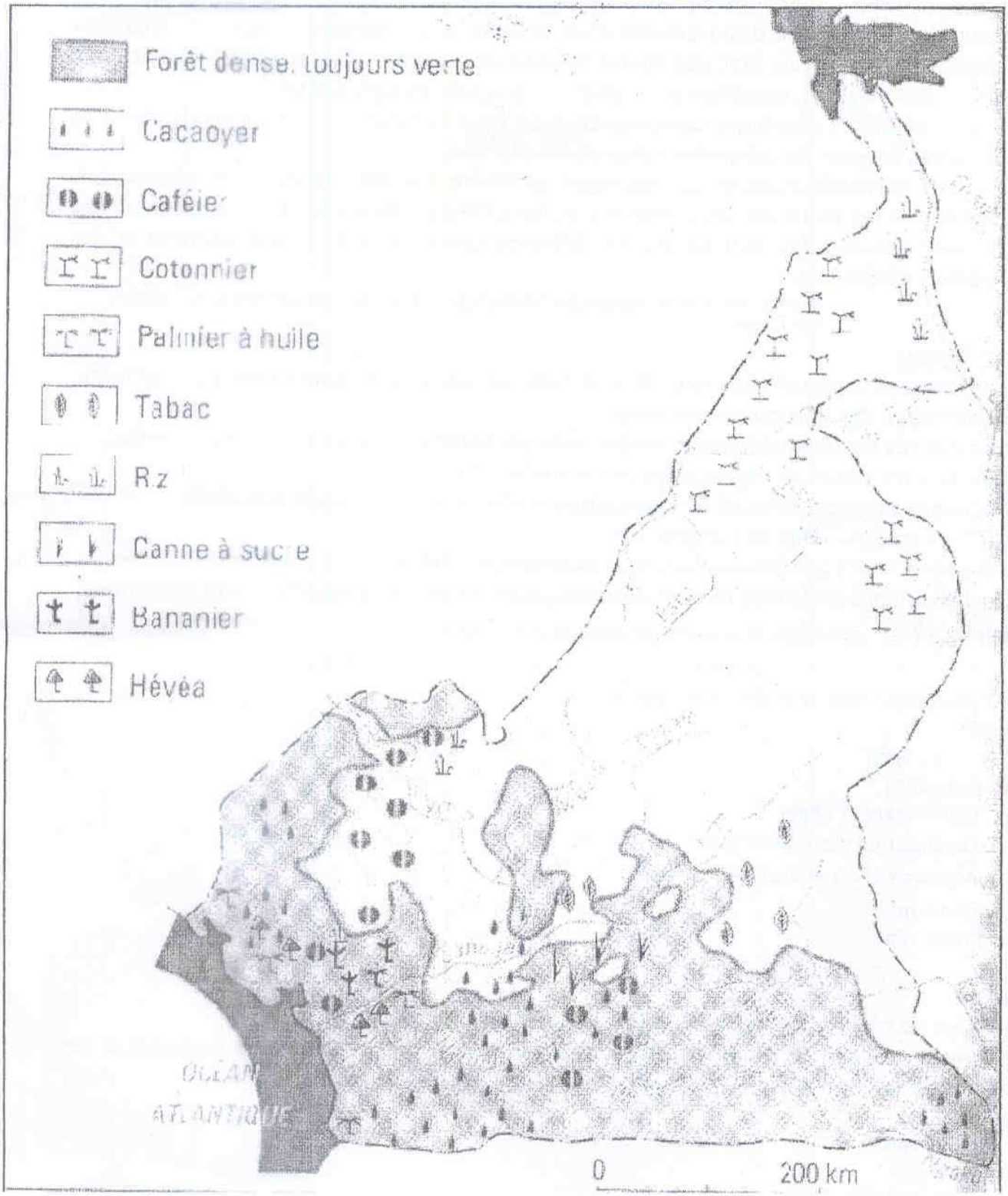

Source : M. KUETE et AL, Nouvelle Géographie 3ème, EDICEF, 1993, p. 106