	Connaissance des nombres	0 à 29

- Continue.

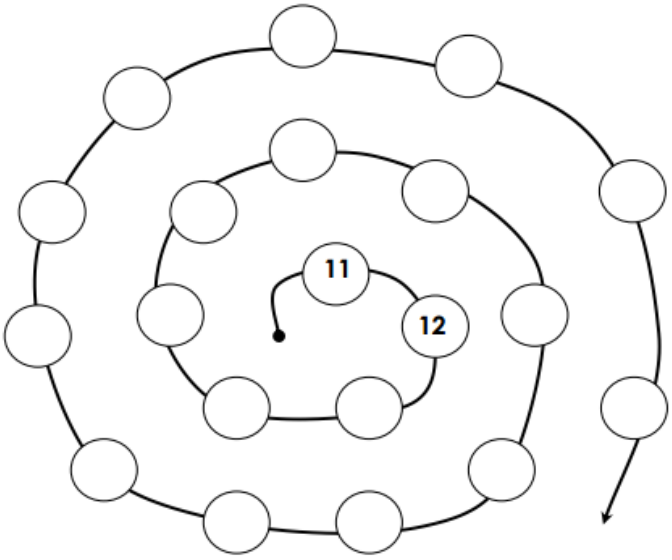

- Range du plus petit au plus grand.

28 – 19 – 18 – 21 – 20 – 15 – 29 – 17 – 12 - 24

- Place le signe qui convient. < >

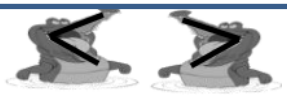

20 ____ 22	13 ____ 23	12 ____ 21
24 ____ 14	26 ____ 28	29 ____ 19
15 ____ 16	28 ____ 17	20 ____ 10

Complète les additions :

10 + 6 = …..	20 + 2 = …..	10 + 3 = …..
20 + 1 = …..	20 + 9 = …..	20 + ….. = 24
20 + 4 = …..	10 + 8 = …..	10 + ….. = 17
10 + 9 = …..	20 + 3 =…..	20 + 5 = …..

Colorie et relie au besoin les bonnes étiquettes pour écrire les nombres :

17	28	15	12
dix, onze, vingt, sept	deux, huit, dix, vingt, douze	dix, vingt, cinq, seize, quinze	vingt, dix, neuf, douze, deux

Colorie des paquets de 10 et commande le bon nombre d'écailles pour habiller le serpent.

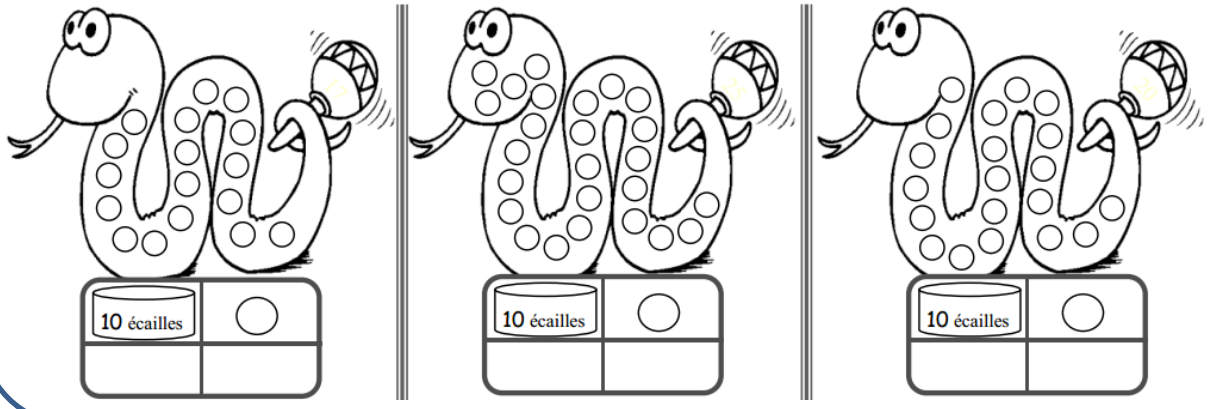

Ecris le nombre qui convient dans chaque case.

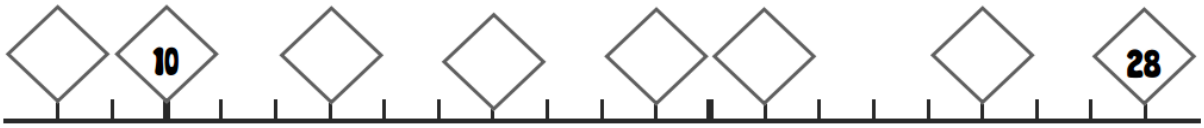

Complète avec des gommettes pour avoir 10 dans chaque panier :

8 + …… = 10	…… + …… = 10	…… + …… = 10	…… + …… = 10

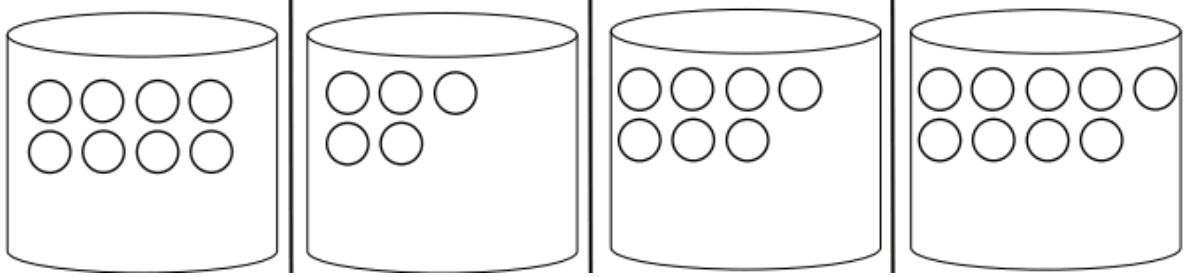

Les nombres de 0 à 39

Colorie de la même couleur les cartes qui désignent le même nombre :

36 31 30 26 25 34 24 43 14

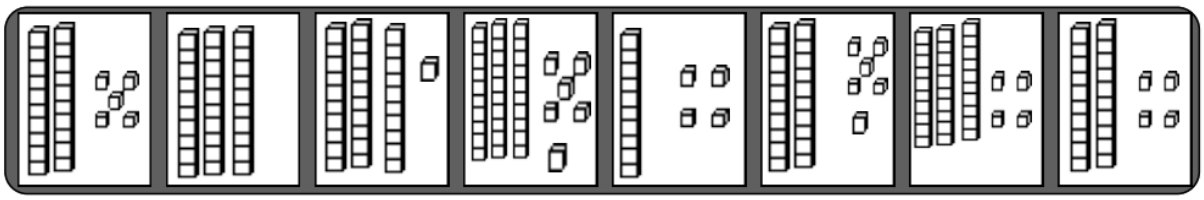

Complète le tableau.

avant	Le nombre	après
	35	
	34	
	30	
	37	
	32	
	31	

. Range les nombres du plus petit au plus grand.

34 – 39 – 31 – 30 – 35 – 32 – 37

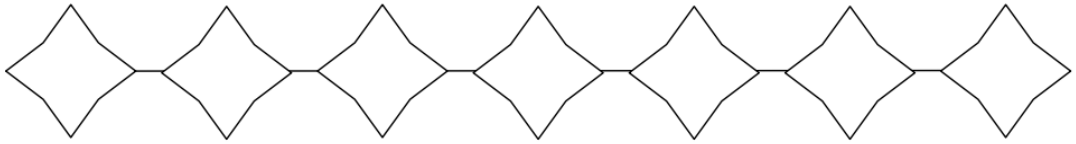

Complète les additions :

30 + 6 = …..	2 + 30 = …..	10 + 8 = …..
20 + 5 = …..	7 + 20 = …..	20 + ….. = 23
30 + 4 = …..	30 + 8 = …..	10 + ….. = 12
10 + 9 = …..	6 + 20 =…..	20 + 4 = …..

Place le signe qui convient : < >

33 … 32	21 … 35	36 … 26	24 … 32
25 … 19	19 … 22	14 … 30	32 … 23

Colorie les bonnes cartes pour obtenir 10 points : 10

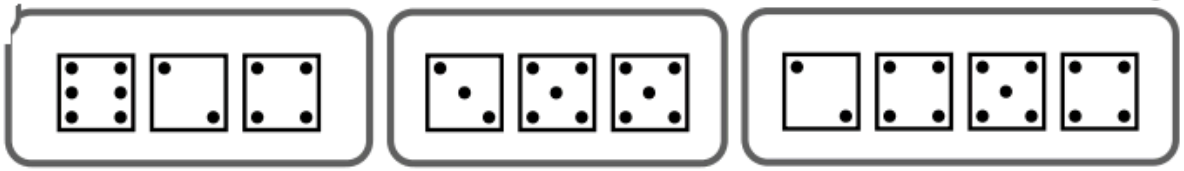

les doubles

Colorie de la même couleur le domino et son résultat:

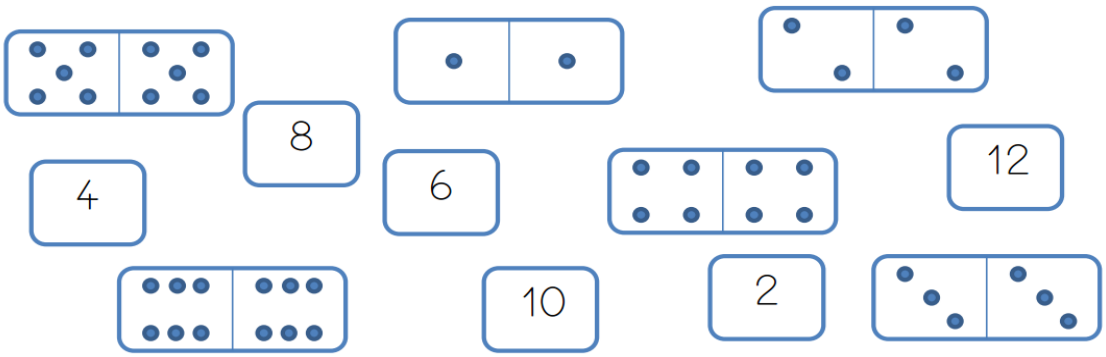

Calcule :

1	2	3	4	5	6	7	8	9	10	11	12

4 - 2 = ……	8 - 2 =……	10 - …… = 6	9 - …… = 8
6 - 3 =……	10 - 4 = ……	12 - …… = 9	7 - …… = 4

Colorie en rouge si le résultat est 7, en bleu si le résultat est 10 :

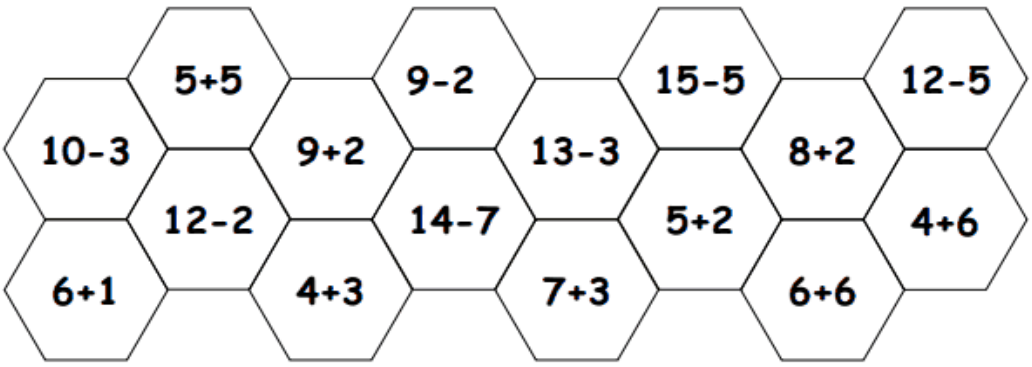

Les nombres de 0 à 49

46 29 32 48 24 84 35 43 42

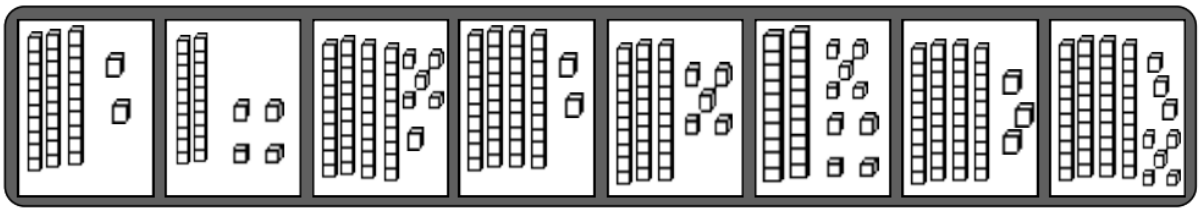

Complète les additions :

40 + 6 = ...	7 + 30 = ...	..... + 6 = 16
30 + 5 = ...	1 + 40 = ...	40 + ... = 43
40 + 2 = ...	30 + 2 = ...	30 + ... = 34
10 + 8 = ...	9 + 40 =.....	..... + 4 = 44

Place le signe qui convient : < >

43 ... 25	41 ... 14	36 ... 46	24 ... 42
25 ... 49	40 ... 39	24 ... 34	48 ... 45

Colorie les égalités justes et barre celles qui sont fausses : **les doubles**

2 + 2 = 4	4 + 4 = 8	3 + 3 = 6
5 + 5 = 9	2 + 2 = 5	1 + 1 = 2
3 + 3 = 5	4 + 4 = 10	5 + 5 = 10

Colorie les pions pour obtenir 10 points.

4 5 2 5 1

6 2 1 1 3

10

7 2 1 3 8

4 2 3 1 6

Ecris dans le nuage le nombre d'étoiles cachées :



Colorie ce dont tu as besoin pour acheter chaque objet.

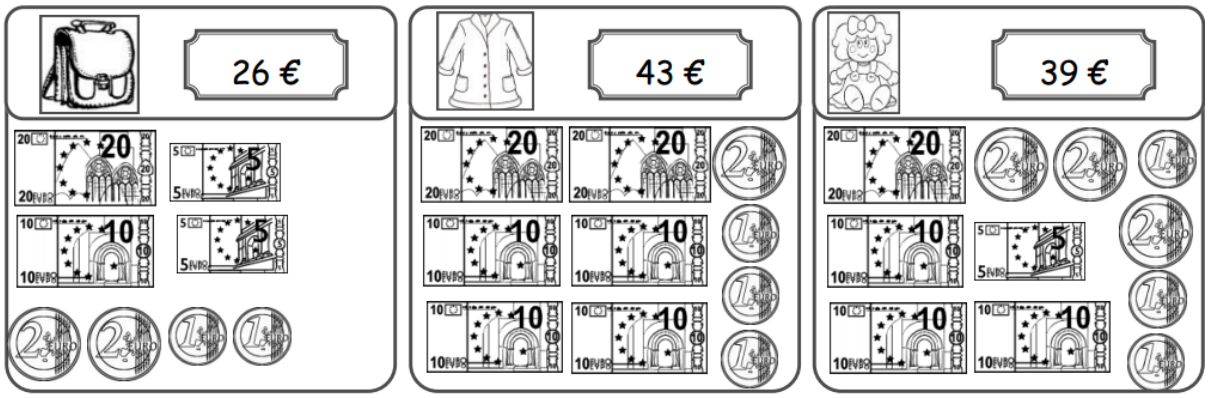

Ecris 3 nombres à 2 chiffres avec ces trois étiquettes

24	20 + 4	vingt-quatre	10 + 10 + 4

Ecris le nombre avant /après :

31	32	33
	40	
	29	
	18	

	39	
	20	
	47	
	12	

Colorie les pions pour obtenir 10 points.

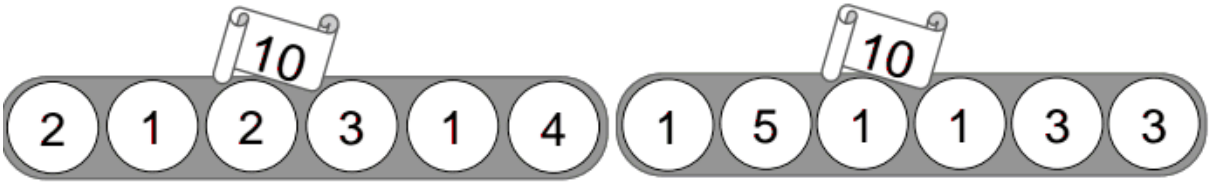

Calcule et colorie de la même couleur les opérations jumelles :

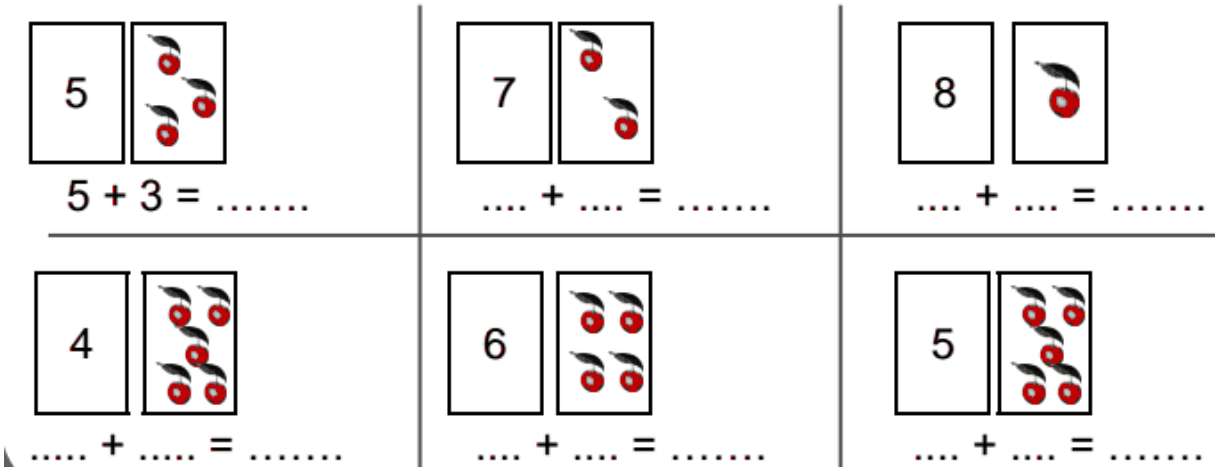

Range du plus grand au plus petit.

23 48 9 34 41 27 10 44 36 49

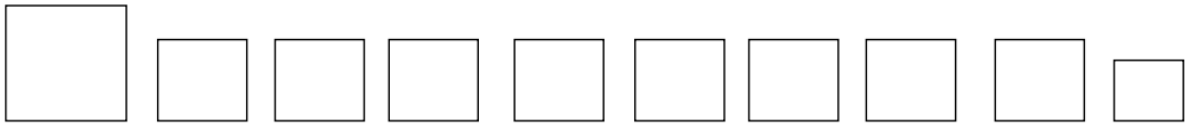

Ecris le nombre représenté.

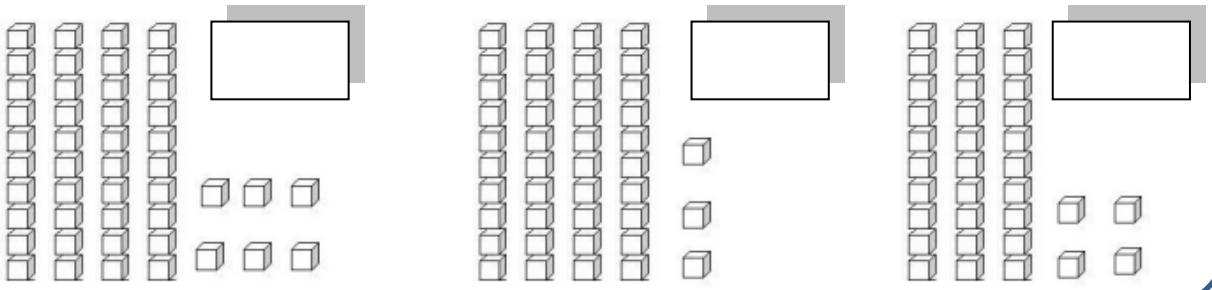

Complète et colorie les jumeaux de la même couleur :

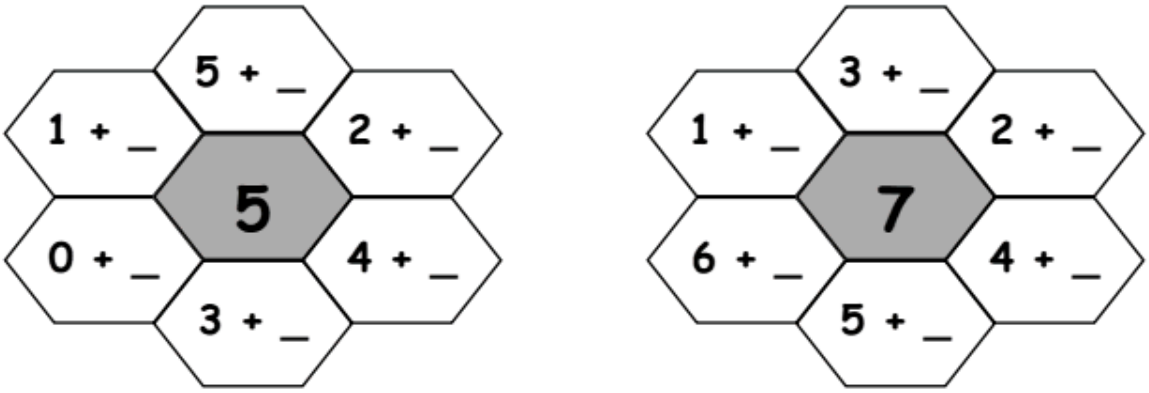

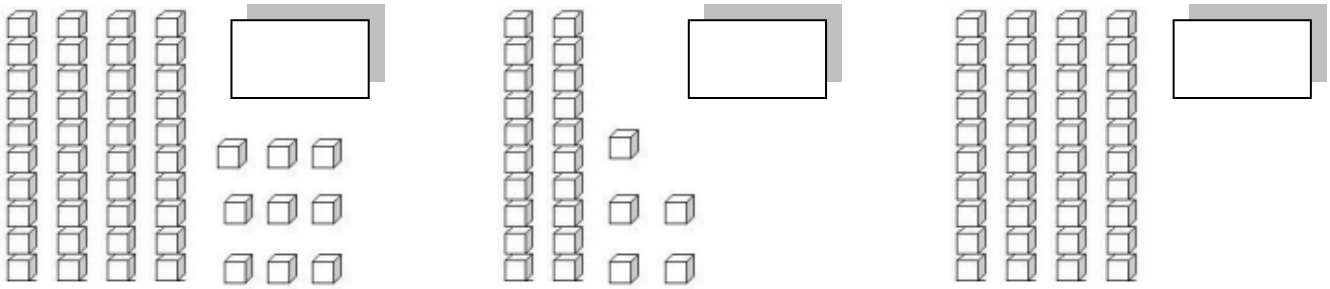

Compte le nombre d'objets en les groupant pas 10:

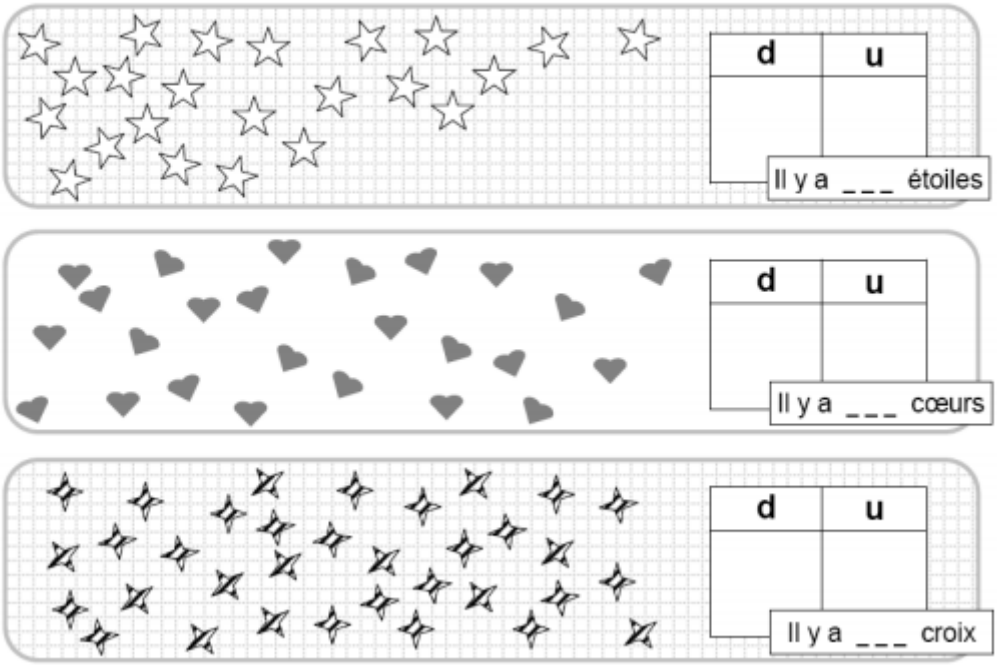

Complète avec <, > ou =:

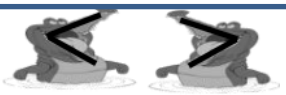

22	.....	10 + 2	45	.....	40 + 2
18	.....	10 + 8	39	.....	30 + 9
26	.....	20 + 8	40	.....	10 + 10 + 10

Indique le nombre de poules cachées derrière le mur :



4 + ... = 8 | 3 + ... = 6 | 8 + ... = 10

Les nombres de 0 à 59

- Décompose les nombres.

Exemple : 58 = 10 + 10 + 10 + 10 + 10 + 8

42 = ___ + ___ + ___ + ___ + ___

56 = _____

59 = _____

47 = _____

Dessine :

43	25
31	50

Calcule le nombre de points de chaque personnage et indique qui a gagné :

C'est _____ qui a gagné.



5 + 2 + 2 = ... 6 + ... + ... = ... + ... + ... = ...

Dessine à chaque fois le double de billes :

les doubles

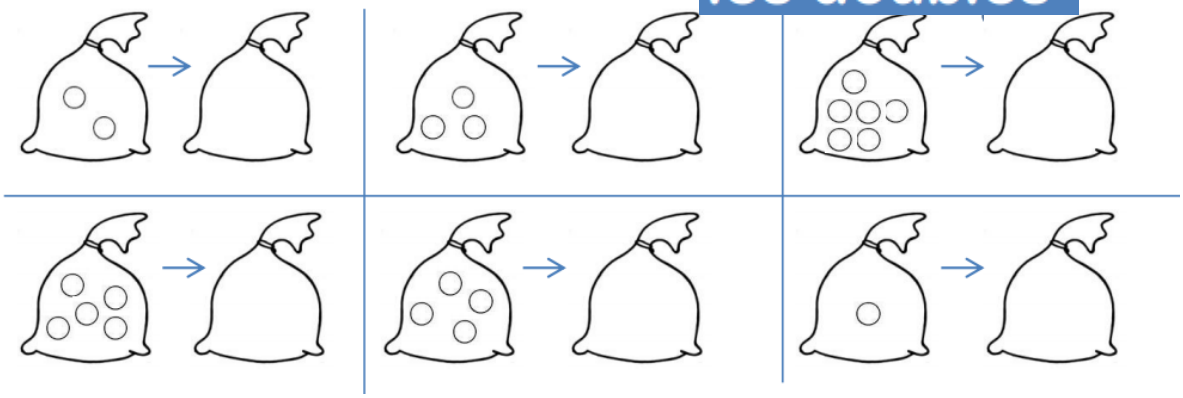

Observe la règle et complète :

30	32	34	36							
44	46	48								
				49	51	53	55			

Range les nombres dans l'ordre croissant :

Ecris dans le nuage le nombre d'étoiles cachées :

3 + ... = 7 | 6 + ... = 8 | 3 + ... = 9

Complète et colorie les jumeaux de la même couleur :

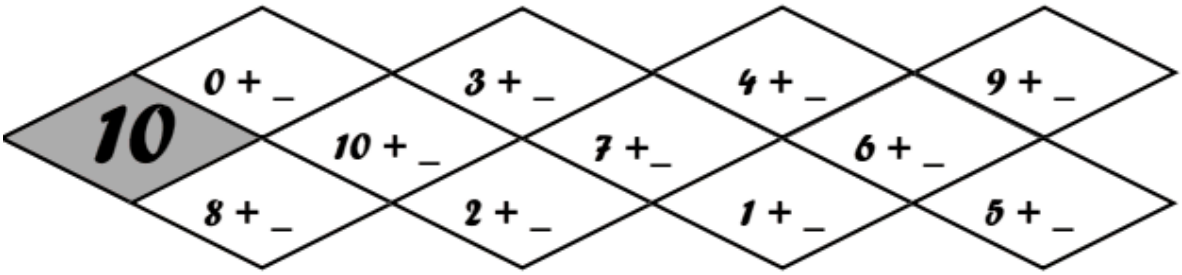

Colorie de la même couleur ce qui va ensemble

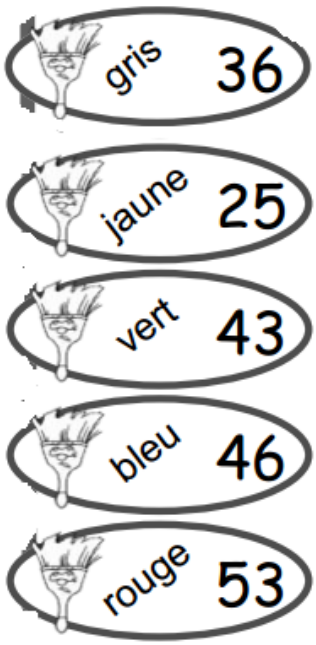

50 + 3	10+10+10+10+10+3
20 + 5	10+10+10+10+6
30 + 6	10+10+10+10+3
40 + 6	10+10+10+6
40 + 3	10+10+5

Colorie ce qui est demandé. **54 en bleu et 47 en rouge**



Complète :



Compte combien d'argent a chaque personnage :

Qui a le plus d'argent?

Compte le nombre de voitures en faisant des paquets de 10 :

Colorie la moitié des billes en bleu et l'autre en rouge :

moitiés



La moitié de 10 c'est



La moitié de 8 c'est

Place les nombres dans le train:

51 - 58 - 42 - 29 - 37



les doubles

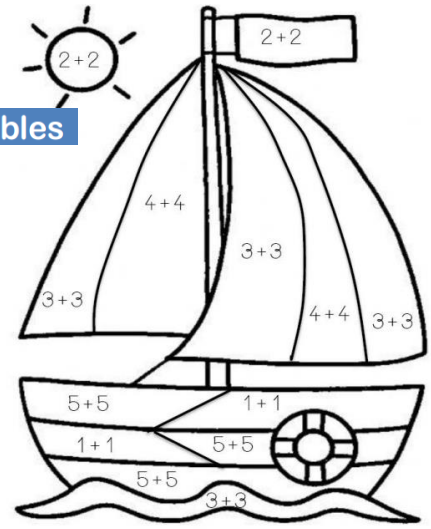

R	2	B	6	M	10
J	4	V	8		

C'est _____ qui a gagné.

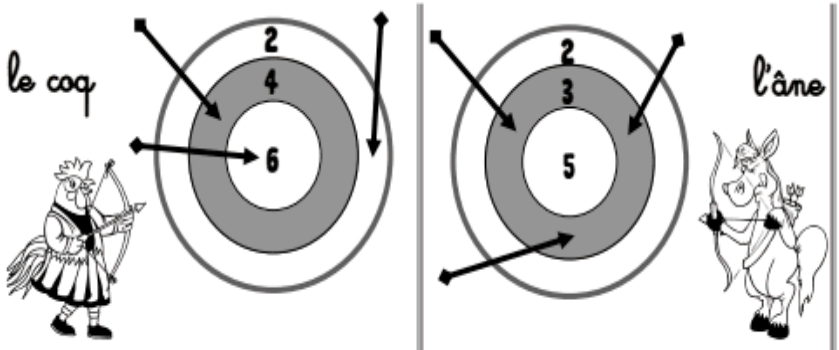

6 + 4 + 2 = ... + ... + ... = ...

Colorie des paquets de 10 et commande le bon nombre d'écailles pour habiller le serpent.

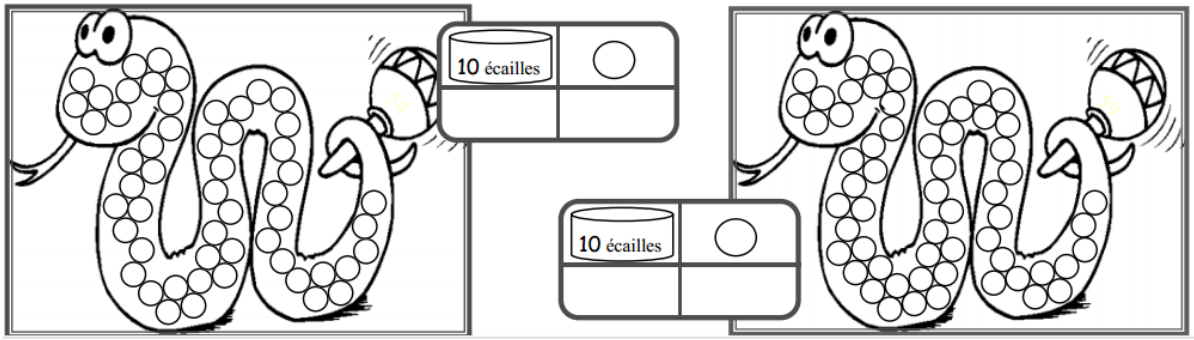

Ecris le nombre qui convient dans chaque case.

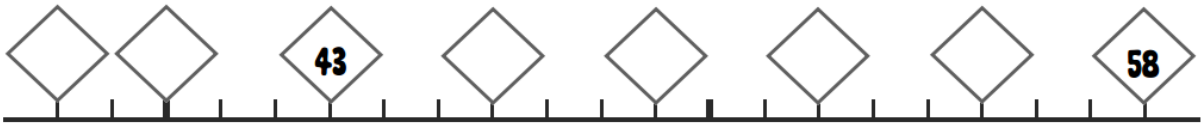

Les nombres de 0 à 69

Compte et complète :

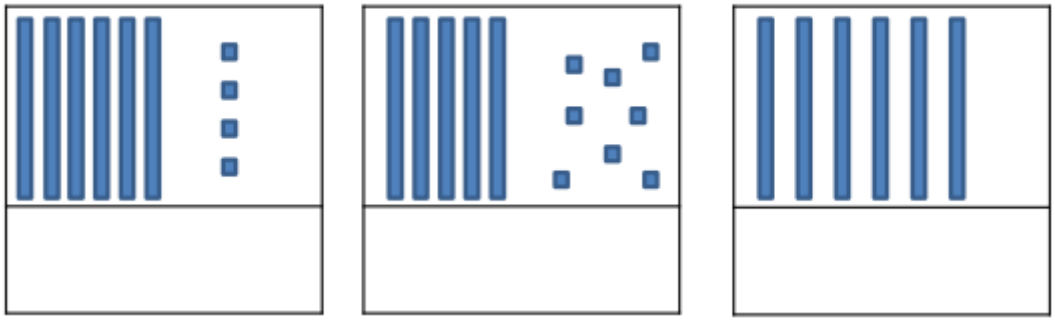

Ecris les nombres manquants et relie les morceaux de la chenille dans l'ordre:

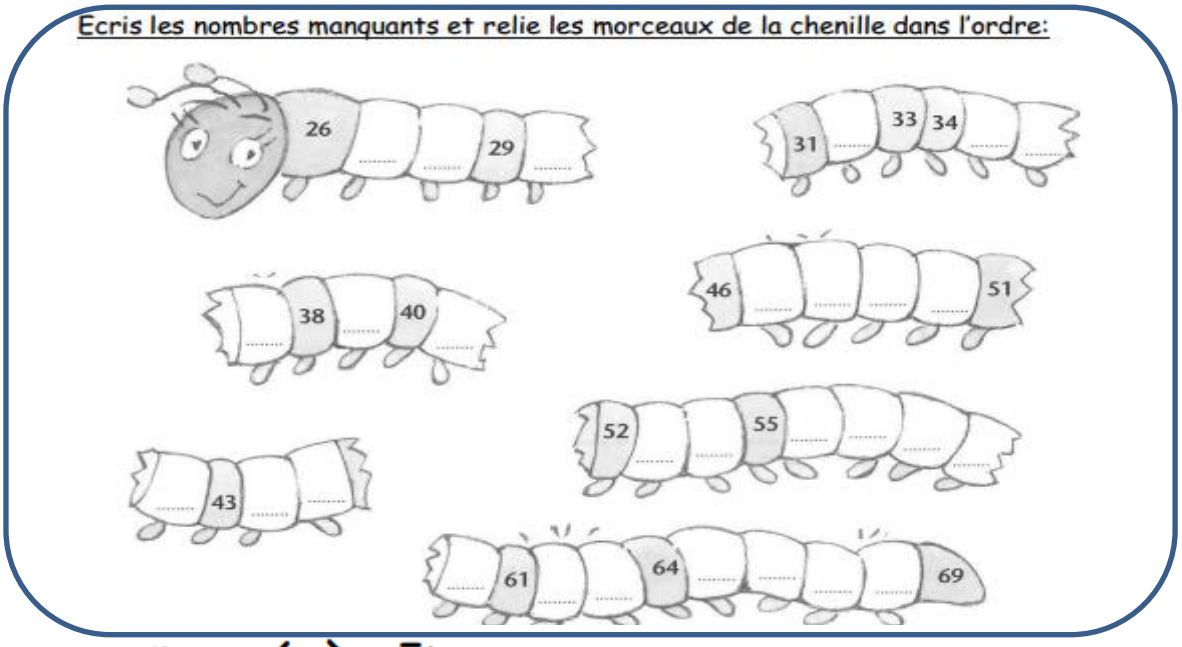

Complète avec <, > ou =:

62	.....	50+2	45	.....	40+2
53	.....	50+3	69	.....	60+7
67	.....	60+5	60	.....	20+20

La moitié de ces dinos sont verts. Les autres sont bleus. Colorie-les.

moitiés



Place les nombres dans le train:

69 - 49 - 62 - 58 - 67



Colorie ce dont tu as besoin pour acheter chaque objet.

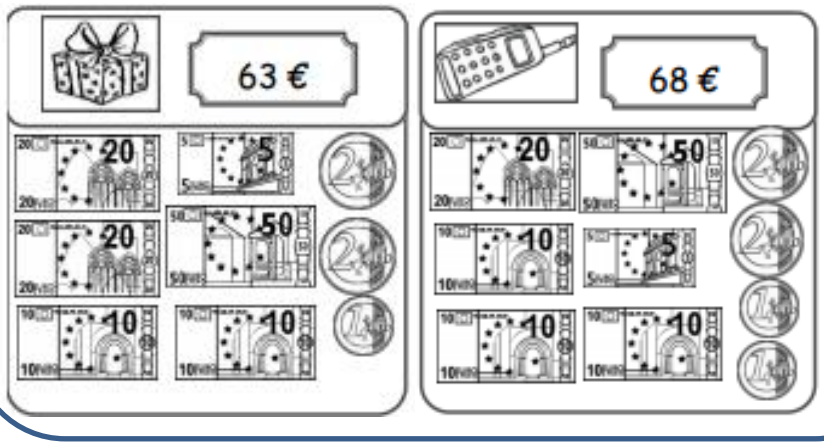

Range dans l'ordre décroissant :



Observe la règle et complète :

19	21	23	25							
12	14	16	18							
60	59	58	57	56						

Complète et colorie les jumeaux de la même couleur :

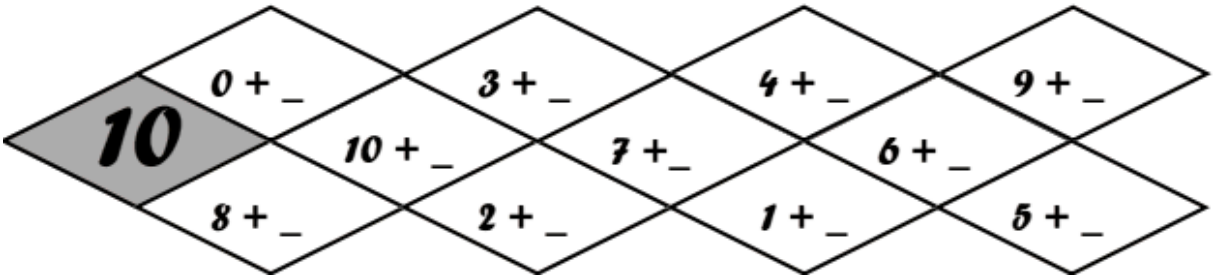

Colorie de la même couleur les cartes qui désignent le même nombre :

35 65 43 56 26 62 53

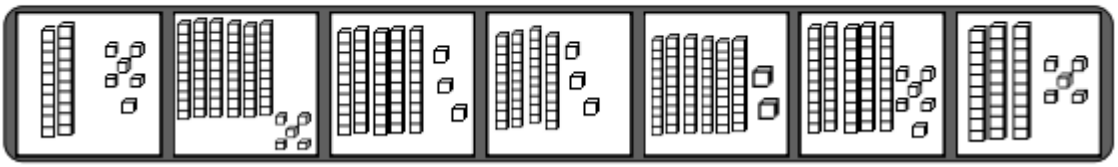

Ecris les nombres à leur place.

57 62 54 48 60

Range les nombres du plus petit au plus grand :

63 51 48 69 56 78 45

Complète les opérations : combien reste-t-il de chocolats ?

5 - 2 = ..

7 - 3 = ..

9 - 6 = ..

6 - 3 = ..

10 - 7 = ..

8 - 2 = ..

7 - 4 = ..

9 - 3 = ..

Indique le nombre de poules cachées derrière le mur :



5 + ... = 9 | .... + ... = 7 | .... + ... = 10

Place le signe qui convient : < = >

43 … 40+3	50+6 … 65	20+9 … 27+1	50+4 … 52+2
50+5 … 59	79 … 70+9	60+4 … 63+1	35+2 … 30+6

Complète comme l'exemple: vingt, trente, quarante, cinquante, soixante, un, deux, trois, quatre, cinq, six, sept, huit, neuf, et.

48	40 + 8	quarante - huit
63	+	
27	+	
43	+	
51	+	

Ecris le bon nombre sur l'étiquette:

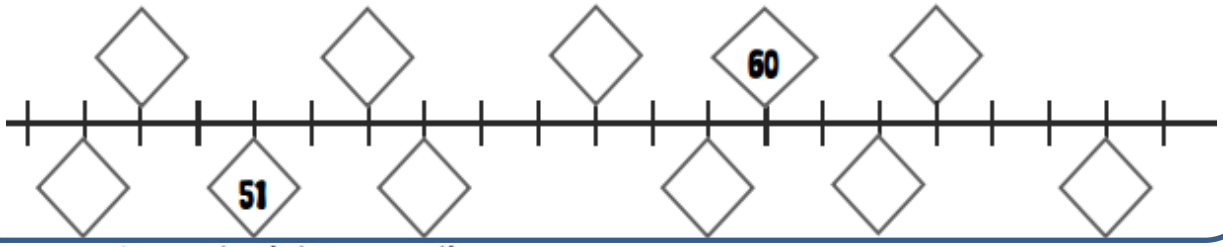

Observe la règle et complète :

46	45	44	43							
64	63	62	61							
30	32	34	36							

Complète les opérations : combien reste-t-il de chocolats ?

5 - 2 = ..

6 - 3 = ..

8 - 3 = ..

6 - 4 = ..

10 - 4 = ..

8 - 5 = ..

9 - 4 = ..

6 - 2 = ..

Colorie selon le code :

- 9 bleu
- 10 rouge
- 11 vert
- 12 jaune
- 13 violet
- 14 orange

5 + 5	6 + 6	8 + 1	10 + 2	9 + 2
10 + 4	3 + 6	6 + 5	7 + 4	7 + 7
9 + 5	4 + 6	4 + 8	9 + 4	7 + 2
4 + 5	10 + 3	3 + 7	8 + 2	4 + 6
6 + 7	5 + 5	8 + 5	2 + 7	10+ 4

Complète les égalités :

40 + ... =49	40 + 1=	..... + 9 = 69	50 + 5 = ...
60+.... = 62	60 + 5 = ...	..... + 7 = 47	50 + ... = 58

Place le signe qui convient : < = >

29 ... 92	65 ... 63	50+8 ... 58	5+40 ... 45
60 ... 59	59 ... 62	6+40 ... 64	7+50 ... 56

Regroupe pour faire 10 et calcule :

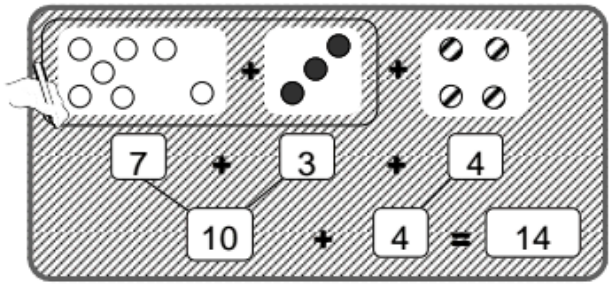

4 + 6 + 5

☐ + ☐ = ...

5 + 5 + 7

☐ + ☐ = ...



... + ... + ...

☐ + ☐ = ...

... + ... + ...

☐ + ☐ = ...

Complète :

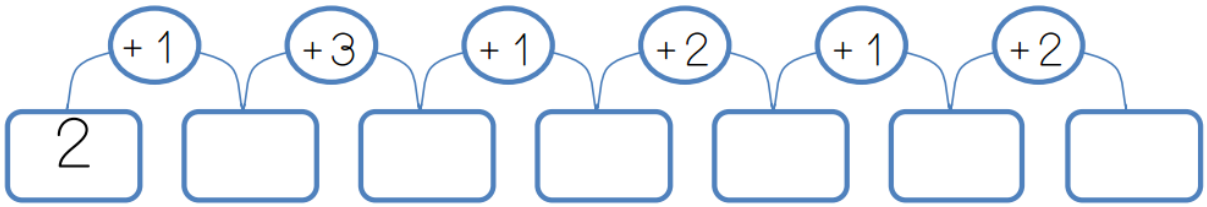

Complète le tableau :

5	cinq	3 + 2	10 - 5
6	_____	1 + ...	10 - ...
_____	sept	1 + ...	10 - ...
8	_____	2 + ...	10 - ...
9	_____	1 + ...	10 - ...

Ecris les résultats des opérations suivantes.

2 + 1 + 3 = ...
5 + 1 + 4 = ...

2 + 3 + 4 = ...
5 + 5 + 2 = ...

5 + 1 + 3 = ...
5 + 1 + 5 = ...

Le résultat doit être égal à 10.

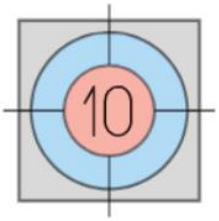

2 1 6 3 4

..... = 10
..... = 10

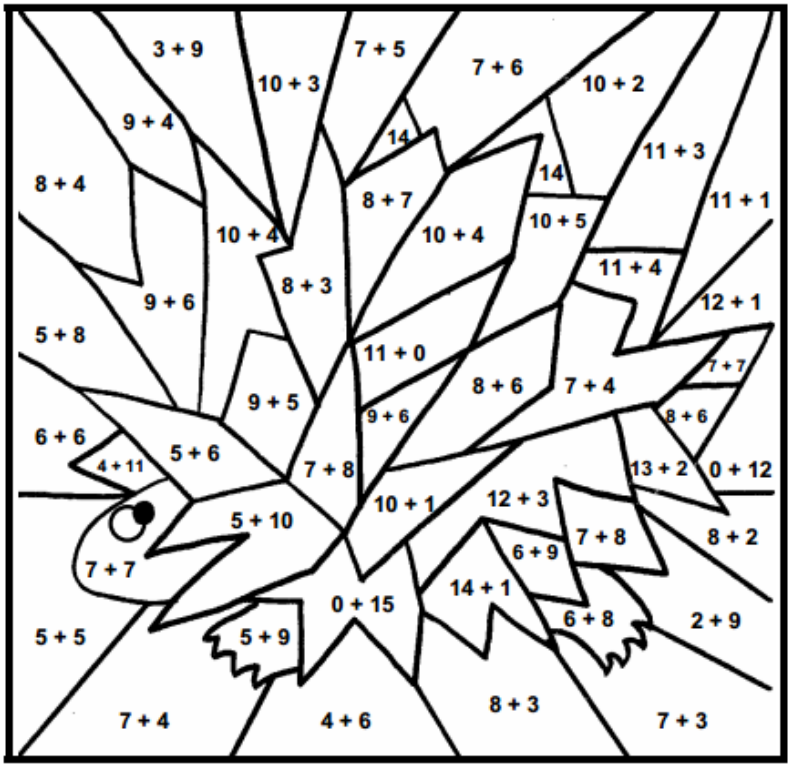

= 10	Jaune	**= 11**	Orange	**= 12**	Bleu
= 13	Vert	**= 14**	Noir	**= 15**	Marron