RALLYE MATHEMATIQUES

Fiche 1

Calcule les opérations suivantes. Pour que ta réponse soit validée, tu dois respecter les espaces entre les classes.

1. 2 541 + 539 + 742 =
2. 8 234 + 4 913 =
3. 13 947 + 8 036 + 83 =
4. 3 004 + 7 845 + 7 236 =
5. 2 847 + 8 261 + 4 863 =
6. 2 479 + 370 + 5 211 =
7. 15 639 + 4 241 + 2 389 =
8. 4 700 + 5 984 + 314 =
9. 23 921 + 726 + 1 138 =
10. 65 479 + 241 124 + 895 =

10 points

http://www.laclassedeguena.eklablog.com

RALLYE MATHEMATIQUES

Fiche 1

Calcule les opérations suivantes. Pour que ta réponse soit validée, tu dois respecter les espaces entre les classes.

1. 2 541 + 539 + 742 =
2. 8 234 + 4 913 =
3. 13 947 + 8 036 + 83 =
4. 3 004 + 7 845 + 7 236 =
5. 2 847 + 8 261 + 4 863 =
6. 2 479 + 370 + 5 211 =
7. 15 639 + 4 241 + 2 389 =
8. 4 700 + 5 984 + 314 =
9. 23 921 + 726 + 1 138 =
10. 65 479 + 241 124 + 895 =

10 points

http://www.laclassedeguena.eklablog.com

RALLYE MATHEMATIQUES

Fiche 2

Calcule les opérations suivantes. Pour que ta réponse soit validée, tu dois respecter les espaces entre les classes.

1. 5 691 – 3 640 =
2. 4 384 – 273 =
3. 1 367 – 986 =
4. 4 059 – 3 862 =
5. 12 084 – 8 273 =
6. 3 690 – 2 637 =
7. 25 418 – 23 571 =
8. 4 736 – 3 682 =
9. 3 009 – 5 247 =
10. 9 006 – 541 =

10 points



RALLYE MATHEMATIQUES

Fiche 2

Calcule les opérations suivantes. Pour que ta réponse soit validée, tu dois respecter les espaces entre les classes.

1. 5 691 – 3 640 =
2. 4 384 – 273 =
3. 1 367 – 986 =
4. 4 059 – 3 862 =
5. 12 084 – 8 273 =
6. 3 690 – 2 637 =
7. 25 418 – 23 571 =
8. 4 736 – 3 682 =
9. 3 009 – 5 247 =
10. 9 006 – 541 =

10 points

http://www.laclassedeguena.eklablog.com

RALLYE MATHEMATIQUES

Fiche 3

Calcule les opérations suivantes. Pour que ta réponse soit validée, tu dois respecter les espaces entre les classes.

1. 5 471 x 16 =
2. 693 x 28 =
3. 3 471 x 54 =
4. 8 634 x 343 =
5. 345 x 634 =
6. 705 x 107 =
7. 2 657 x 836 =
8. 6 843 x 2 014 =
9. 3 407 x 1 820 =
10. 9 364 x 1 008 =

10 points



RALLYE MATHEMATIQUES

Fiche 3

Calcule les opérations suivantes. Pour que ta réponse soit validée, tu dois respecter les espaces entre les classes.

1. 5 471 x 16 =
2. 693 x 28 =
3. 3 471 x 54 =
4. 8 634 x 343 =
5. 345 x 634 =
6. 705 x 107 =
7. 2 657 x 836 =
8. 6 843 x 2 014 =
9. 3 407 x 1 820 =
10. 9 364 x 1 008 =

10 points

http://www.laclassedeguena.eklablog.com

RALLYE MATHEMATIQUES

Fiche 4

Reproduis la figure ci-dessous

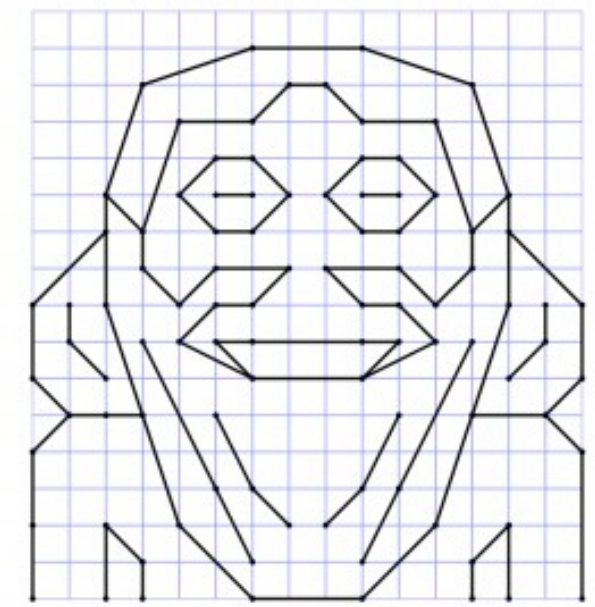

10 points



RALLYE MATHEMATIQUES

Fiche 4

Reproduis la figure ci-dessous

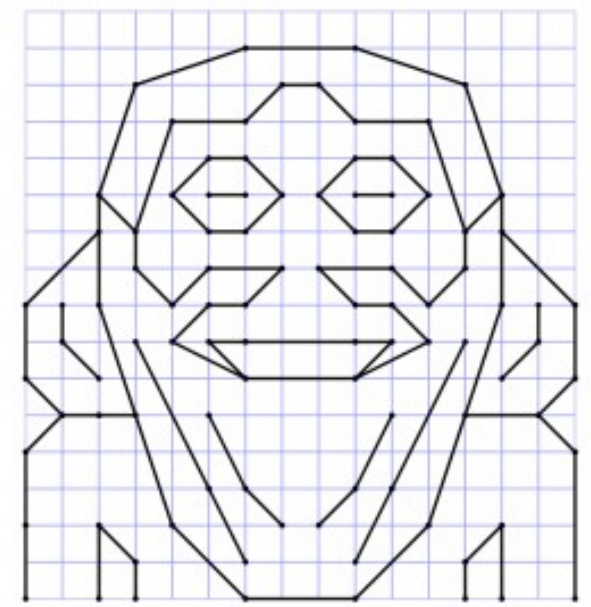

10 points

http://www.laclassedeguena.eklablog.com

RALLYE MATHEMATIQUES

Fiche 5

Reproduis la figure ci-dessous

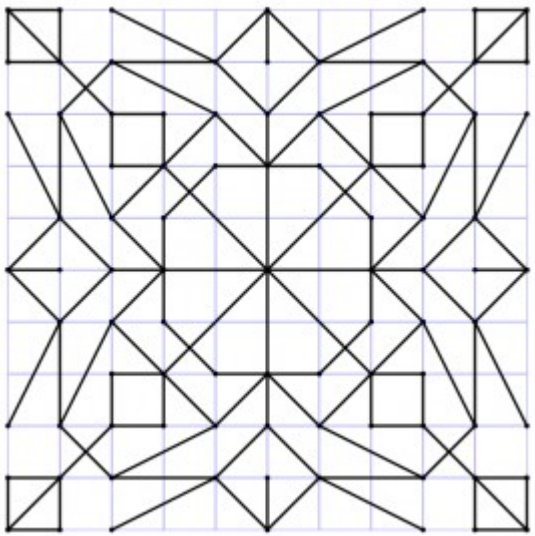

10 points

http://www.laclassedeguena.eklablog.com

RALLYE MATHEMATIQUES

Fiche 5

Reproduis la figure ci-dessous

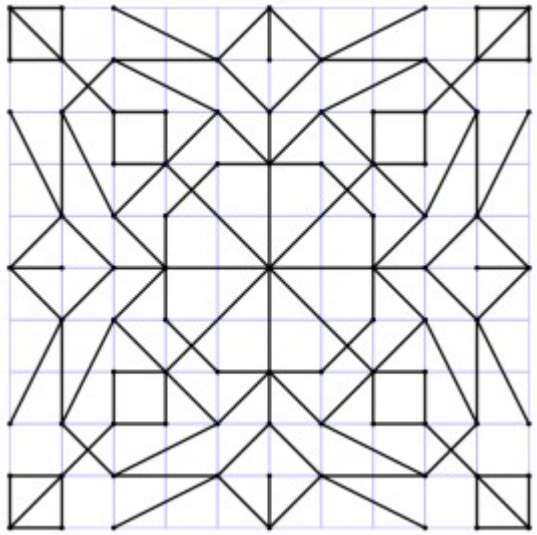

10 points

http://www.laclassedeguena.eklablog.com

RALLYE MATHEMATIQUES

Fiche 6

Reproduis la figure ci-dessous

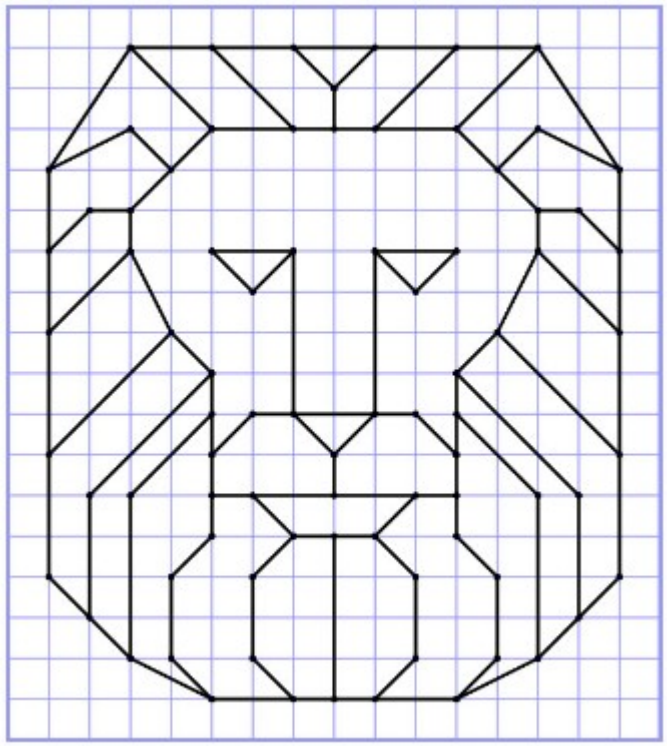

10 points

http://www.laclassedeguena.eklablog.com

RALLYE MATHEMATIQUES

Fiche 6

Reproduis la figure ci-dessous

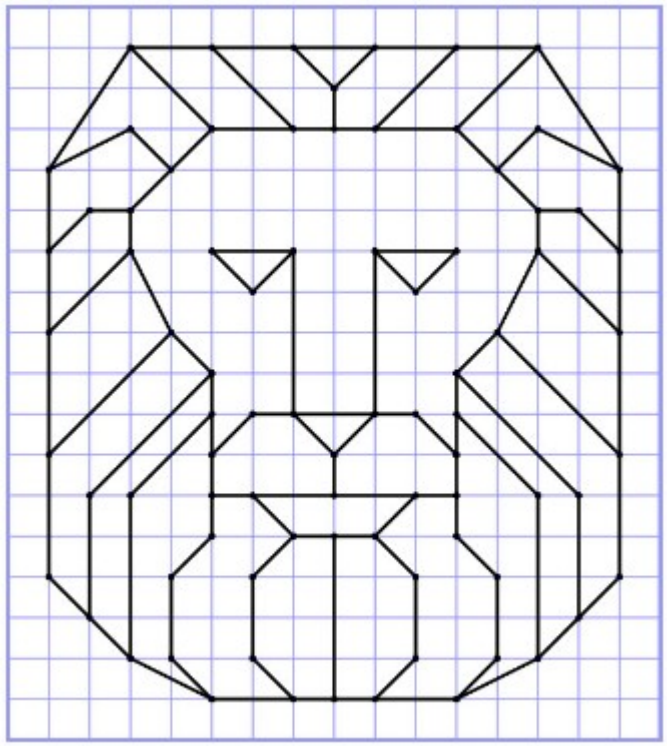

10 points

http://www.laclassedeguena.eklablog.com

RALLYE MATHEMATIQUES

Fiche 7

Reproduis la figure ci-dessous

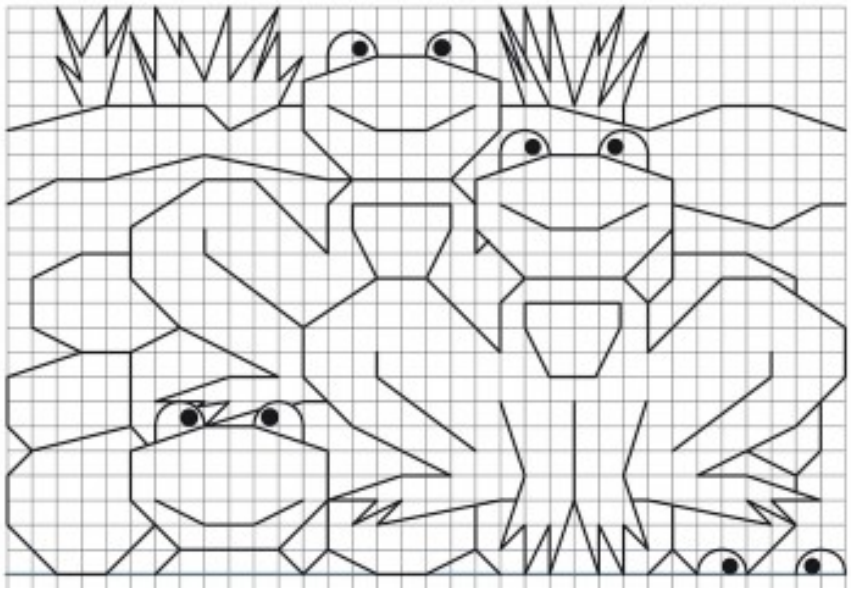

10 points

http://www.laclassedeguena.eklablog.com

RALLYE MATHEMATIQUES

Fiche 7

Reproduis la figure ci-dessous

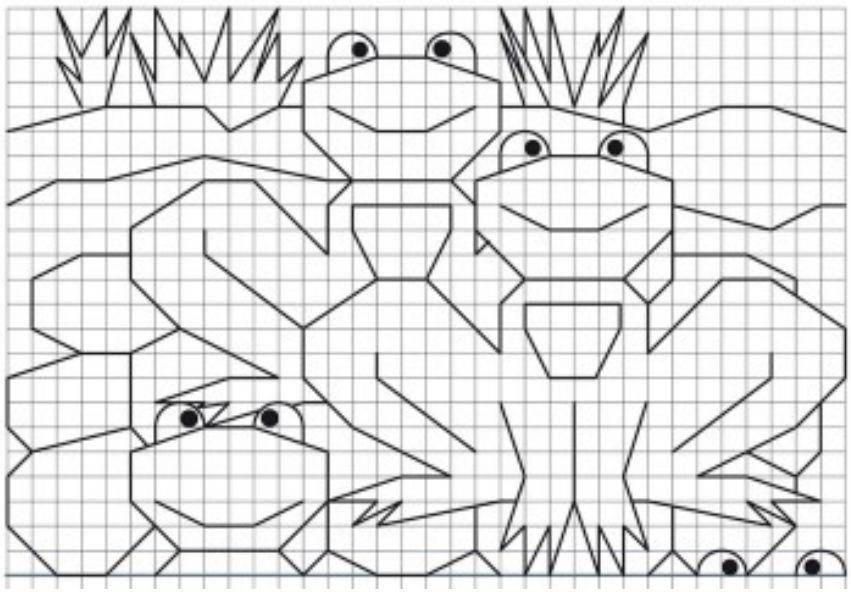

10 points

http://www.laclassedeguena.eklablog.com

RALLYE MATHEMATIQUES

Fiche 8

# Reproduis la figure ci-dessous

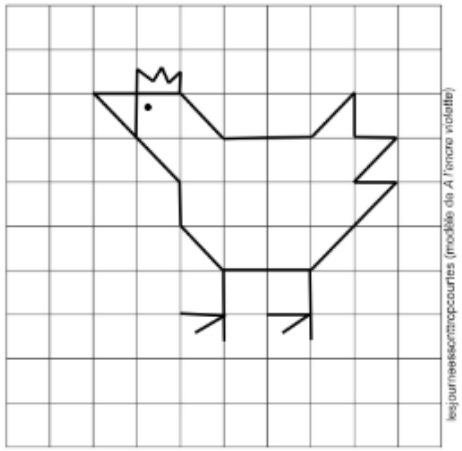


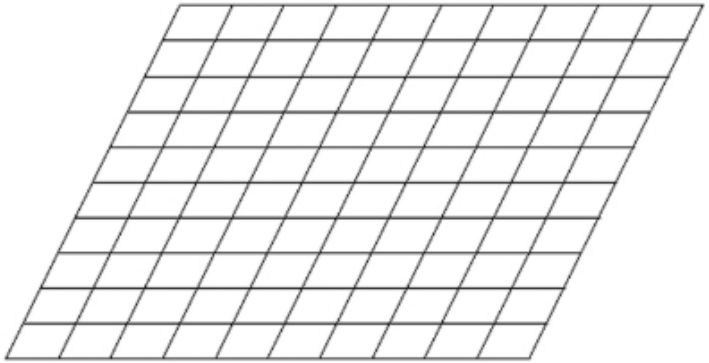

10 points



RALLYE MATHEMATIQUES

Fiche 8

Reproduis la figure ci-dessous

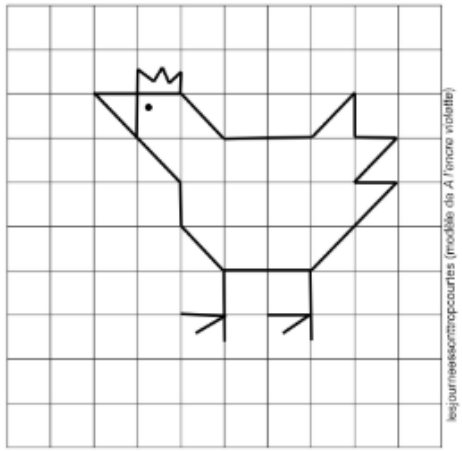


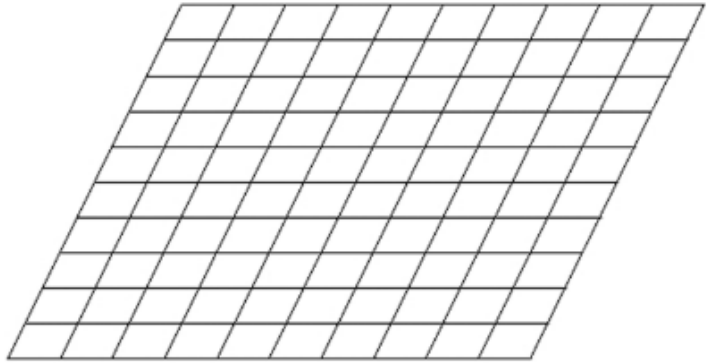

10 points

http://www.laclassedeguena.eklablog.com

RALLYE MATHEMATIQUES

Fiche 9

Ecris ces nombres en chiffres. Attention à bien respecter les espaces entre les classes pour que ta réponse soit raidée.

1. Trois-cent-soixante-dix-huit-mille-quatre-cent-vingt-trois
2. Deux-millions-cent-trente-huit-mille-sept-cent-quatre
3. Quarante-huit-millions-cint-cent-trente-mille-deux-cent-soixante-dix-huit
4. Quinze-millions-vingt-trois-mille-cinq-cent-trente-huit
5. Sept-cent-trente-neuf-milliards-quatre-cent-trois-millions-quarante-huit-mille-neuf-cent-vingt
6. Vingt-milliards-quatre-vingt-dix-neuf-millions-trois-cents
7. Huit-cent-neuf-millions-trente-et-un-mille-neuf-cents
8. Deux-cent-trente-huit-milliards-vingt-cinq-mille
9. Quatre-vingt-dix-neuf-milliards-neuf-cent-quatre-vingt-dix-neuf-mille-trente-huit
10. Cent-soixante-milliards-vingt-neuf-millions-deux-cents.

10 points



RALLYE MATHEMATIQUES

Fiche 9

Ecris ces nombres en chiffres. Attention à bien respecter les espaces entre les classes pour que ta réponse soit raidée.

1. Trois-cent-soixante-dix-huit-mille-quatre-cent-vingt-trois
2. Deux-millions-cent-trente-huit-mille-sept-cent-quatre
3. Quarante-huit-millions-cint-cent-trente-mille-deux-cent-soixante-dix-huit
4. Quinze-millions-vingt-trois-mille-cinq-cent-trente-huit
5. Sept-cent-trente-neuf-milliards-quatre-cent-trois-millions-quarante-huit-mille-neuf-cent-vingt
6. Vingt-milliards-quatre-vingt-dix-neuf-millions-trois-cents
7. Huit-cent-neuf-millions-trente-et-un-mille-neuf-cents
8. Deux-cent-trente-huit-milliards-vingt-cinq-mille
9. Quatre-vingt-dix-neuf-milliards-neuf-cent-quatre-vingt-dix-neuf-mille-trente-huit
10. Cent-soixante-milliards-vingt-neuf-millions-deux-cents.

10 points

http://www.laclassedeguena.eklablog.com

RALLYE MATHEMATIQUES

Fiche 10

Recopie le plus grand nombre.

1. 36 147 258 – 8 526 843
2. 25 368 418 – 24 381 574
3. 306 714 820 – 4 306 814 258
4. 241 471 859 – 241 514 856
5. 36 258 256 234 – 36 285 265 234
6. 714 240 039 952 – 714 240 093 952
7. 3 584 247 471 – 3 824 586
8. 111 253 252 364 – 111 253 428 246
9. 025 741 936 000 – 205 425 369 000
10. 636 636 636 636 – 636 636 686 636

10 points



RALLYE MATHEMATIQUES

Fiche 10

Recopie le plus grand nombre.

1. 36 147 258 – 8 526 843
2. 25 368 418 – 24 381 574
3. 306 714 820 – 4 306 814 258
4. 241 471 859 – 241 514 856
5. 36 258 256 234 – 36 285 265 234
6. 714 240 039 952 – 714 240 093 952
7. 3 584 247 471 – 3 824 586
8. 111 253 252 364 – 111 253 428 246
9. 025 741 936 000 – 205 425 369 000
10. 636 636 636 636 – 636 636 686 636

10 points

http://www.laclassedeguena.eklablog.com

RALLYE MATHEMATIQUES

Fiche 11

Résous les problèmes suivants. Inscris sur ta fiche réponse ton/tes calculs (en ligne) et le(s) résultat(s).

1. Pierre qui habite Nancy prend sa voiture pour se rendre à Paris. La distance entre les deux villes est de 347 kilomètres. Après avoir parcouru 159 km, il s'arrête pour déjeuner. Après en avoir parcouru 86 de plus, il s'arrête prendre un café. Combien de kilomètres lui reste-t-il à faire pour arriver à Paris ?

2. La guerre de 100 ans a commencé en 1337. Elle s'est achevée en 1453. Combien de temps cette guerre a-t-elle duré en réalité ?

3. La fleuriste vend des bouquets de roses. Dans chaque bouquet, il y a 5 roses, 4 marguerites et 2 lys.
Alice achète 3 bouquets. Combien a-t-elle de fleurs en tout ?

4. Lisa pèse 35kg. Elle pèse 23 kg de moins que sa maman. Combien se maman pèse-t-elle ?

5. Sur un parking, hier à 10 h, il y avait 48 voitures et 4 motos. Aujourd'hui, à la même heure, il y en a quatre fois plus. Combien y a-t-il de roues sur le parking ?

10 points



RALLYE MATHEMATIQUES

Fiche 11

Résous les problèmes suivants. Inscris sur ta fiche réponse ton/tes calculs (en ligne) et le(s) résultat(s).

1. Pierre qui habite Nancy prend sa voiture pour se rendre à Paris. La distance entre les deux villes est de 347 kilomètres. Après avoir parcouru 159 km, il s'arrête pour déjeuner. Après en avoir parcouru 86 de plus, il s'arrête prendre un café. Combien de kilomètres lui reste-t-il à faire pour arriver à Paris ?

2. La guerre de 100 ans a commencé en 1337. Elle s'est achevée en 1453. Combien de temps cette guerre a-t-elle duré en réalité ?

3. La fleuriste vend des bouquets de roses. Dans chaque bouquet, il y a 5 roses, 4 marguerites et 2 lys.
Alice achète 3 bouquets. Combien a-t-elle de fleurs en tout ?

4. Lisa pèse 35kg. Elle pèse 23 kg de moins que sa maman. Combien se maman pèse-t-elle ?

5. Sur un parking, hier à 10 h, il y avait 48 voitures et 4 motos. Aujourd'hui, à la même heure, il y en a quatre fois plus. Combien y a-t-il de roues sur le parking ?

10 points

http://www.laclassedeguena.eklablog.com

RALLYE MATHEMATIQUES

Fiche 12

Trace le symétrique de cette figure.

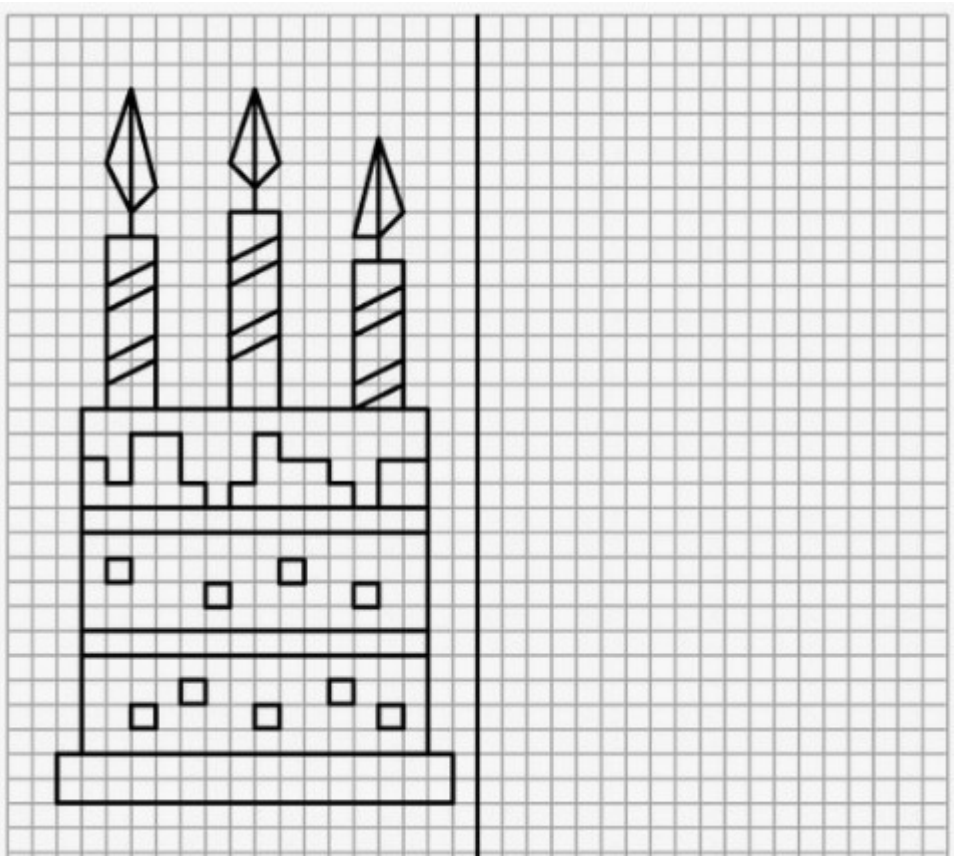

10 points

http://www.laclassedeguena.eklablog.com

RALLYE MATHEMATIQUES

Fiche 12

Trace le symétrique de cette figure.

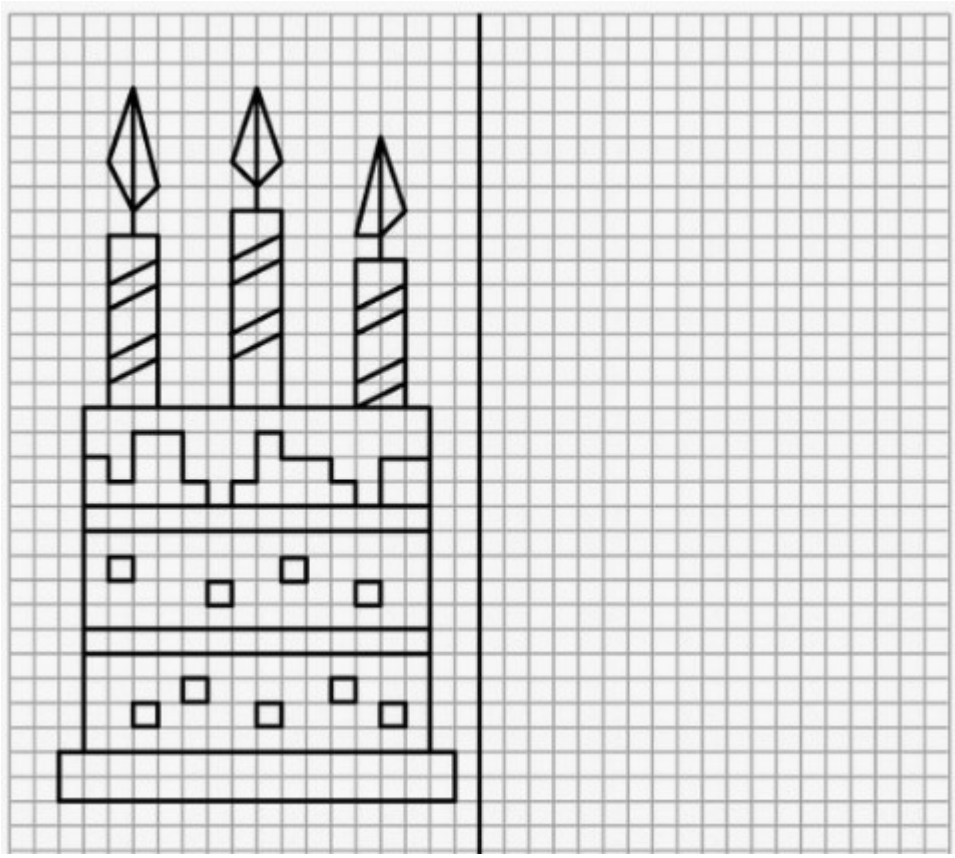

10 points

http://www.laclassedeguena.eklablog.com

RALLYE MATHEMATIQUES

Fiche 13

Trace le symétrique de cette figure.

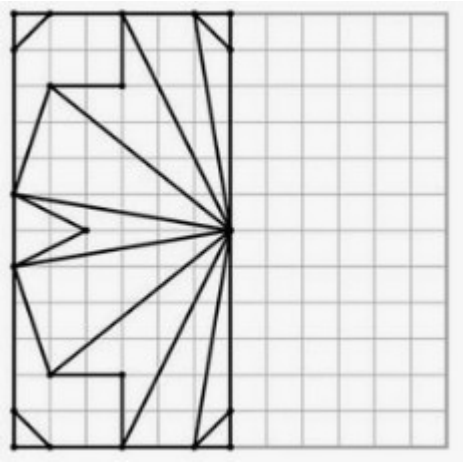

10 points



RALLYE MATHEMATIQUES

Fiche 13

Trace le symétrique de cette figure.

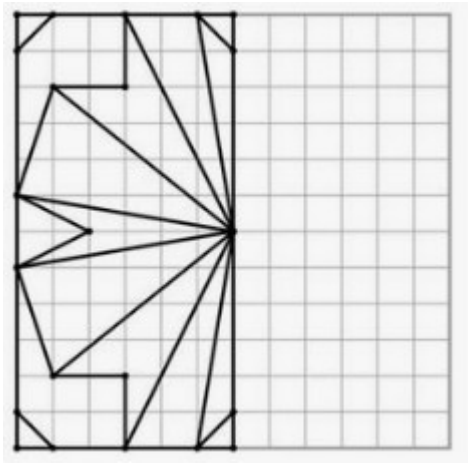

10 points

http://www.laclassedeguena.eklablog.com

RALLYE MATHEMATIQUES

Fiche 14

Trace le symétrique de cette figure.

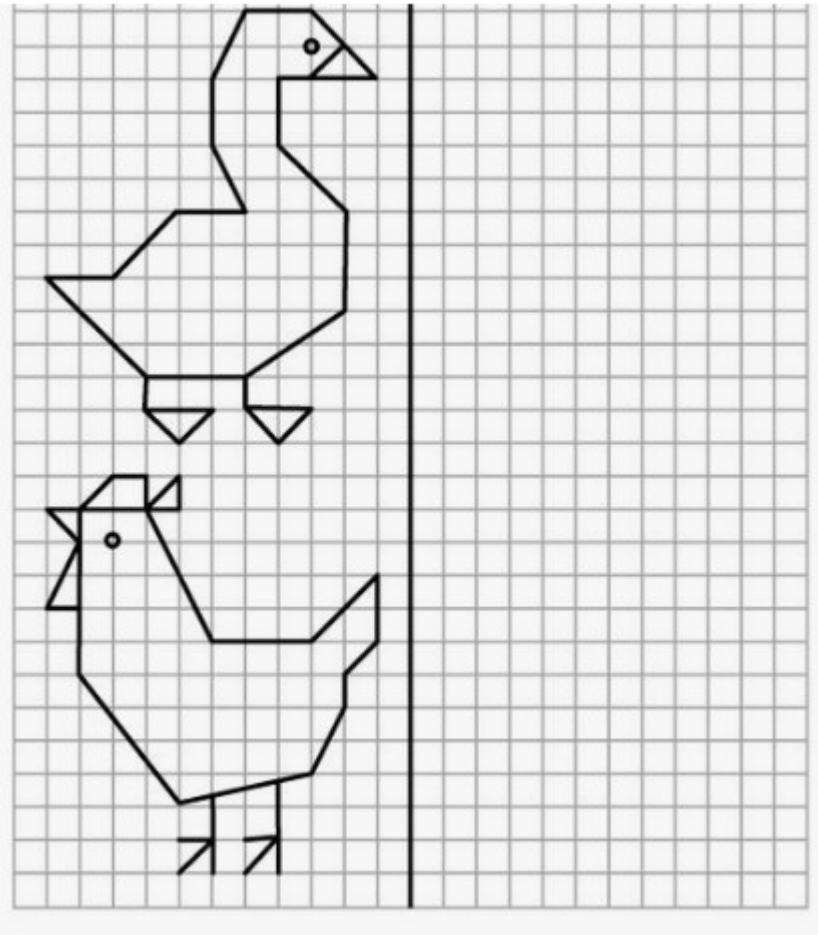

10 points



RALLYE MATHEMATIQUES

Fiche 14

Trace le symétrique de cette figure.

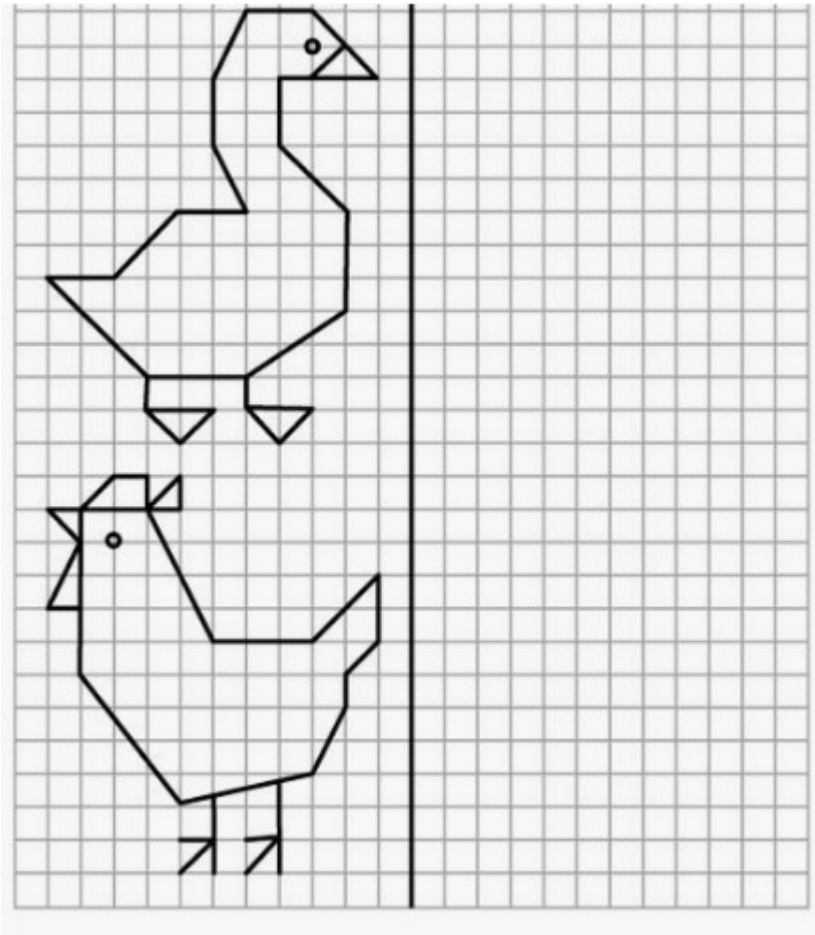

10 points

http://www.laclassedeguena.eklablog.com

RALLYE MATHEMATIQUES

Fiche 15

Trace le symétrique de cette figure.

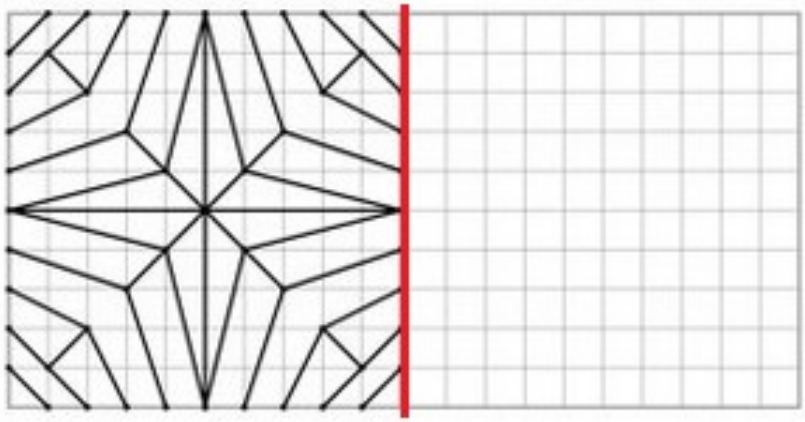

10 points



RALLYE MATHEMATIQUES

Fiche 15

Trace le symétrique de cette figure.

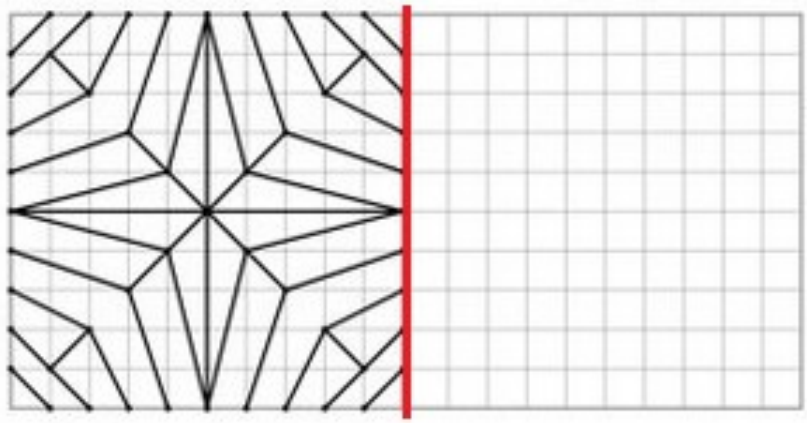

10 points

http://www.laclassedeguena.eklablog.com

RALLYE MATHEMATIQUES

Fiche 16

Agrandis cette figure en multipliant les dimensions par 2.

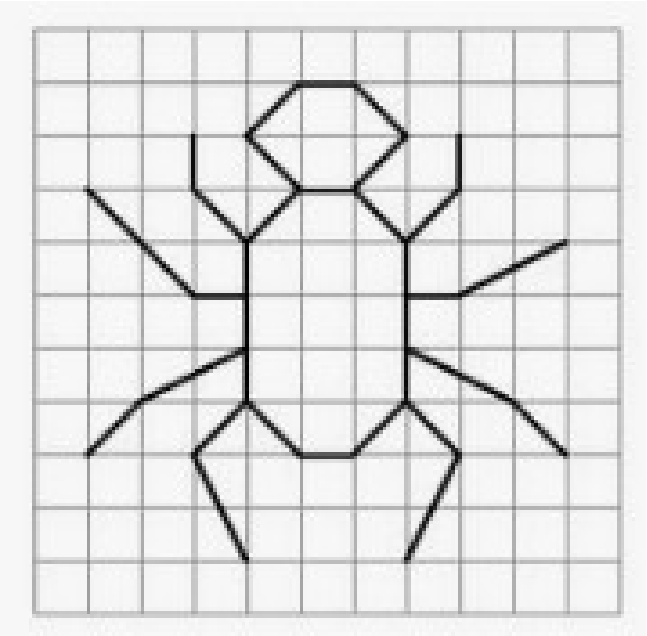

10 points



RALLYE MATHEMATIQUES

Fiche 16

Agrandis cette figure en multipliant les dimensions par 2.

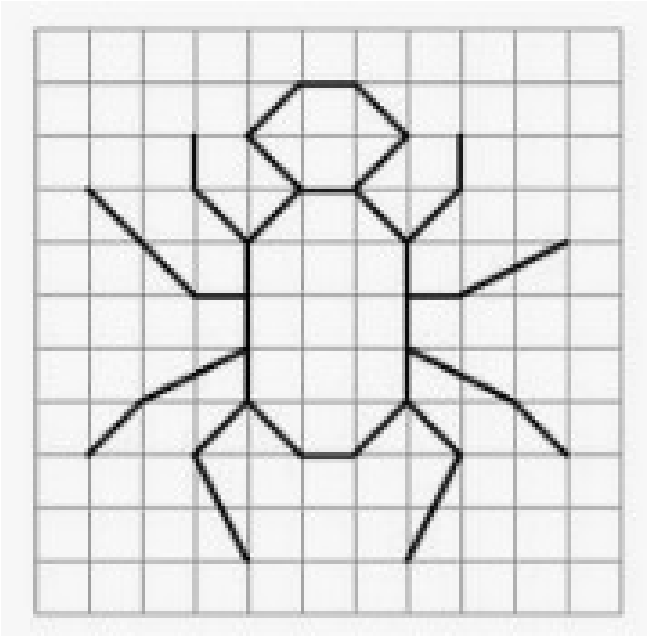

10 points

http://www.laclassedeguena.eklablog.com

RALLYE MATHEMATIQUES

Fiche 17

Agrandis cette figure en multipliant les dimensions par 3.



10 points



RALLYE MATHEMATIQUES

Fiche 17

Agrandis cette figure en multipliant les dimensions par 3.

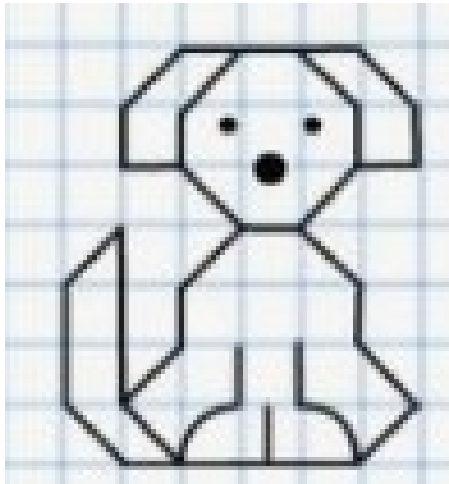

10 points

http://www.laclassedeguena.eklablog.com

RALLYE MATHEMATIQUES

Fiche 18

Agrandis cette figure en multipliant les dimensions par 2.

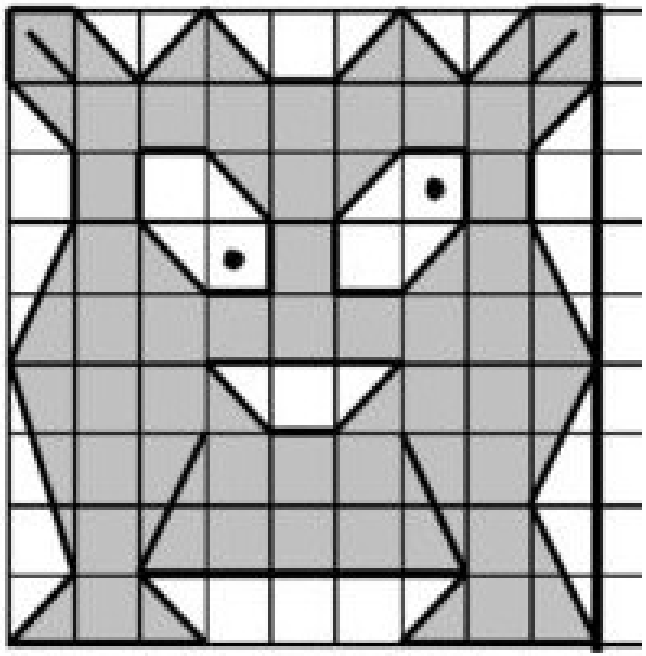

10 points



RALLYE MATHEMATIQUES

Fiche 18

Agrandis cette figure en multipliant les dimensions par 2.

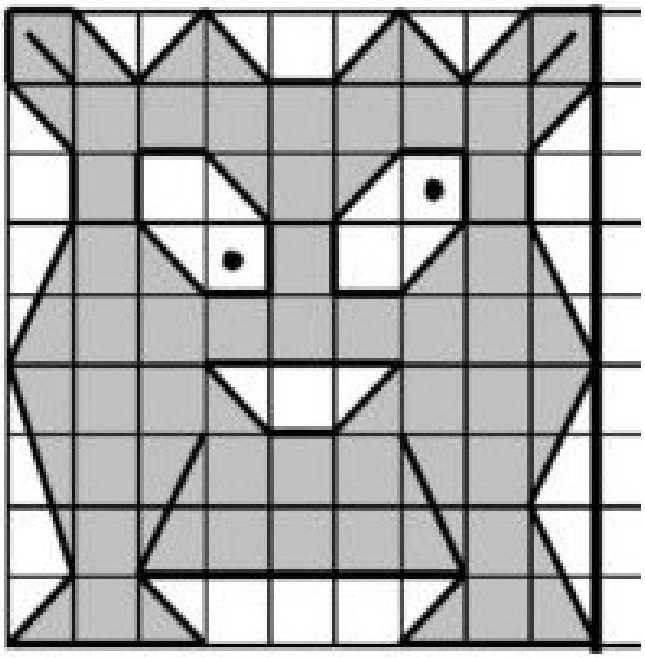

10 points

http://www.laclassedeguena.eklablog.com