Mes petits problèmes quotidiens

S1 -J1 S1 –J2 S1 –J3 S1 –J4

S2 -J1 S2 –J2 S2 –J3 S2 –J4

S3 -J1 S3 –J2 S3 –J3 S3 –J4

S4 -J1 S4 –J2 S4 –J3 S4 –J4

S5 -J1 S5 –J2 S5 –J3 S5 –J4

S6 -J1 S6 –J2 S6 –J3 S6 –J4

Problèmes CE1

PROBLEMES CE2

CE2 SEMAINE 1

PROBLEME DE TRANSFORMATION → Recherche de l'état initial

CE2 SEMAINE 1

Niveau 2

Iris reçoit 17€ de sa tante. Elle a maintenant 39€. Trouve combien elle avait d'argent avant.

TOTAL=

Niveau 3

Iris reçoit un billet de 10€, un billet de 5€ et une pièce de 2€ de sa tante. Elle a maintenant 39€ . Trouve combien elle avait d'argent avant.

CE2 SEMAINE 1

Niveau 2

A la récréation, Diégo a gagné 15 billes. Maintenant il en a 46. Combien Diégo avait-il de billes avant la récréation?

TOTAL=

Niveau 3

A la récréation, Diégo a gagné 15 billes. Maintenant il en a 146. Combien Diégo avait-il de billes avant la récréation?

CE2 SEMAINE 1

Niveau 2

La grand-mère de Gabriel lui donne 14€, maintenant il a 20€. Combien avait-il d'argent avant?

TOTAL=

Niveau 3

La grand-mère de Gabriel lui donne un billet de 10€ et deux pièces de 2€, maintenant il a 100€. Combien avait-il d'argent avant?

CE2 SEMAINE 1

Niveau 2

Maman travaille dans une tour. Elle sort de son bureau et monte 5 étages pour porter un document à l'étage 20. A quel étage est son bureau?

TOTAL=

Niveau 3

Maman travaille dans une tour. Elle sort de son bureau , monte de 8 étages mais se trompe et redescend de 3 étages pour porter un document à l'étage 20. A quel étage est son bureau?

CE2 | SEMAINE 2

PROBLEME DE TRANSFORMATION
→ Recherche de l’état initial

Niveau 2

Diégo avait des billes. Il en donne 15 à Julie. Maintenant Diégo a 25 billes. Combien avait-il de billes avant?

TOTAL=

Niveau 3

Diégo avait des billes. Il en donne 15 à Julie. Maintenant Diégo a 105 billes. Combien avait-il de billes avant?

CE2 SEMAINE 2

Niveau 2

A la récréation, la maitresse a distribué des fruits. Les élèves ont mangé 24 fruits. Il en reste 6. Combien de fruits y'avait il en tout?

TOTAL=

Niveau 3

A la récréation, la maitresse a distribué des fruits. Les élèves ont mangé 24 fruits. Il en reste 16. Combien de fruits y'avait il en tout?

Niveau 2

Pendant la récréation , David a perdu 24 billes. Maintenant , il lui reste 8 billes. Combien de billes David avait au début de la récréation?

TOTAL=

Niveau 3

Pendant la récréation , David a perdu 24 billes. Maintenant , il lui reste 18 billes. Combien de billes David avait au début de la récréation?

CE2 SEMAINE 2

Niveau 2

Papa est allé au marché. Il a dépensé 34€ . Il revient avec 16€. Combien d'argent avait-il pris pour aller au marché?

TOTAL=

Niveau 3

Papa est allé au marché. Il a dépensé 134€ . Il revient avec 16€. Combien d'argent avait-il pris pour aller au marché?

CE2 SEMAINE 3

PROBLEME DE TRANSFORMATION

→ Recherche de la transformation

Niveau 2

David a 45 fraises. Après en avoir donné à ses copains, il lui en reste 8. Combien David a-t-il donné de fraises?

TOTAL=

Niveau 3

David a 45 fraises. Après en avoir donné à ses copains, il lui en reste 18. Combien David a-t-il donné de fraises?

Niveau 2

Lana avait 50 perles. Elle a fabriqué un collier. Il lui reste 21 perles. Combien a-t-elle utilisé de perles?

TOTAL=

Niveau 3

Lana avait 150 perles. Elle a fabriqué un collier. Il lui reste 121 perles. Combien a-t-elle utilisé de perles?

CE2 SEMAINE 3

Niveau 2

Dans un verger, il y a 42 arbres. La tempête casse des arbres. Il reste 28 arbres debout. Combien d'arbres ont été cassés par la tempête?

TOTAL=

Niveau 3

Dans un verger, il y a 142 arbres. La tempête casse des arbres. Il reste 28 arbres debout. Combien d'arbres ont été cassés par la tempête?

CE2 SEMAINE 3

Niveau 2

A la rentrée, la maîtresse a commandé 100 feutres. A la fin de l'année, elle en compte 34. Combien la maitresse a-t-elle distribué de feutres pendant l'année?

TOTAL=

Niveau 3

A la rentrée, la maîtresse a commandé 120 feutres. A la fin de l'année, elle en compte 34. Combien la maitresse a-t-elle distribué de feutres pendant l'année?

CE2 SEMAINE 4

PROBLEME DE TRANSFORMATION → Recherche de l'état initial

CE2 SEMAINE 4

Niveau 2

L'oiseau a mangé 13 graines. Il en reste 45. Combien y'avait il de graines avant son repas?

TOTAL=

Niveau 3

L'oiseau a mangé 13 graines. Il en reste 145. Combien y'avait il de graines avant son repas?

CE2 SEMAINE 4

Niveau 2

A la fin de l'année, il y a 25 élèves dans la classe. 6 élèves se sont inscrits pendant l'année. Combien y'avait – il d'élèves en début d'année?

TOTAL=

Niveau 3

A la fin de l'année, il y a 28 élèves dans la classe. 4 élèves se sont inscrits au premier trimestre et 2 élèves se sont inscrits au dernier trimestre. Combien y'avait – il d'élèves en début d'année?

CE2 SEMAINE 4

Niveau 2

Lana la pirate a gagné 45 pièces d'or. Elle en a maintenant 67. Combien avait-elle de pièces d'or au départ?

TOTAL=

Niveau 3

Lana la pirate a gagné 145 pièces d'or. Elle en a maintenant 167. Combien avait-elle de pièces d'or au départ?

CE2 SEMAINE 4

Niveau 2

L'oiseau a mangé 29 graines. Il en reste 8, Combien y'avait – il de graines au départ?

TOTAL=

Niveau 3

L'oiseau a mangé 129 graines. Il en reste 38, Combien y'avait – il de graines au départ?

CE2 SEMAINE 5

PROBLEME DE COMPOSITION

→ Recherche de la partie et du tout

Niveau 2

Nino a 53 billes. 17 sont rouges et les autres sont bleues. Combien Nino a-t-il de billes bleues?

TOTAL=

Niveau 3

Nino a 153 billes. 117 sont rouges et les autres sont bleues. Combien Nino a-t-il de billes bleues?

Niveau 2

Dans la classe, il y a 29 élèves. 13 d'entre eux sont des garçons. Combien y'a-t-il de filles?

TOTAL=

Niveau 3

Dans l'école, il y a 129 élèves. 83 d'entre eux sont des garçons. Combien y'a-t-il de filles?

Niveau 2

Emmy a gagné 27 billes jaunes et 19 billes vertes. Combien a-t-elle gagné de billes en tout?

TOTAL=

Niveau 3

Emmy a gagné 127 billes jaunes et 119 billes vertes. Combien a-t-elle gagné de billes en tout?

Niveau 2

Dans la boite, il y a 56 jetons. 17 jetons sont noirs. Les autres sont blancs. Combien y'a-t-il de jetons blancs dans la boite?

TOTAL=

Niveau 3

Dans la boite, il y a 156 jetons. 117 jetons sont noirs. Les autres sont blancs. Combien y'a-t-il de jetons blancs dans la boite?

CE2 SEMAINE 6

PROBLEME DE DIVISION

→ Recherche de la valeur de la part

Niveau 2

Lana distribue équitablement 48 cartes à 6 joueurs. Combien chaque joueur reçoit-il de cartes?

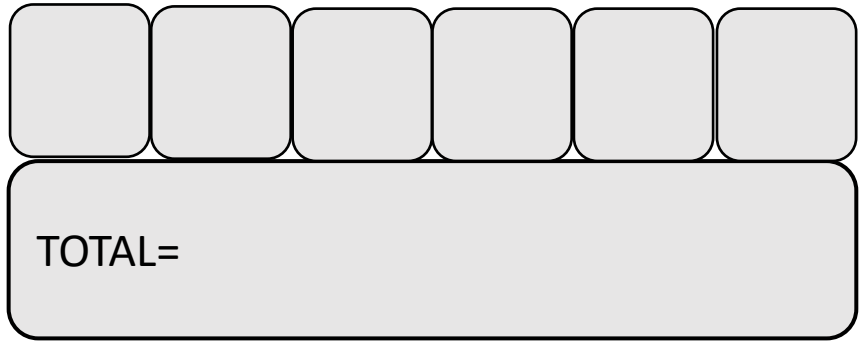

Niveau 3

Lana distribue équitablement 30 et 18 cartes à 6 joueurs. Combien chaque joueur reçoit-il de cartes?

CE2 SEMAINE 6

Niveau 2

Gabriel range 24 voitures dans 4 boîtes. Il met le même nombre de voitures dans chaque boite. Combien met-il de voitures dans chaque boite?

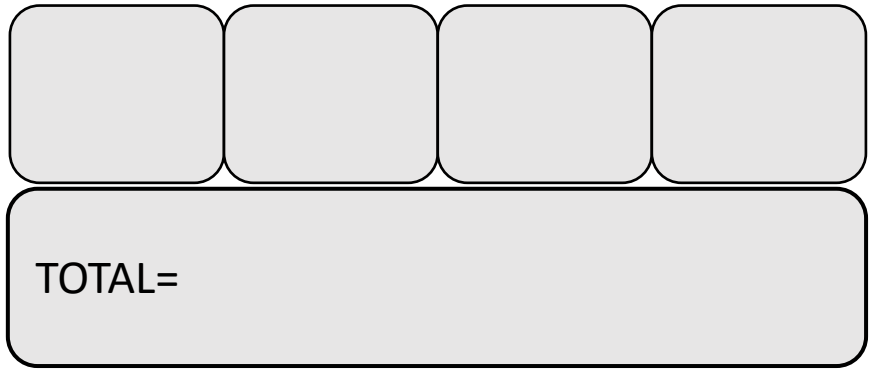

Niveau 3

Gabriel range 14 voitures bleues et 10 voitures rouges dans 4 boîtes. Il met le même nombre de voitures dans chaque boite. Combien met-il de voitures dans chaque boite?

CE2 SEMAINE 6

Niveau 2

Le maitre achète 10 livres qui coûtent tous le même prix. Il paye 100€ combien coûte 1 livre?

TOTAL=

Niveau 3

Le maitre achète 20 livres qui coûtent tous le même prix. Il paye 100€ combien coûte 1 livre?

Niveau 2

Diégo a 18 billes. Il constitue 6 paquets identiques de billes. Combien de billes y'a-t-il dans chaque paquet?

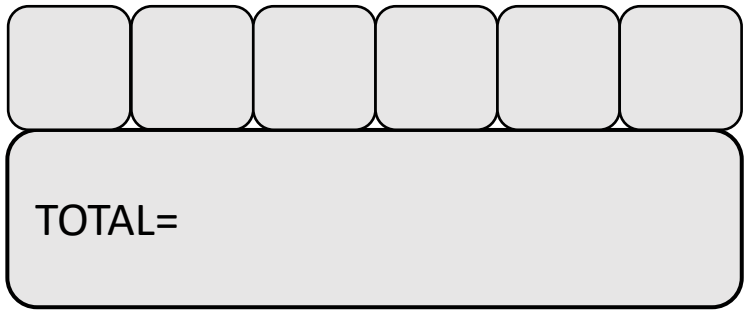

Niveau 3

Diégo a 48 billes. Il constitue 6 paquets identiques de billes. Combien de billes y'a-t-il dans chaque paquet?

S1 -J1 S1 –J2 S1 –J3 S1 –J4

S2 -J1 S2 –J2 S2 –J3 S2 –J4

S3 -J1 S3 –J2 S3 –J3 S3 –J4

S4 -J1 S4 –J2 S4 –J3 S4 –J4

S5 -J1 S5 –J2 S5 –J3 S5 –J4

S6 -J1 S6 –J2 S6 –J3 S6 –J4

PROBLEMES CE1

CE1 | SEMAINE 1

PROBLEME DE TRANSFORMATION

→ Recherche de la transformation

Niveau 1

Maria avait 14€. Elle reçoit de l'argent. Maintenant elle a 25€. Combien Maria a-t-elle reçu d'argent?

TOTAL=

Niveau 1

Maria avait 14€. Elle reçoit de l'argent. Maintenant elle a 25€. Combien Maria a-t-elle reçu d'argent?

AVANT

14€

?

MAINTENANT

25€

TOTAL=	

Niveau 1

Sur la table , il y a 17 assiettes. On en rajoute, maintenant il y en a 23. Combien a-t-on rajouté d'assiettes?

TOTAL=

Niveau 1

Sur la table , il y a 17 assiettes. On en rajoute, maintenant il y en a 23. Combien a-t-on rajouté d'assiettes?

AVANT

MAINTENANT

?

17 → **23**

TOTAL=

Niveau 1

Avant la récréation, Lucas avait 5 billes. Après la récréation il en a 15. Combien a-t-il gagné de billes à la récréation?

TOTAL=

Niveau 1

Avant la récréation, Lucas avait 5 billes. Après la récréation il en a 15. Combien a-t-il gagné de billes à la récréation?

AVANT

5

?

APRES

15

TOTAL=	

Niveau 1

Il y avait 12 oiseaux dans l'arbre. Il y en a maintenant 17. Combien d'oiseaux se sont posés?

TOTAL=

Niveau 1

Il y avait 12 oiseaux dans l'arbre. Il y en a maintenant 17. Combien d'oiseaux se sont posés?

AVANT

12

?

MAINTENANT

17

TOTAL=	

CE1 SEMAINE 2

PROBLEME DE TRANSFORMATION

→ Recherche de la transformation

Niveau 1

Maman est parti au marché avec 20€. Elle revient avec 7€. Combien a-t-elle dépensé?

TOTAL=

CE1 SEMAINE 2

Niveau 1

Maman est parti au marché avec 20€. Elle revient avec 7€. Combien a-t-elle dépensé?

DEPART

20€

?

RETOUR

7€

TOTAL=	

Niveau 1

Yanis a 25€ , il achète une plante pour sa mère. Il a maintenant 12€ dans son porte-monnaie. Combien a-t-il payé la plante?

TOTAL=

SEMAINE 2

CE1

Niveau 1

Yanis a 25€ , il achète une plante pour sa mère. Il a maintenant 12€ dans son porte-monnaie. Combien a-t-il payé la plante?

DEPART

25€

?

RETOUR

12€

TOTAL=

Niveau 1

Il y a 30 parts de gâteaux pour le goûter. Il en reste 5. Combien de parts de gâteaux ont été mangées?

TOTAL=

Niveau 1

Il y a 30 parts de gâteaux pour le goûter. Il en reste 5. Combien de parts de gâteaux ont été mangées?

DEPART

30

?

FIN

5

TOTAL=

Niveau 1

Ethan avait 21 billes. Il en a donné à Fatima. Maintenant il a 13 billes. Combien a-t-il donné de billes à Fatima?

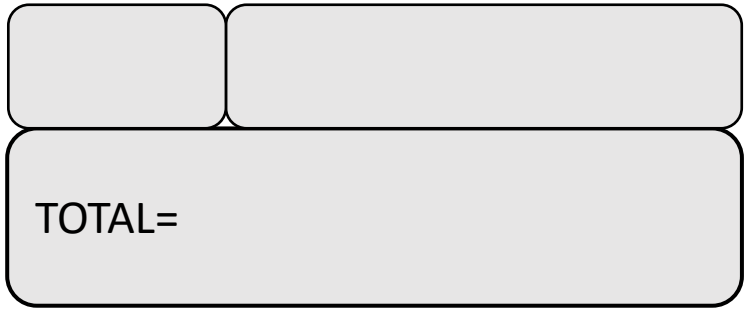

Niveau 1

Ethan avait 21 billes. Il en a donné à Fatima. Maintenant il a 13 billes. Combien a-t-il donné de billes à Fatima?

DEPART

21

?

FIN

13

TOTAL=	

CE1 | SEMAINE 3

PROBLEME DE TRANSFORMATION
→ Recherche de la quantité totale

Niveau 1

Hugo avait 22 billes . Il donne 13 billes à Louise. Combien Hugo a-t-il de billes maintenant?

TOTAL=

CE1 | SEMAINE 3

Niveau 1

Hugo avait 22 billes . Il donne 13 billes à Louise. Combien Hugo a-t-il de billes maintenant?

DEPART

FIN



TOTAL=	

Niveau 1

Valentin a 23 cerises. Il en mange 7. Combien lui en reste t-il?

TOTAL=

CE1 | SEMAINE 3

Niveau 1

Valentin a 23 cerises. Il en mange 7. Combien lui en reste t-il?

DEPART

23

7

FIN

?

TOTAL=	

Niveau 1

Adixia joue aux cartes avec son père. Elle a 32 cartes au début du jeu. Elle en gagne 16. Combien a-t-elle de cartes maintenant?

TOTAL=

Niveau 1

Adixia joue aux cartes avec son père. Elle a 32 cartes au début du jeu. Elle en gagne 16. Combien a-t-elle de cartes maintenant?

DEPART

32

16

FIN

?

TOTAL=	

Niveau 1

A l'école , il y avait 17 ballons. La maitresse en a commandé 8 nouveaux. Combien de ballons y a-t-il maintenant?

TOTAL=

CE1 SEMAINE 3

Niveau 1

A l'école , il y avait 17 ballons. La maitresse en a commandé 8 nouveaux. Combien de ballons y a-t-il maintenant?

DEPART

17

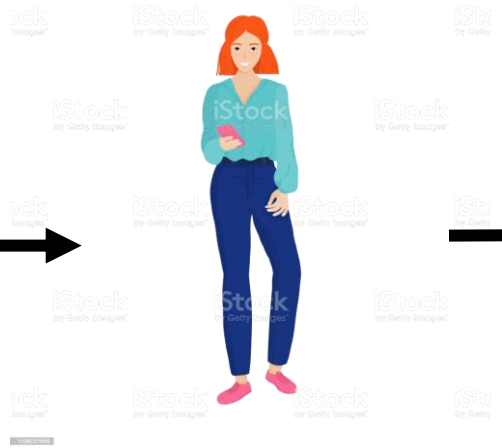

8

FIN

?

TOTAL=	

CE1 | SEMAINE 4

PROBLEME DE MULTIPLICATION
→ Recherche du produit

Niveau 1

J’ai une tablette de 3 carreaux sur 4 carreaux. Quel est le nombre de carreaux de chocolats?

Niveau 1

J'ai une tablette de 3 carreaux sur 4 carreaux. Quel est le nombre de carreaux de chocolats?

TOTAL=

Niveau 1

Dans un parking , il y a 3 rangées de 6 places. Combien y’a-t-il de places dans ce parking?

Niveau 1

Dans un parking , il y a 3 rangées de 6 places. Combien y'a-t-il de places dans ce parking?

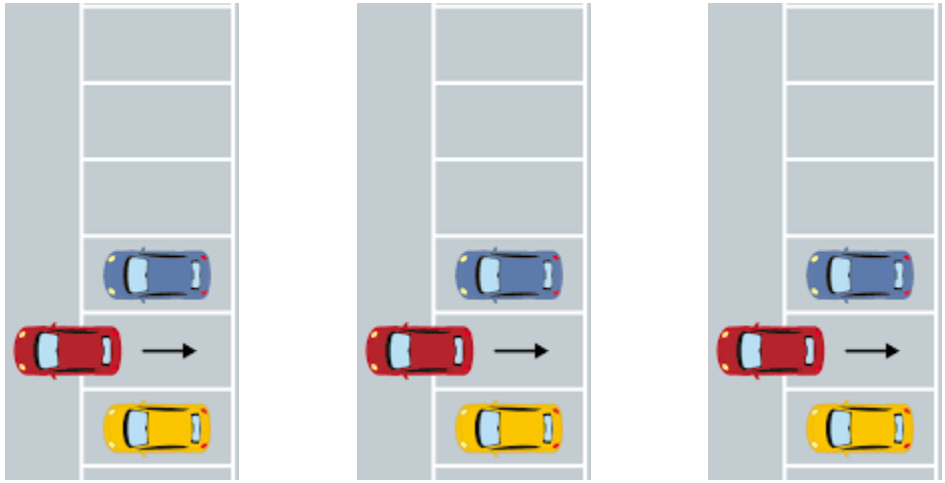

TOTAL=

Niveau 1

Tiago a planté 3 lignes de 5 tulipes. Combien de tulipes a-t-il planté?

Niveau 1

Tiago a planté 3 lignes de 5 tulipes. Combien de tulipes a-t-il planté?

TOTAL=

Niveau 1

Dans une salle de classe, il y a 5 rangées de 3 élèves. Combien y'a-t-il d'élèves?

Niveau 1

Dans une salle de classe, il y a 5 rangées de 3 élèves. Combien y'a-t-il d'élèves?

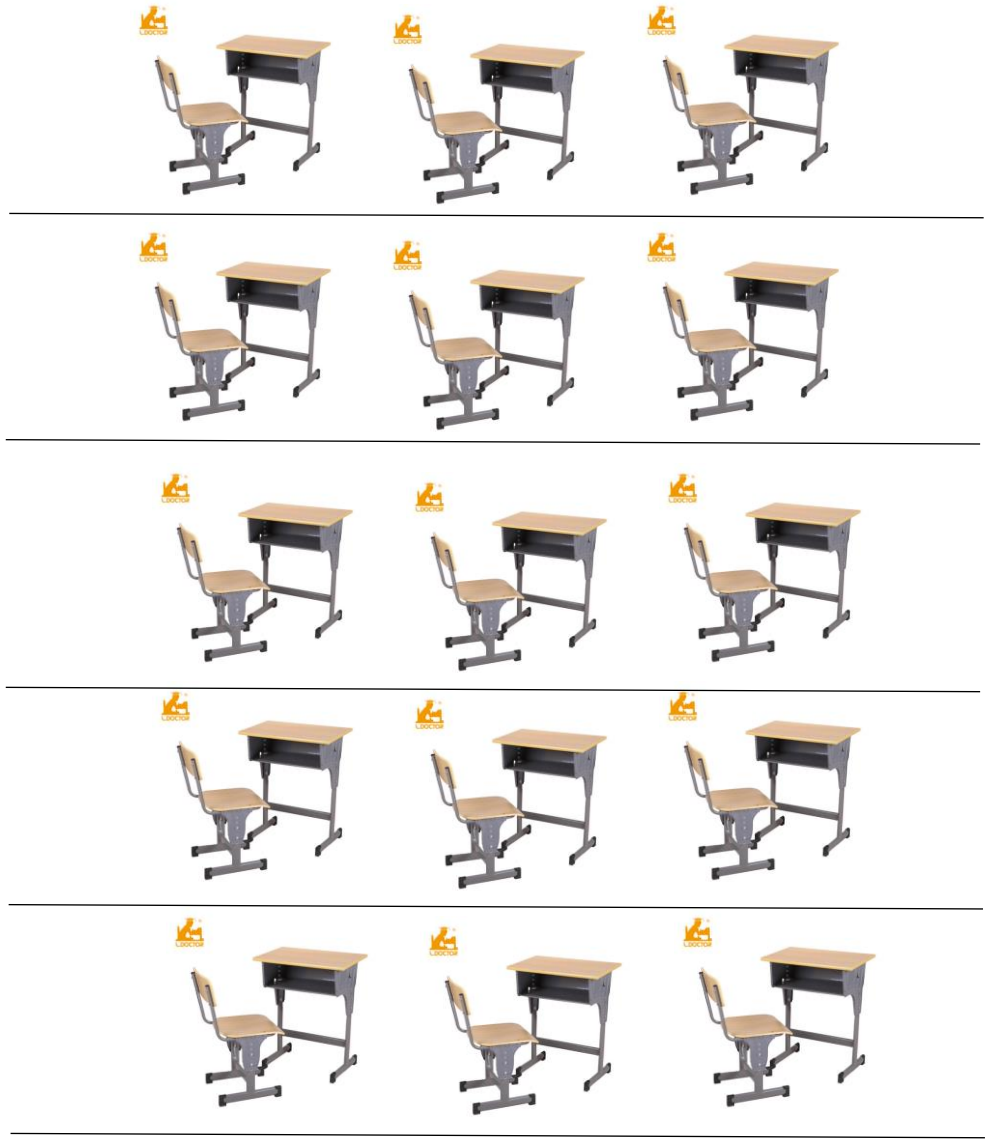

TOTAL=

CE1 | SEMAINE 5

PROBLEME DE MULTIPLICATION
→ Recherche du produit

Niveau 1

Lucas lance 3 dés qui marquent tous 5. Combien obtient-il de points?

Niveau 1

Lucas lance 3 dés qui marquent tous 5. Combien obtient-il de points?

TOTAL=

Niveau 1

Alice a lu 3 livres . Chaque livre possède 10 pages. Combien Alice a-t-elle lu de pages en tout?

Niveau 1

Alice a lu 3 livres . Chaque livre possède 10 pages. Combien Alice a-t-elle lu de pages en tout?



10 pages



10 pages



10 pages

TOTAL=

Niveau 1

Dans un magasin de jouets, un ourse en peluche coûte 5€. Combien coûtent 4 ours en peluche?

Niveau 1

Dans un magasin de jouets, un ours en peluche coûte 5€. Combien coûtent 4 ours en peluche?

5€ 5€ 5€ 5€

TOTAL=

Niveau 1

Sandro a 3 boites. Dans chaque boite, il y a 12 crayons de couleur. Combien de crayons de couleur Sandro a-t-il?

Niveau 1

Sandro a 3 boites. Dans chaque boite, il y a 12 crayons de couleur. Combien de crayons de couleur Sandro a-t-il?

TOTAL=

CE1 | SEMAINE 6

PROBLEME DE DIVISION

→ Recherche de la valeur de la part

Niveau 1

La bibliothécaire range 28 livres sur 4 étagères. Elle en range autant sur chaque étagère. Combien de livres y'aura-t-il sur chaque étagère?

Niveau 1

La bibliothécaire range 28 livres sur 4 étagères. Elle en range autant sur chaque étagère. Combien de livres y'aura-t-il sur chaque étagère?

TOTAL=

Niveau 1

Avec 21 fleurs, Joshua réalise 7 bouquets. Combien de fleurs y'aura-t-il dans chaque bouquet?

Niveau 1

Avec 21 fleurs, Joshua réalise 7 bouquets. Combien de fleurs y'aura-t-il dans chaque bouquet?

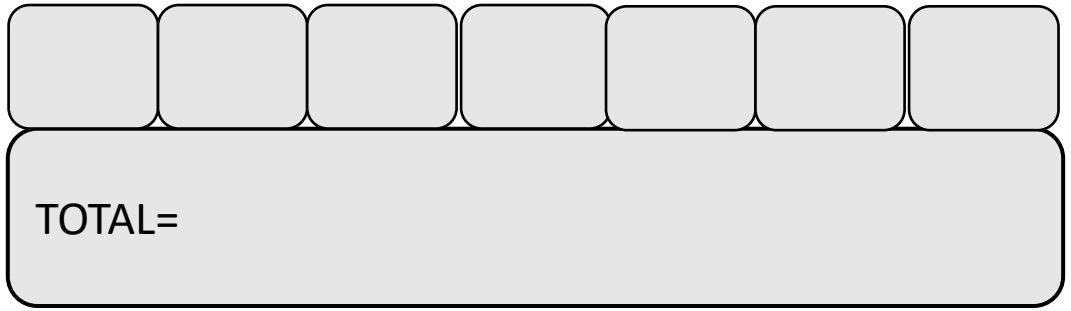

Niveau 1

Aaron a 16 feutres. Il les répartit équitablement dans 2 boites. Combien y'a-t-il de feutres dans chaque boite?

Niveau 1

Aaron a 16 feutres. Il les répartit équitablement dans 2 boites. Combien y'a-t-il de feutres dans chaque boite?

BOITE 1

BOITE 2

TOTAL=

Niveau 1

Une école a acheté 4 dictionnaires identiques pour un montant total de 40€. Quel est le prix d'un dictionnaire?

Niveau 1

Une école a acheté 4 dictionnaires identiques pour un montant total de 40€. Quel est le prix d'un dictionnaire?

40€

TOTAL=