Mathématiques CP – Année 2015/2016 – Bilan 11

Date : _____

Ton prénom : _____

Calculs dictés.

a ☐ b ☐ c ☐ d ☐ e ☐ f ☐

Ecris les nombres des cases grises.

Ecris ensuite à la bonne place :

5 61 94 50 36

	11								
								28	
40									
							67		
			83						

Complète.

30 + 20 = ... 20 + 10 + 30 = ... 30 + 40 + 20 = ...

Entoure les billets qu'il faut pour réaliser la somme d'argent indiquée.

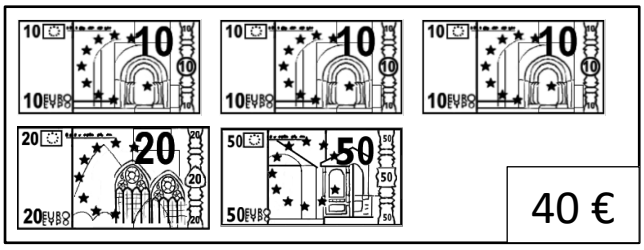

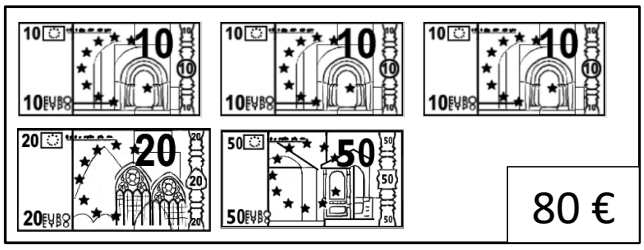
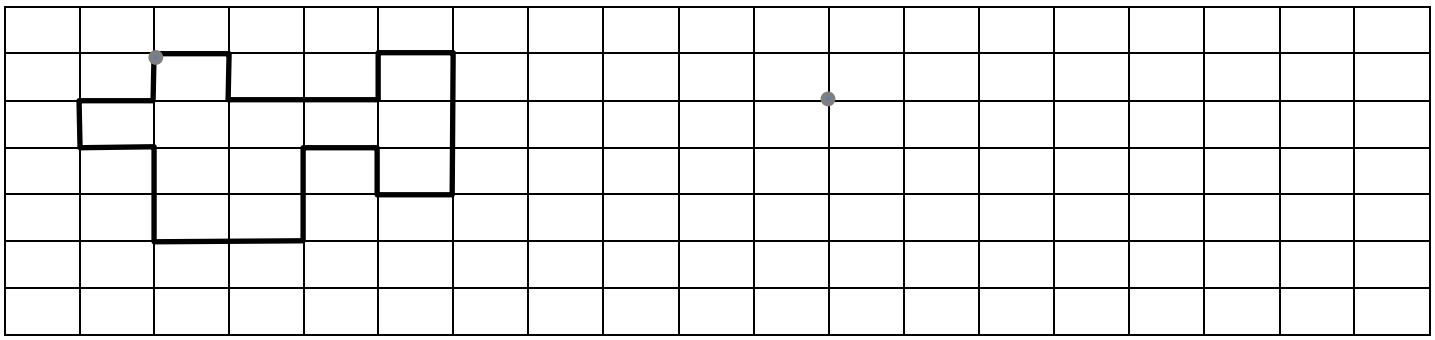
Reproduis le dessin à partir du point.