Enigme : le temps des cathédrales CE2

Calcule l'année de construction des cathédrales

Notre Dame de Paris : 1163





Notre Dame de Strasbourg : 203x5 = 1015

Notre Dame de Chartres : 199x6 = 1194



Sainte Cécile d'Albi : 641x2 = 1282

Range les cathédrales de la plus vieille à la plus récente

1	0	~~1~~ 1	~~3~~ 5
1	1	6	3
1	1	9	4
1	2	8	2

Découvre l'année d'écriture du roman de Victor Hugo : Notre Dame de Paris :

1	8	3	1

Vérifie si tu t'es trompé ou non en entrant cette date dans le cadnas :

https://lockee.fr/o/2wz/letempsdescathedrales