25	GEOMETRIE	Les figures géométriques	Identifier et construire des quadrilatères

Le carré

Les 4 angles sont droits
Les 4 côtés ont la même longueur
Les côtés opposés sont parallèles deux à deux

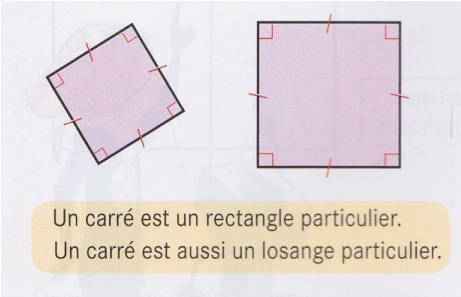

Le rectangle

- les 4 angles sont droits
- les côtés opposés ont la même longueur deux à deux
- les côtés opposés sont parallèles deux à deux

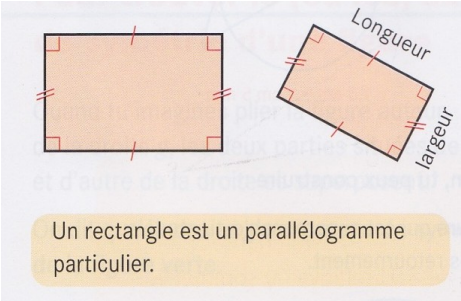

Le losange

Il a 4 côtés de même longueur
Les côtés opposés sont parallèles deux à deux

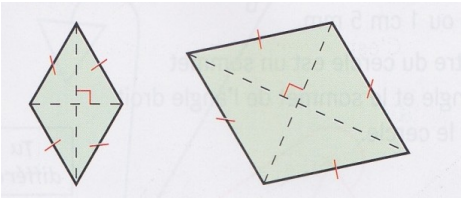

Le parallélogramme

- les côtés opposés ont la même longueur 2 à 2
- les côtés opposés parallèles 2 à 2

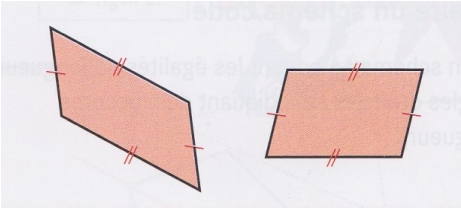

Le trapèze

- 2 côtés opposés sont parallèles

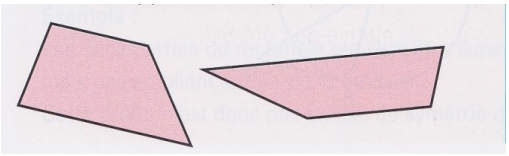

Le cerf-volant

- 2 côtés consécutifs ont la même longueur et les deux autres côtés ont aussi la même longueur

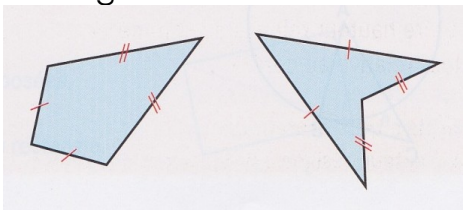

- ☐ GEOM 25A- Je sais reconnaitre ces figures et donner leur nom
- ☐ GEOM 25A- Je connais par cœur toutes les propriétés de chaque figure
- ☐ GEOM 25A-Je sais tracer ces figures

© Ecole Joseph Reinach - Digne les bains