1

Vocabulaire de géométrie

Ceci est ?



2

Vocabulaire de géométrie

A, B et C sont des points … ?

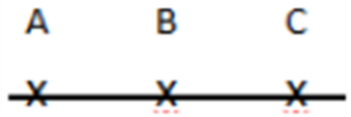

3

Vocabulaire de géométrie

I est …….. de [AB]



4

Vocabulaire de géométrie

Ceci est ?

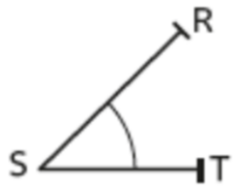

5

Vocabulaire de géométrie

Ceci est ?

6

Vocabulaire de géométrie

Ceci est ?



7

Vocabulaire de géométrie

(c) et (d) se croisent, elles sont … ?



8

Vocabulaire de géométrie

Le point A est … ?

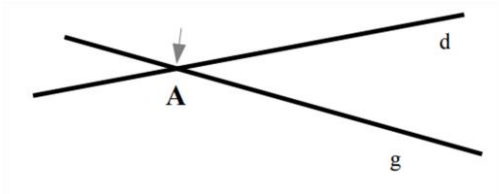

(d) est une droite.

A est un point.

[AB] est un segment.

A, B et C sont des points alignés.

(c) et (d) sont sécantes.

I est le milieu de [AB].

Le point A est le point d'intersection des droites (d) et (g).

C'est l'angle $\widehat{RST}$.