Points alignés, lignes droites, segments, milieu d'un segment.

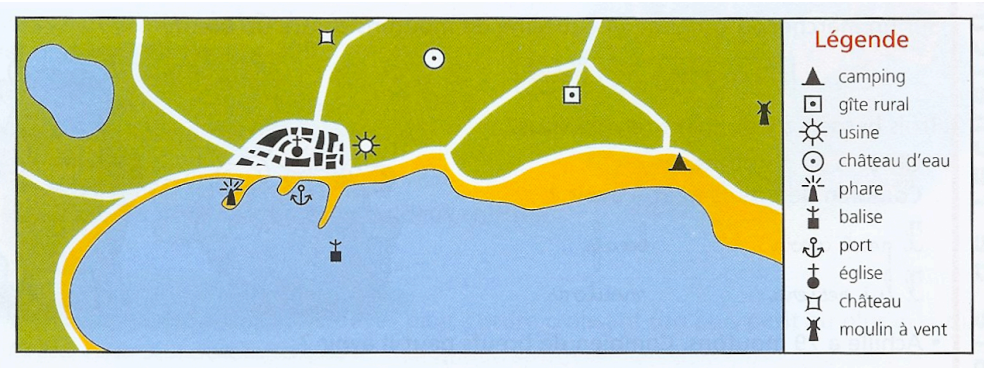

Le bateau de Paul est dans l'alignement du phare et de la balise.
Il est aussi dans l'alignement du moulin à vent et du camping.

De quel outil te sers-tu pour tracer les alignements ?

_____

Trace ces alignements et marque d'un point rouge la position du bateau.

Dans quel autre alignement le bateau se trouve-t-il ?

_____

Points alignés, lignes droites, segments, milieu d'un segment.

Lis bien les instructions suivantes :



Pour vérifier si le point M est le milieu du segment CD :

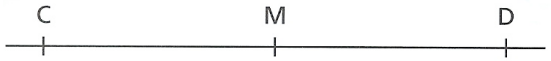

- Ameline utilise une bande de papier ;
- Tony utilise son compas ;
- Samy utilise son équerre ;
- Laurence utilise sa règle graduée.

L'un de ces outils ne convient pas. Lequel ? _____

Le point M est-il le milieu du segment CD ? _____