Décrire une figure

A. Donne le nom de chaque élément géométrique

----------	----------	----------	----------
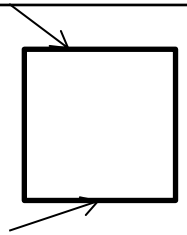	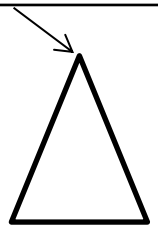	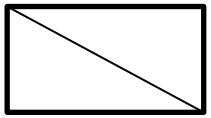	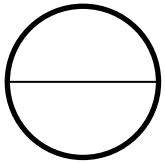
----------	----------	----------	----------
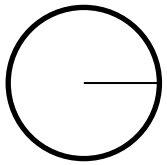	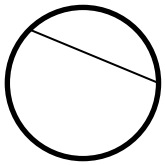		

B. Observe bien les figures et attribue-leur la bonne description. Il y a un intrus!

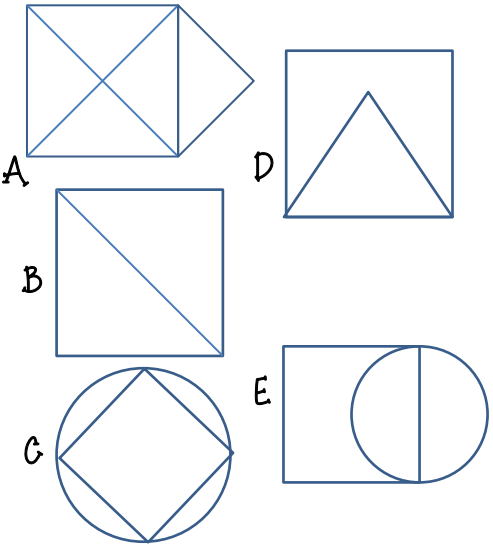

- ❑ Cette figure est formée d'un carré et un cercle qui passe par tous les sommets du carré.
- ❑ Cette figure est formée d'un triangle dont la base est un côté d'un carré. Le triangle est à inscrit dans le carré.
- ❑ Cette figure est formée d'un carré dont un des côtés est le diamètre d'un cercle.
- ❑ Cette figure est formée d'un triangle dont la base est un côté d'un carré. Le triangle est à l'extérieur du carré. On a tracé les diagonales du carré.

C) Trace les figures décrites ci-dessous

A. Cette figure est un cercle de centre O dont on a tracé deux diamètres perpendiculaires. (rayon 4cm)

B. Cette figure est formée d'un carré et d'un cercle. On a tracé les diagonales du carré. L'intersection des diagonales du carré est le centre d'un cercle contenu dans le carré et qui touche chaque côté du carré. (carré de 5 cm de côté)

C. C'est un carré (5 cm de côté) dont chaque côté est le diamètre d'un demi-cercle dirigé à l'extérieur du carré.

D) Ecris la description de ces figures en utilisant des termes précis

A

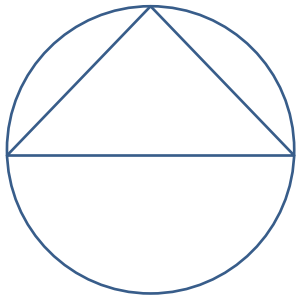

B

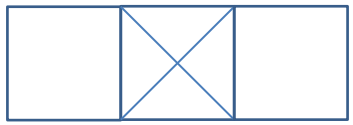

Bonus: Ecris la description de cette figure

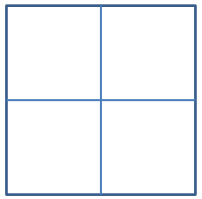

Décrire une figure

A. Donne le nom de chaque élément géométrique

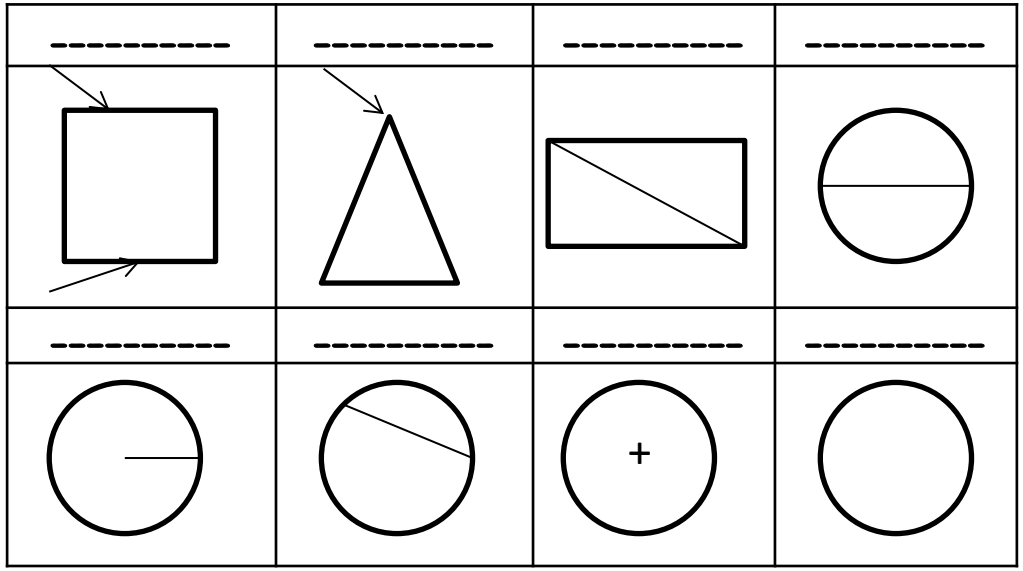

B. Observe bien les figures et attribue-leur la bonne description. Il y a un intrus!

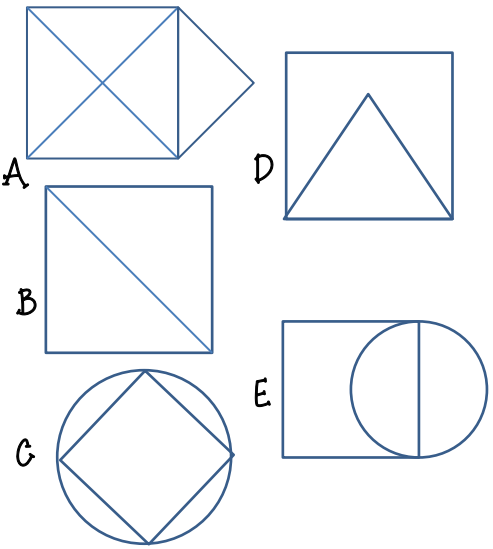

- ❑ Cette figure est formée d'un carré et un cercle qui passe par tous les sommets du carré.
- ❑ Cette figure est formée d'un triangle dont la base est un côté d'un carré. Le triangle est à inscrit dans le carré.
- ❑ Cette figure est formée d'un carré dont un des côtés est le diamètre d'un cercle.
- ❑ Cette figure est formée d'un triangle dont la base est un côté d'un carré. Le triangle est à l'extérieur du carré. On a tracé les diagonales du carré.

C) Trace les figures décrites ci-dessous

A. Cette figure est un cercle de centre O dont on a tracé deux diamètres perpendiculaires. (rayon 4cm)

B. Cette figure est formée d'un carré et d'un cercle. On a tracé les diagonales du carré. L'intersection des diagonales du carré est le centre d'un cercle contenu dans le carré et qui touche chaque côté du carré. (carré de 5 cm de côté)

C. C'est un carré (5 cm de côté) dont chaque côté est le diamètre d'un demi-cercle dirigé à l'extérieur du carré.

D) Ecris la description de ces figures en utilisant des termes précis

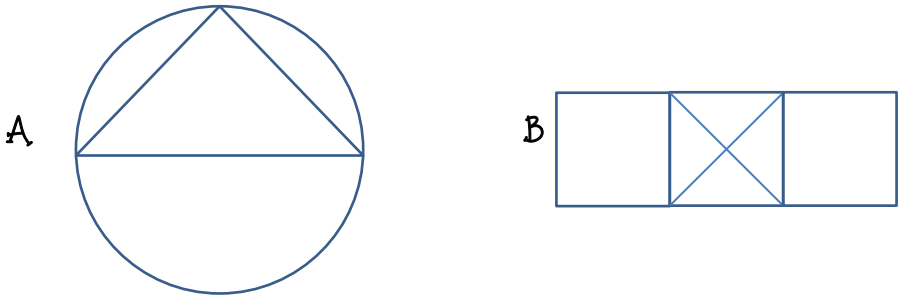

Bonus: Ecris la description de cette figure

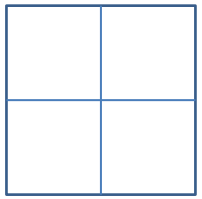

Décrire une figure

A. Donne le nom de chaque élément géométrique

côté	sommet	diagonale	diamètre
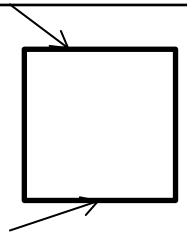	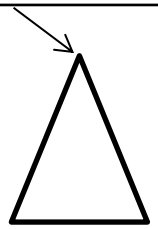	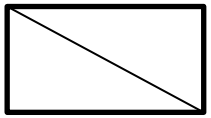	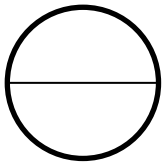
rayon	**corde**	**centre**	**cercle**
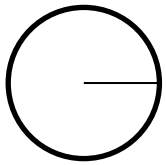	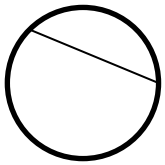		

B. Observe bien les figures et attribue-leur la bonne description. Il y a un intrus!

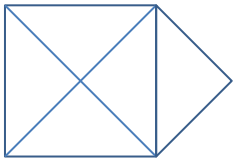

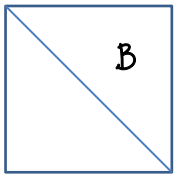

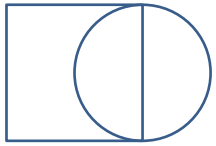

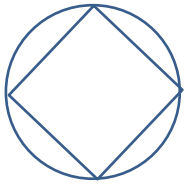

- ❑ C — Cette figure est formée d'un carré et un cercle qui passe par tous les sommets du carré.
- ❑ D — Cette figure est formée d'un triangle dont la base est un côté d'un carré. Le triangle est à inscrit dans le carré.
- ❑ E — Cette figure est formée d'un carré dont un des côtés est le diamètre d'un cercle.
- ❑ A — Cette figure est formée d'un triangle dont la base est un côté d'un carré. Le triangle est à l'extérieur du carré. On a tracé les diagonales du carré.

C) Trace les figures décrites ci-dessous

A. Cette figure est un cercle de centre O dont on a tracé deux diamètres perpendiculaires. (rayon 4cm)

B. Cette figure est formée d'un carré et d'un cercle. On a tracé les diagonales du carré. L'intersection des diagonales du carré est le centre d'un cercle contenu dans le carré et qui touche chaque côté du carré. (carré de 5 cm de côté)

C. C'est un carré (5 cm de côté) dont chaque côté est le diamètre d'un demi-cercle dirigé à l'extérieur du carré.

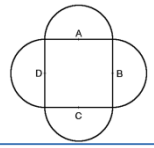

D) Ecris la description de ces figures en utilisant des termes précis

A

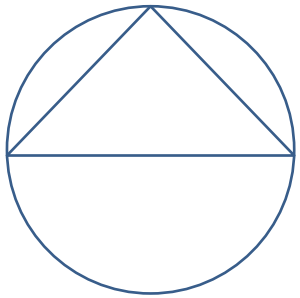

B

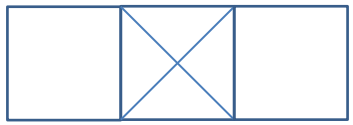
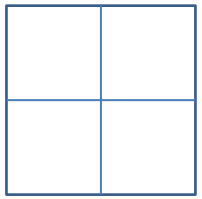
Bonus: Ecris la description de cette figure