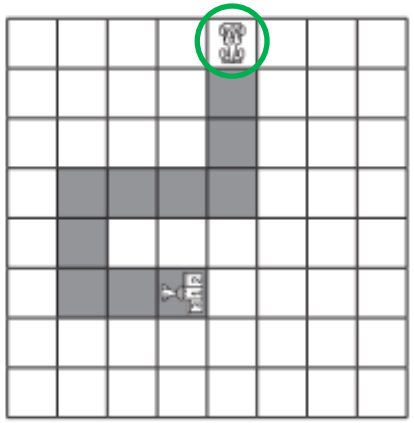

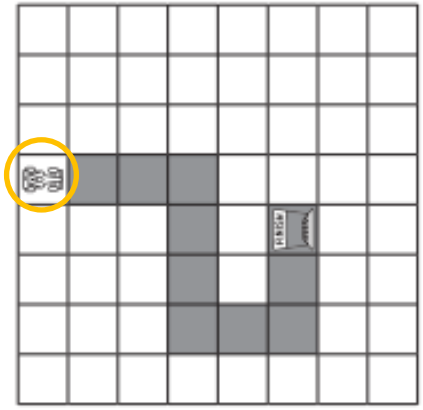

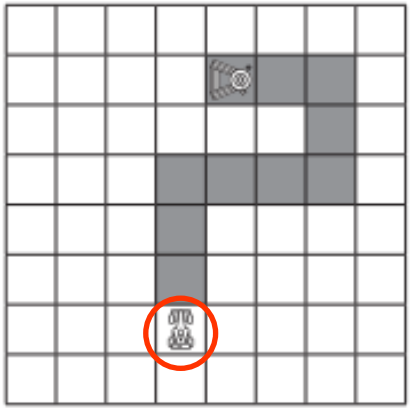

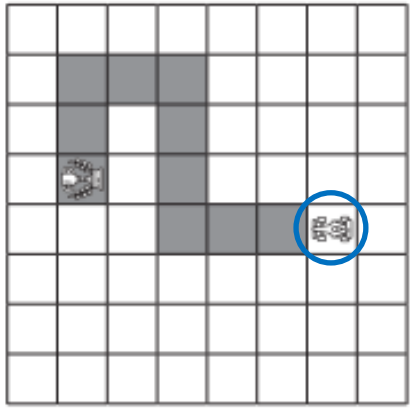

Je code de ma voiture :

Exercice 2 : Un pirate a caché son trésor sur une ile déserte. Il a dessiné un plan pour le retrouver. **Trace** le trajet sur les lignes du quadrillage à partir du bateau et **entoure** l'emplacement du trésor.

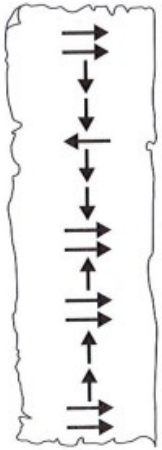

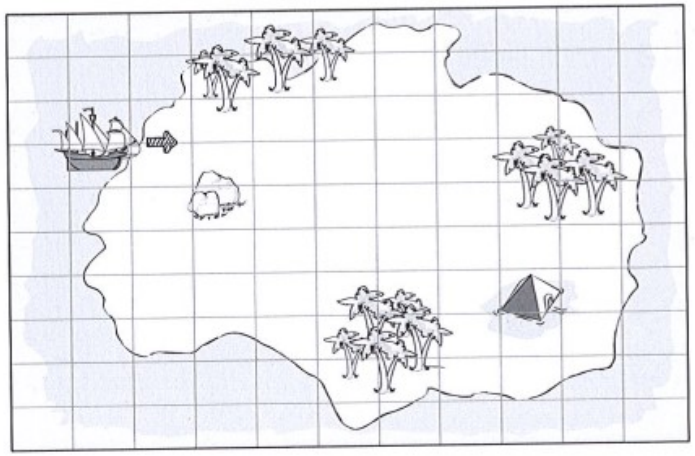

Exercice 3 : **Colorie** le chemin pris par Pac-Man sur la grille de jeu.





Combien a-t-il mangé de cerises ? ……

Exercice 4 : **Trace** le trajet du robot en suivant le parcours indiqué et **déchiffre** le message secret.

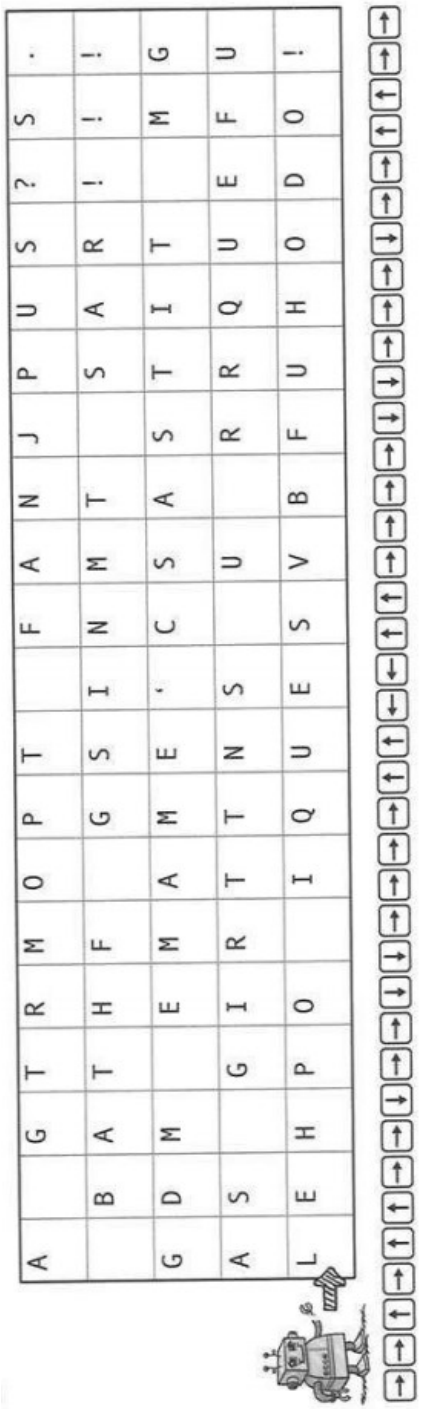

_____

_____

_____

_____

_____

_____

_____

Exercice 5 : **Place** des morceaux de fromage dans les cases suivantes :

A2 – B5 – E3 – F6 – H7 – G1 – D8 – E4

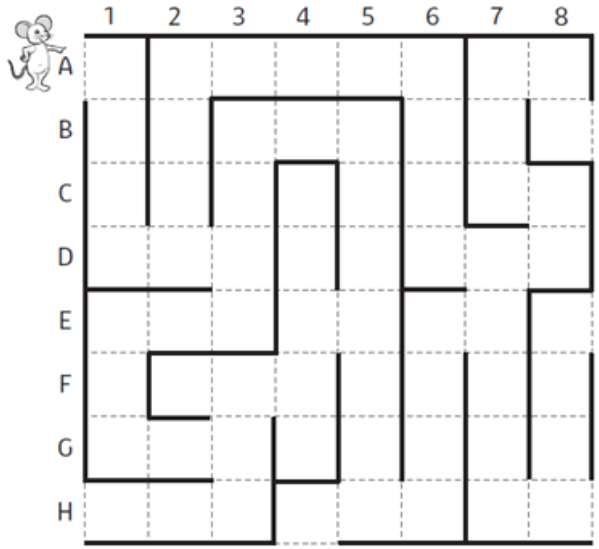

Donne le codage des cases où se trouvent les sorties :

…… – …… – …… – …… – ……

Trace le trajet suivi par le rat d'après ces indications :

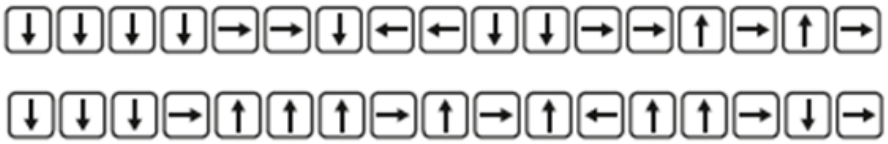

Combien de morceaux de fromage a-t-il mangé ? _____

_____