Problèmes soustractifs

Voici les problèmes envoyés par les élèves de la classe.

Lis bien la question, observe bien les images, puis réponds avec une phrase après avoir complété la petite pyramide.

1. LOUANE

Louane et ses sœurs ont mangé des chocolats, mais combien ?



Louane et ses sœurs ont mangé

_____

2. ISIS

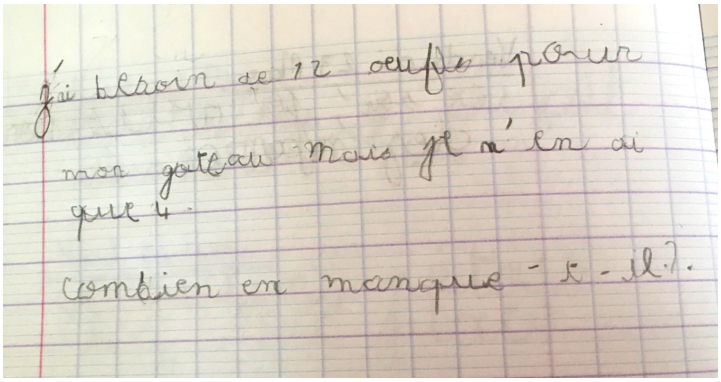

Il me manque

_____

3. MÉLINE

Il y a 15 grenouilles de différentes couleurs. Après 7 sauts, voici la ligne d'arrivée. Combien de grenouilles ne sont pas arrivées ?

_____ grenouilles ne sont pas arrivées.

4. PAUL

Paul a 10 ballons. Il tire et réussit à mettre 6 buts. Combien en a-t-il raté?

Paul a raté_____

5. VYCTOR

Vyctor a construit un puzzle de 60 pièces. Il manque 5 pièces. Combien de pièces a-t-il posé ?

Vyctor a posé _____

_____

6. ANTOINE


J'ai joué aux billes avec mon petit frère. J'avais 6 billes au début.
combien de billes
J'ai ~~perdu~~
perdu ?

Antoine a perdu

_____