62c Tracer un segment de longueur donnée

Fichier CE1
Leçon 69
14/05

Compétences : *Tracer et prolonger un segment de longueur donnée.*

Prénom ..... **Date** .....

1 **Trace** un segment de 11 cm de longueur.

2 **Prolonge** ce segment pour qu'il mesure 13 cm.

3 **Prolonge** ce segment pour qu'il mesure 10 cm.

4 **Termine** ce triangle rectangle.
Les côtés de l'angle droit mesurent 6 cm.

© Hachette Livre 2018 – Pour comprendre les maths Photofiches CE1 – Reproduction autorisée pour une classe seulement

95R Assembler des petits produits

Fichier CE1
Leçon 107
15/05

Compétence : *Assembler de petits produits ayant un facteur commun pour former un nouveau produit.*

Prénom ..... **Date** .....

1 **Assemble** ces deux rectangles pour former un rectangle plus grand.
Colorie en vert le rectangle obtenu.



5 × 4



5 × 2



Écris le produit correspondant au rectangle vert : ..... × .....

Complète. 5 × 4 + 5 × 2 = 5 × .....

2 **Assemble** ces deux carrés pour former un rectangle.
Colorie en jaune le rectangle obtenu.

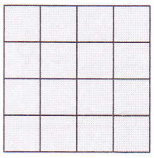

4 × 4

4 × 4



Écris le produit correspondant au rectangle jaune : ..... × .....

Complète. 4 × 4 + 4 × 4 = 4 × .....

3 **Assemble** ces deux rectangles pour former un rectangle plus grand.
Colorie en bleu le rectangle obtenu.

6 × 2

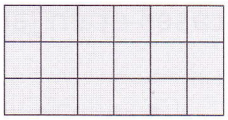

6 × 3



Écris le produit correspondant au rectangle bleu : ..... × .....

Complète. 6 × 3 + 6 × 2 = 6 × .....

© Hachette Livre 2018 – Pour comprendre les maths Photofiches CE1 – Reproduction autorisée pour une classe seulement.

© Hachette Livre 2018 – Pour comprendre les maths Photofiches CE1 – Reproduction autorisée pour une classe seulement.