GEOMETRIE

Combien y a-t-il de droites ?

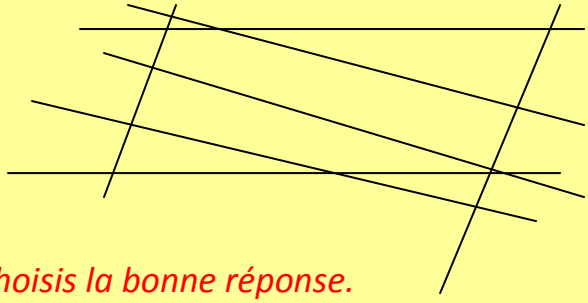

Choisis la bonne réponse.

- ☐ 5
- ☐ 6
- ☐ 7

GEOMETRIE

Choisis la bonne réponse.

7

GEOMETRIE

Qu'a-t-on fait avec cette figure ?

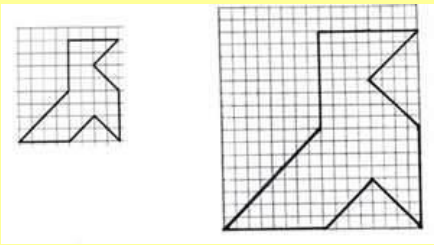

Choisis la bonne réponse.

- ☐ On l'a agrandi
- ☐ On l'a rétréci
- ☐ On l'a déplacé

GEOMETRIE

Choisis la bonne réponse.

On l'a agrandi

GEOMETRIE

Qu'a-t-on fait avec cette figure ?

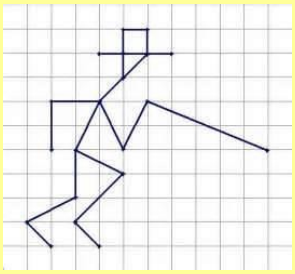

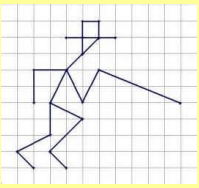

Choisis la bonne réponse.

- ☐ On l'a agrandi
- ☐ On l'a rétréci
- ☐ On l'a déplacé

GEOMETRIE

Choisis la bonne réponse.

On l'a rétréci

GEOMETRIE

Choisis la bonne réponse.

Un pavé droit

GEOMETRIE

Quel est le nom de cet objet ?

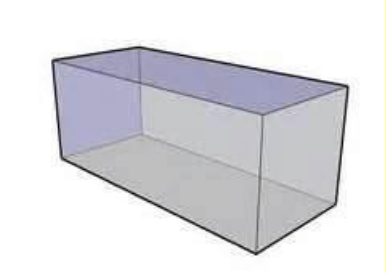

Choisis la bonne réponse.

- ☐ Un rectangle
- ☐ Un pavé droit
- ☐ Un carré

GEOMETRIE

Choisis la bonne réponse.

6

GEOMETRIE

Combien de cubes y a-t-il ?

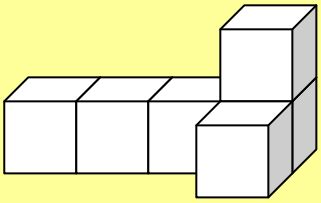

Choisis la bonne réponse.

- ☐ 4
- ☐ 5
- ☐ 6

GEOMETRIE

Choisis la bonne réponse.

11

GEOMETRIE

Combien de cubes y a-t-il ?

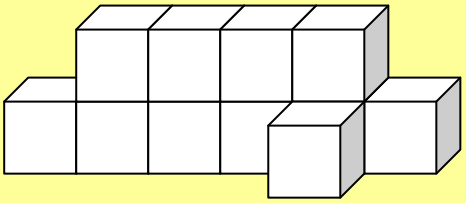

Choisis la bonne réponse.

- ☐ 9
- ☐ 10
- ☐ 11