Prénom :

LE DÉVELOPPEMENT DES VÉGÉTAUX-ce1

Connaître le cycle de la vie des êtres vivants : naissance, croissance, reproduction, fin de vie (animaux, plantations).	

1° Ajoute la légende au schéma

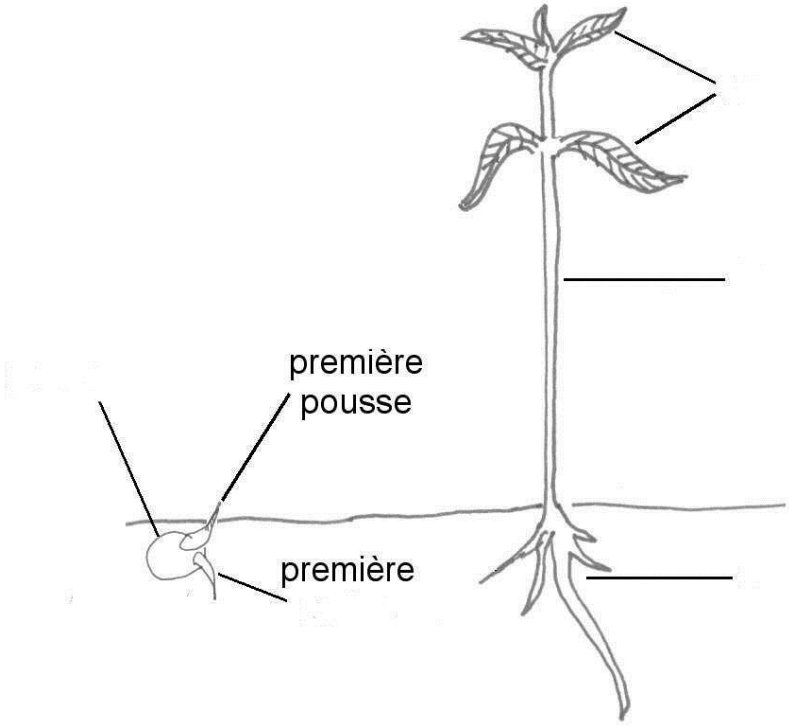

2° Entoure le numéro de l'expérience qui permettra d'obtenir la plante la mieux développée.

1- pot avec coton, lumière, chaleur, eau
2- pot avec terre, lumière, chaleur, eau
3- pot avec terre, lumière, froid, eau
4- pot avec terre, obscurité, chaleur, eau
5- pot avec coton, lumière, chaleur, sécheresse

3° Complète.

Pour permettre la germination de la....., il faut au moins

.....

4° Numérote dans l'ordre le cycle de développement du haricot.

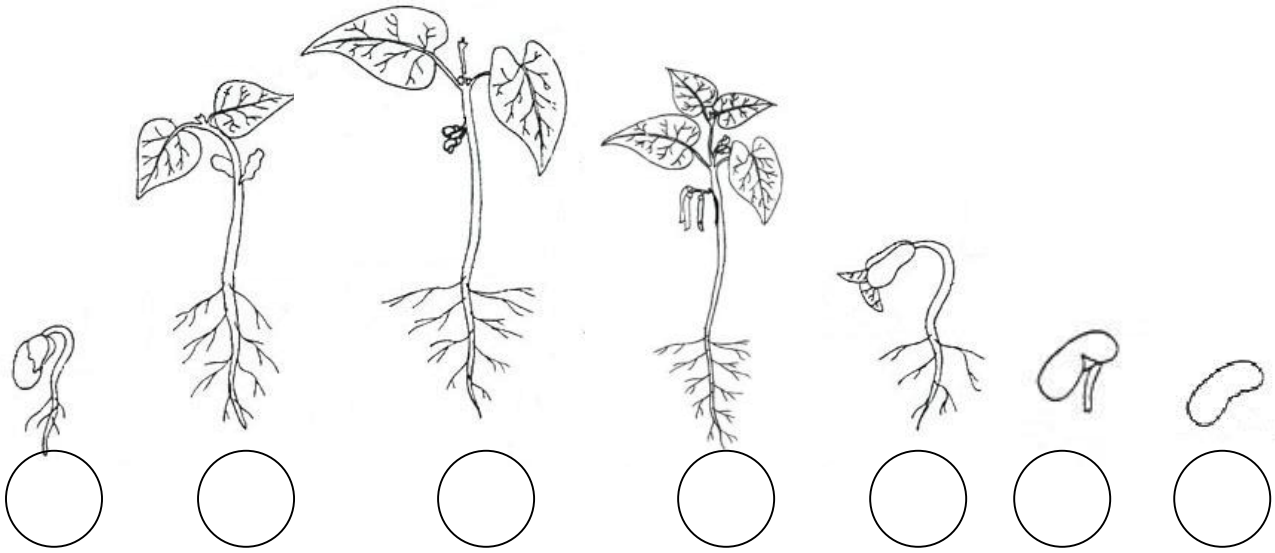

5° Légende le schéma

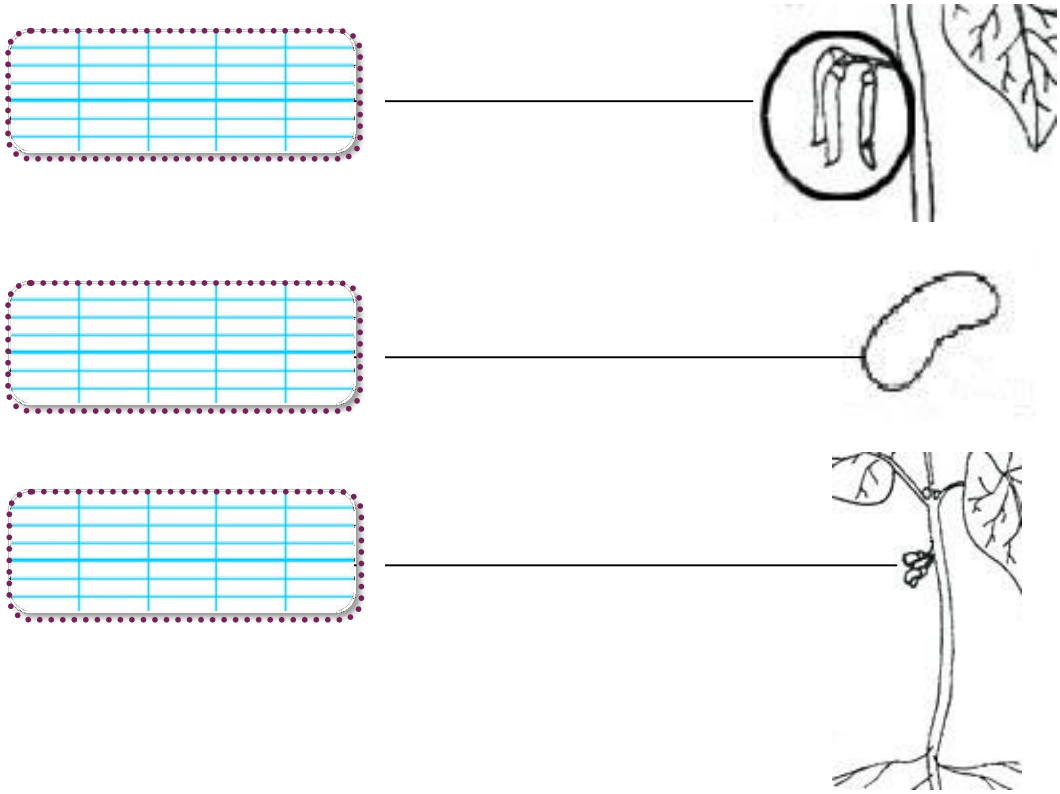

6° Complète.

Le haricot connaît plusieurs ..... de développement : ..... de la graine, développement des ..... , de la ..... et des ....., apparition des ....., puis des..... contenant des graines.