Résous ce petit problème

Edwige a distribué $\frac{3}{4}$ de ses 24 lettres.

Combien en a-t-elle distribuées?

Combien font $\frac{2}{5}$ de 40?

Combien font $\frac{7}{10}$ de 50?

Décompose ces fractions puis écris le nombre à virgule correspondant.

$$\frac{87}{100} = \ldots\ldots + \frac{\quad}{100} = \ldots,\ldots$$

$$\frac{34\,567}{1\,000} = \ldots\ldots + \frac{\quad}{1000} = \ldots,\ldots$$

Quelles sont les fractions supérieures à l'unité?

$$\frac{4}{5} \quad \frac{7}{3} \quad \frac{8}{6} \quad \frac{7}{9} \quad \frac{10}{25} \quad \frac{3}{2}$$

Quelles sont les fractions supérieures à l'unité?

$$\frac{4}{3} \quad \frac{7}{12} \quad \frac{8}{5} \quad \frac{7}{6} \quad \frac{10}{5} \quad \frac{3}{4}$$

Trouve le bon nombre:

Calcule

$$\frac{4}{5} + \frac{3}{2} = \frac{\quad}{10} + \frac{\quad}{10} = \frac{\quad}{10}$$

$$\frac{3}{6} + \frac{1}{3} = \frac{\quad}{\quad} + \frac{\quad}{\quad} = \frac{\quad}{\quad}$$

Calcule

$$\frac{3}{8} + \frac{5}{2} = \frac{\quad}{\quad} + \frac{\quad}{\quad} = \frac{\quad}{\quad}$$

$$\frac{5}{7} + \frac{3}{14} = \frac{\quad}{\quad} + \frac{\quad}{\quad} = \frac{\quad}{\quad}$$

Calcule

$$\frac{4}{9} + \frac{4}{3} = \frac{\quad}{\quad} + \frac{\quad}{\quad} = \frac{\quad}{\quad}$$

$$\frac{4}{6} + \frac{7}{24} = \frac{\quad}{\quad} + \frac{\quad}{\quad} = \frac{\quad}{\quad}$$

Décompose ces fractions

$$\frac{35}{10} = \ldots\ldots + \frac{\quad}{10}$$

$$\frac{805}{100} = \ldots\ldots + \frac{\quad}{100}$$

Décompose ces fractions puis écris le nombre à virgule correspondant.

$$\frac{\quad}{\quad} = \ldots\ldots + \frac{\quad}{\quad} = 8{,}09$$

$$\frac{\quad}{\quad} = 78 + \frac{34}{1000} = \ldots{,}\ldots$$

Décompose ces fractions puis écris le nombre à virgule correspondant.

$$\frac{\quad}{\quad} = \ldots\ldots + \frac{\quad}{\quad} = 9{,}001$$

$$\frac{\quad}{\quad} = 0 + \frac{67}{1000} = \ldots{,}\ldots$$

Calcule

$$\frac{6}{4} + \frac{3}{8} = \frac{\quad}{\quad} + \frac{\quad}{\quad} = \frac{\quad}{\quad}$$

$$\frac{5}{3} + \frac{8}{4} = \frac{\quad}{\quad} + \frac{\quad}{\quad} = \frac{\quad}{\quad}$$

Décompose ces fractions

$$\frac{77}{10} = \ldots\ldots + \frac{\quad}{10}$$

$$\frac{890}{100} = \ldots\ldots + \frac{\quad}{10} + \frac{\quad}{100}$$

Compare

$$\frac{13}{4} \;\ldots\ldots\; \frac{20}{8} \Leftrightarrow \frac{\quad}{\quad} \;\ldots\ldots\; \frac{\quad}{\quad}$$

$$\frac{8}{3} \;\ldots\ldots\; \frac{9}{4} \Leftrightarrow \frac{\quad}{\quad} \;\ldots\ldots\; \frac{\quad}{\quad}$$

Compare

4, 5 4, 407

3,14 3,8

Compare

158,97 15,897

67,809 67,9

Quelle est la fraction correspondant à la quantité coloriée de la tablette unité?

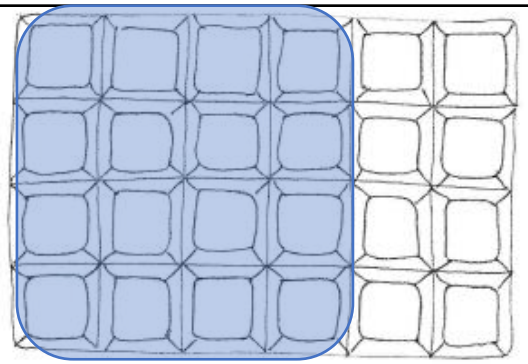

Compare

$$\frac{15}{4} \;\ldots\ldots\; \frac{33}{12} \Leftrightarrow \frac{\quad}{\quad} \;\ldots\ldots\; \frac{\quad}{\quad}$$

$$\frac{7}{3} \;\ldots\ldots\; \frac{10}{4} \Leftrightarrow \frac{\quad}{\quad} \;\ldots\ldots\; \frac{\quad}{\quad}$$

Compare

$$\frac{7}{2} \;\ldots\ldots\; \frac{34}{10} \Leftrightarrow \frac{\quad}{\quad} \;\ldots\ldots\; \frac{\quad}{\quad}$$

$$\frac{9}{4} \;\ldots\ldots\; \frac{25}{16} \Leftrightarrow \frac{\quad}{\quad} \;\ldots\ldots\; \frac{\quad}{\quad}$$

Décompose ces fractions

$$\frac{93}{10} = \ldots\ldots + \frac{\quad}{10}$$

$$\frac{5\,431}{1\,000} = \ldots\ldots + \frac{\quad}{10} + \frac{\quad}{100} + \frac{\quad}{1000}$$

Complète les inégalités

14,79 < ..... < 14,81

34,656 < ..... < 34,661

Encadre chaque nombre avec des nombres à 1 décimale

.... < 56,87 < ....

..... < 587,234 < .....

Quelle est la fraction correspondant à la quantité coloriée de la tablette unité?

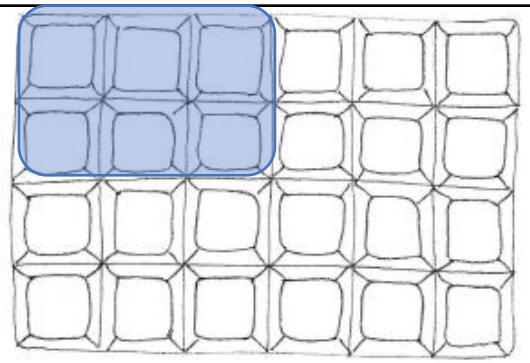

Décompose ces fractions

$$\frac{456}{10} = \ldots\ldots + \frac{\quad}{10}$$

$$\frac{654}{1\,000} = \ldots\ldots + \frac{\quad}{10} + \frac{\quad}{100} + \frac{\quad}{1000}$$

Décompose

$$\frac{15}{4} = \_\_ + \_\_ = \cdots + \_\_$$

$$\frac{37}{8} = \_\_ + \_\_ = \cdots + \_\_$$

J'ai mangé $\frac{7}{8}$ de ma tablette de chocolat. Combien de carreaux ai-je mangés?

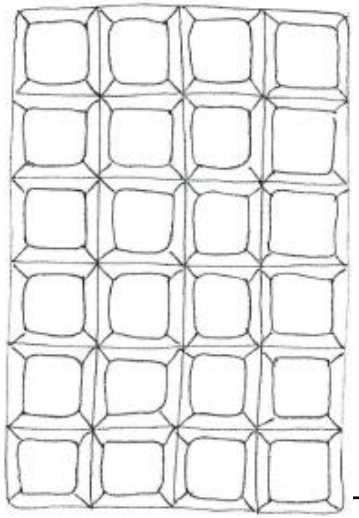

Encadre ces fractions par 2 entiers consécutifs

$$< \frac{76}{10} <$$

$$< \frac{5743}{1\,000} <$$

Décompose

$$\frac{27}{4} = \_ + \_ = \cdots + \_$$

$$\frac{45}{7} = \_ + \_ = \cdots + \_$$

Encadre chaque nombre avec des nombres à 1 décimale

.... < 45,98 < ....

..... < 67,234 < .....

Combien font $\frac{5}{8}$ de 40?

Combien font $\frac{2}{3}$ de 36?

Encadre chaque nombre avec des nombres à 1 décimale

.... < 56,87 < ....

..... < 587,234 < .....

Combien font $\frac{7}{10}$ de 40?

Combien font $\frac{1}{5}$ de 35?

Décompose cette fraction en complétant les égalités:

$$\frac{17}{6} = \frac{\quad}{6} + \frac{\quad}{6} = \ldots\ldots + \frac{\quad}{6}$$

Décompose cette fraction en complétant les égalités:

$$\frac{17}{5} = \frac{\quad}{5} + \frac{\quad}{5} = \ldots\ldots + \frac{\quad}{5}$$

Combien font $\frac{6}{10}$ de 50?

Combien font $\frac{3}{4}$ de 32?

Décompose ces fractions

$$\frac{870}{10} = \ldots\ldots + \frac{\quad}{10}$$

$$\frac{7\,826}{1\,000} = \ldots\ldots + \frac{\quad}{10} + \frac{\quad}{100} + \frac{\quad}{1000}$$

Résous ce petit problème

Harry a mangé $\frac{2}{3}$ de ses 12 chocogrenouilles. Combien en a-t-il mangées?

Combien font $\frac{6}{10}$ de 50?

Combien font $\frac{3}{4}$ de 32?

Combien font $\frac{4}{6}$ de 42?

Combien font $\frac{3}{5}$ de 40?

Décompose cette fraction en complétant les égalités:

$$\frac{35}{8} = \frac{\quad}{8} + \frac{\quad}{8} = \ldots\ldots + \frac{\quad}{8}$$

Décompose ces fractions puis écris le nombre à virgule correspondant.

$$\frac{703}{100} = \ldots\ldots + \frac{\quad}{100} = \ldots,\ldots$$

$$\frac{576}{1\,000} = \ldots\ldots + \frac{\quad}{1000} = \ldots,\ldots$$

Combien font $\frac{4}{6}$ de 42?

Combien font $\frac{3}{5}$ de 40?

Décompose cette fraction en complétant les égalités:

$$\frac{257}{100} = \frac{\quad}{100} + \frac{\quad}{100} = \ldots\ldots + \frac{\quad}{100}$$

Décompose ces fractions

$$\frac{65}{10} = \ldots\ldots + \frac{\quad}{10}$$

$$\frac{765}{100} = \ldots\ldots + \frac{\quad}{10} + \frac{\quad}{100}$$

Décompose cette fraction en complétant les égalités:

$$\frac{23}{7} = \frac{\quad}{7} + \frac{\quad}{7} = \ldots\ldots + \frac{\quad}{7}$$

Quelles sont les fractions supérieures à l'unité?

$$\frac{2}{3} \quad \frac{15}{12} \quad \frac{6}{5} \quad \frac{2}{6} \quad \frac{9}{5} \quad \frac{2}{4}$$

Quelle est la fraction correspondant à la quantité coloriée de la tablette unité?

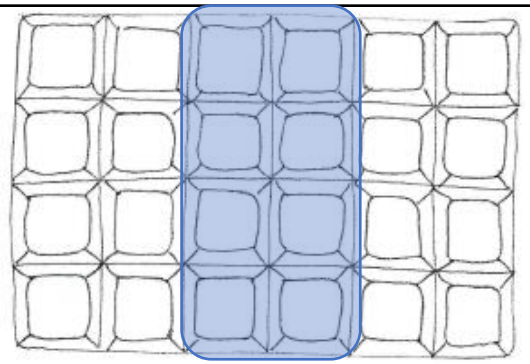

Combien font $\frac{2}{5}$ de 20?

Combien font $\frac{6}{8}$ de 56?

Sur le lac, il y avait 30 bateaux ce matin. $\frac{4}{6}$ d'entre eux ont été rangés. Combien en reste-t-il sur l'eau?