Lundi 6 avril 2020

Rituels mathématiques

1) Pose et calcule puis fais la preuve (Attention à la présentation).

827 - 279 = ……



812 - 395 = ……



2) Problèmes

a) Alex a pris 4 cartes de 1 point et 5 cartes de 3 points. Combien a-t-il de points en tout ?

- Choisis et écris la bonne opération :

- Rédige ta réponse **en reprenant les mots de la question.**

b) Alex a pris 6 cartes de 2 points, 3 cartes de 4 points et 6 cartes de 5 points. Combien a-t-il de points en tout ?

- Choisis et écris la bonne opération :

- Rédige ta réponse **en reprenant les mots de la question.**

Production

Lis de nouveau les mots D puis écris 3 autres phases avec ces mots.

_____

_____

_____

compréhension

Remets les mots suivants au bon endroit :

toqua - panier - faim – habits – chevrotante - instants – estomac

Le Petit Chaperon rouge 4

d'après la version de Jacob et Wilhelm Grimm

Quelques ..... plus tard, le loup se rendit compte qu'il avait encore très ..... . Une mère-grand, ça ne remplit pas vraiment l'..... d'un loup affamé ! Il eut alors une idée : le Petit Chaperon rouge allait bientôt arriver et il serait là pour l'accueillir… Il mit les ..... de mère-grand et attendit. Bientôt on ..... à la porte.

- Qui est là ? demanda le loup d'une voix ..... .
- C'est moi, votre Petit Chaperon rouge.
- Tire la chevillette et la bobinette cherra, répondit-il. Comme le Petit Chaperon rouge entrait, le loup se cacha sous les couvertures.
- Pose ton ..... et viens me rejoindre, dit-il.

Lorsqu'elle s'étendit sur le lit, la fillette fut bien surprise.

Grammaire

1) Entoure l'adjectif dans chaque groupe nominal.

l'éléphant jaune la petite souris un sac lourd des grandes balles

2) Mets les adjectifs ou les noms au bon endroit.

a) petit - petits - petite - petites

une …… poule - des ……. lutins - un ……. livre - les ……. filles

b) table - jouets - pantalon - chaussettes

des petites ……. - les petits ……. - une petite ……. - un petit …….

3) Entoure les groupes nominaux.

- Le petit chien n'arrête pas d'aboyer. (x1)
- Hier, les enfants ont regardé un film. (x2)
- Martine cherche son doudou dans sa chambre. (x3)

1) Ecris le résultat des calculs que te dicte le maitre.

a ☐ b ☐ c ☐ d ☐ e ☐ f ☐

2) Problèmes.

Tu peux échanger 5 perles contre 1 pépite.

Réponds à la question d'Alex.

Combien de perles restera-t-il dans la boite après l'échange ?

3) Chercher des compléments.

Alex avait dessiné 8 fleurs.
Moustik a fait une tache sur la feuille.

Combien de fleurs y a–t-il sous la tache ?



Dans ce sac, il y a 10 billes, des jaunes et des vertes.
Il y a 2 billes jaunes.

Combien y a t-il de billes rouges dans le sac ?