Fiche de Mathématiques n° 3

Prénom : _____

1. *CALCUL MENTAL :* ***écris le nombre suivant (+1)***

Nombre de réponses justes

2. ***Complète pour obtenir le nombre écrit dans le rond.***

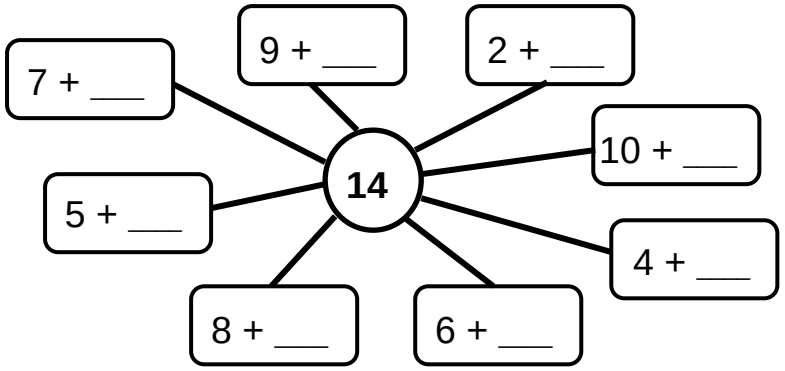

Nombre de réponses justes

3. Alex et Lisa se partage des billes. Chacun doit recevoir le même nombre. Toutes les billes sont distribuées.

⇒ *Combien de billes chacun aura-t-il ?*



Alex aura _____ billes.

Lisa aura _____ billes.

Je sais résoudre un problème de partage

Fiche de Mathématiques n° 3 Prénom : _____

1. CALCUL MENTAL : écris le nombre suivant (+1)

Nombre de réponses justes

2. Complète pour obtenir le nombre écrit dans le rond.

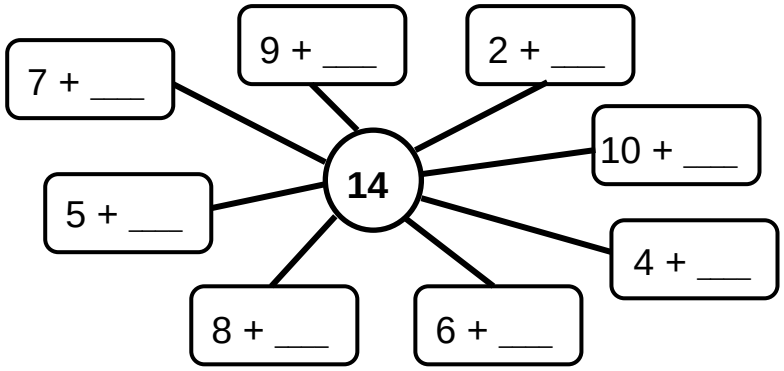

Nombre de réponses justes

3. Alex et Lisa se partage des billes. Chacun doit recevoir le même nombre. Toutes les billes sont distribuées.

⇒ Combien de billes chacun aura-t-il ?



Alex aura _____ billes.

Lisa aura _____ billes.

Je sais résoudre un problème de partage

http://le-stylo-de-vero.eklablog.com