Problèmes

Tu complètes le tableau.

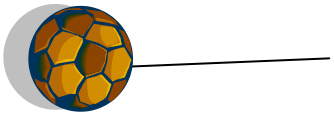

3 €

Un ballon coûte 3€

Dessin de ballons	Julie achète :	Elle doit payer :
	2 ballons	
		12€
		

Problèmes

Tu complètes le tableau.

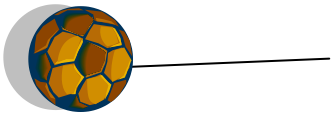

3 €

Un ballon coûte 3€

Dessin de ballons	Julie achète :	Elle doit payer :
	2 ballons	
		12€

Problèmes

Tu complètes le tableau.

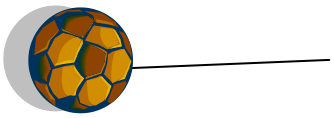

3 €

Un ballon coûte 3€

Dessin de ballons	Julie achète :	Elle doit payer :
	2 ballons	
		12€