Date : ……. Prénom : ……

Calcul

Le nombre 48

1. Classe par ordre de grandeur croissante. (du plus petit au plus grand)

24	48	20	32	28	36	40
……	……	……	……	…..	…..	…..

2. Situe les nombres.

48 c'est 8 de plus que ……

48 c'est 2 de moins que ……

48 c'est 24 de plus que ……

48 c'est …… de moins que 50

48 c'est ……. De plus que 45

3. <, >, =

…. (48 : 2)	…	…. (48 : 4)
…. (48 - 24)	…	…. (48 : 3)
…. (8 x 6)	…	…. (4 x 12)
…. (24 + 24)	…	…. (48 - 24)

4. I

48 : 12.	6
48 : 6 .	24
48 : 8 .	4
48 : 4 .	16
½ de 48 .	8
48 : 3 .	12

5. Ecris les bons signes : +, - , x , :

48	24	24	48	2	24
2	24	48	48	4	12
3	16	48	6	8	48

6. Araignée.

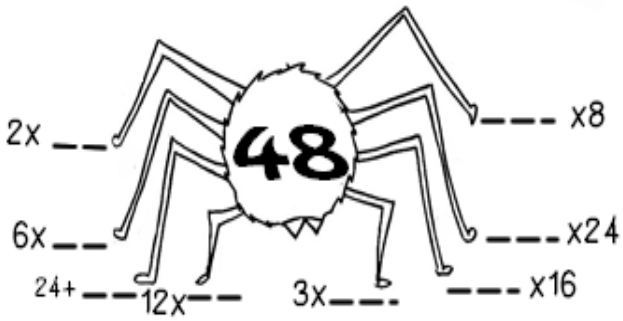

7. Entoure les calculs = 48

6 x 8	5 x 12	24 x 2
50 – 2	4 x 24	3 x 16
32 + 16	4 x 12	9 x 9

Date : ……. Prénom : ……

Calcul

8. Colorie la bonne réponse.

48 : 3	24	16	12
48 – 24	24	20	28
48 : 6	9	8	7
48 = 24 + .	24	12	27

10. Entoure chaque fois 2 nombres pour faire 48.

12

48 7 24 16 9

41 0 36 24 32

46 2

11. Complète les arbres.

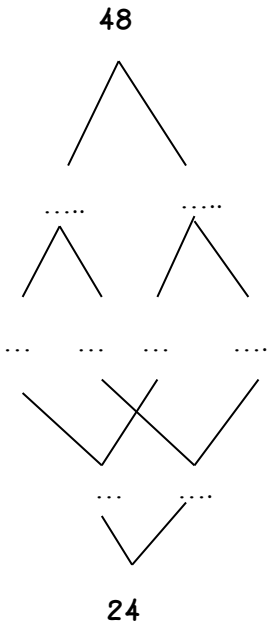

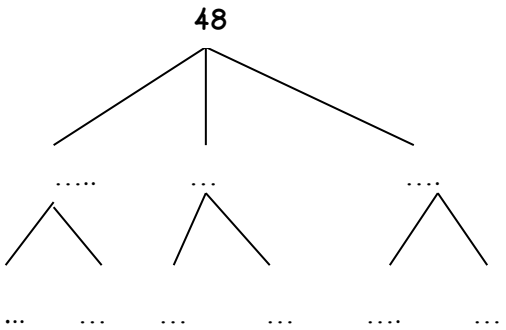

12. place les nombres sur la droite graduée.

48 – 40 – 38 – 50 – 45

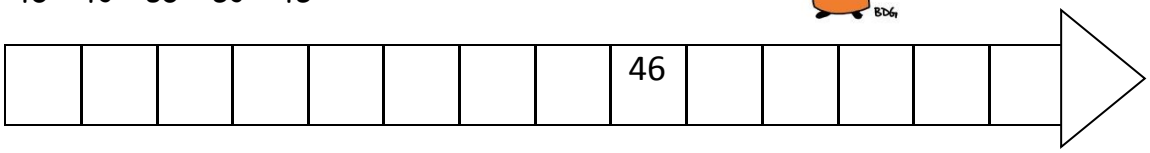

Corinne Pirotte