Prénom : _____ Date : _____

Nombres et calculs : Les nombres entiers

Repérer et placer des nombres entiers sur une droite graduée

CM2

Fiche d'exercices n° 7

Exercice 1 : **Identifie** la valeur de la graduation puis **écris** les nombres indiqués par une flèche.

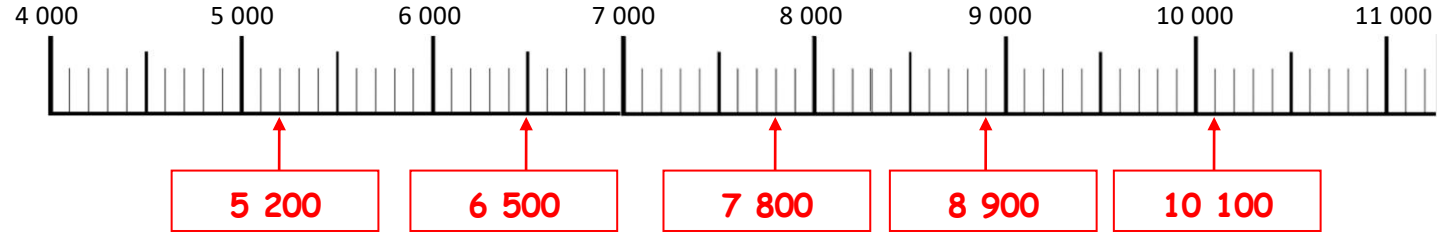

Exercice 2 : **Identifie** la valeur de la graduation puis **écris** les nombres indiqués par une flèche.

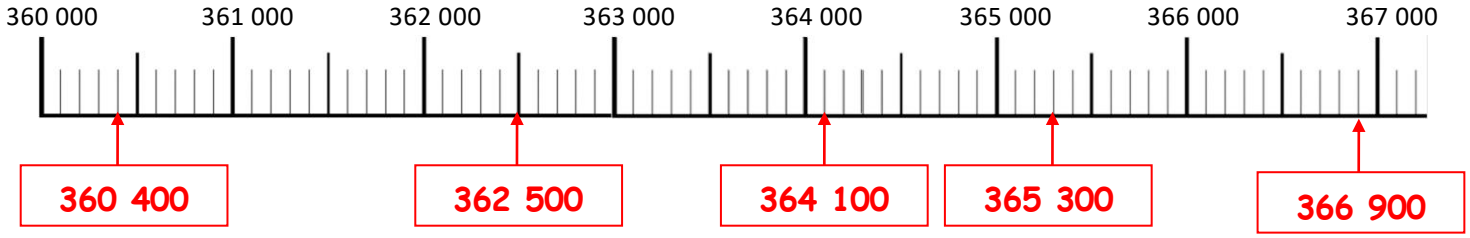

Exercice 3 : **Prolonge** les flèches pour placer les nombres sur la droite graduée.

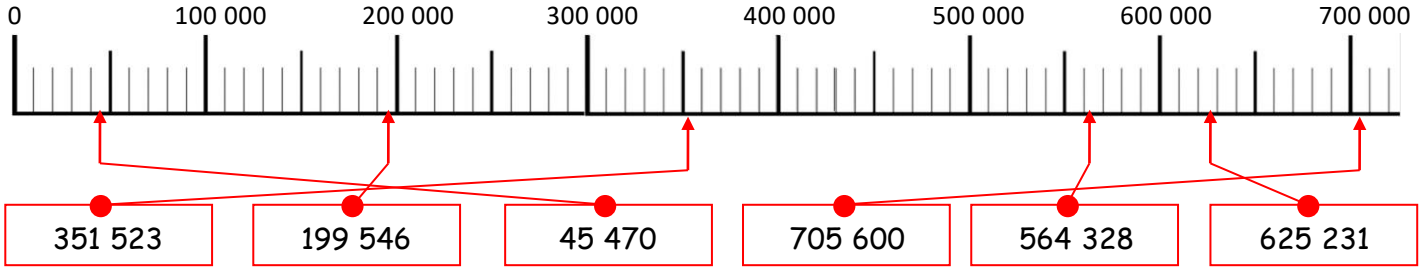

Exercice 4 : **Colorie** en vert les étiquettes qui sont bien placées et en rouge celles qui sont mal placées.

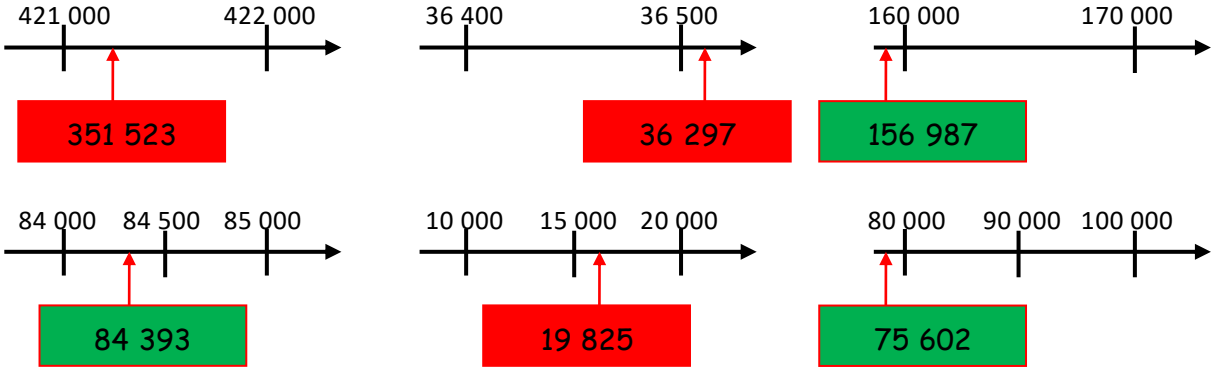

Exercice 5 : **Colorie** en vert les étiquettes qui sont bien placées et en rouge celles qui sont mal placées.

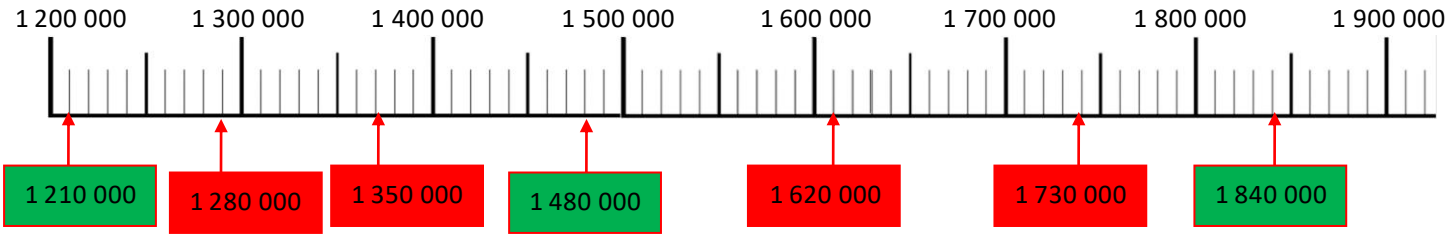

➡ **Exercice 6** : **Place** les nombres dans les bonnes cases sur la droite graduée. Attention aux intrus !

2 851 235	1 249 465	2 705 987	3 005 951	2 247 398
2 130 789	2 437 079	2 970 648	2 589 548	2 363 701

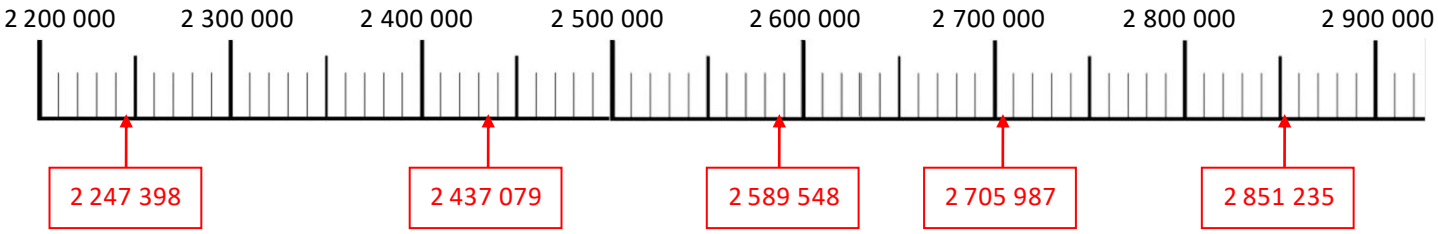

➡ **Exercice 7** : **Écris** les nombres représentés par les lettres sur la droite graduée.

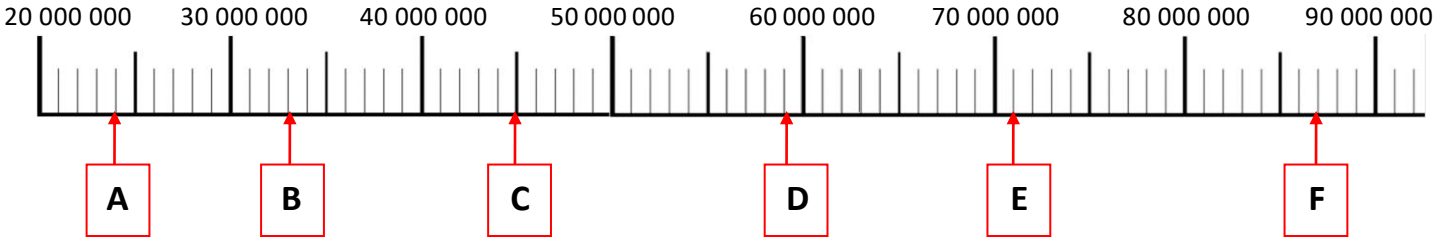

A : **24 000 000**

B : **33 000 000**

C : **45 000 000**

D : **59 000 000**

E : **71 000 000**

F : **87 000 000**