Mesurer des masses.

1. Colorie ton chemin dans le labyrinthe.

Ecris les masses équivalentes trouvées sur ton trajet.

100 g + 50 g + 100 g

_____

_____

_____

_____

_____

_____

Ecris quel aliment est au bout de ton chemin.

_____

2. Equilibre les balances en complétant les masses.



Mesurer des masses.

1. Complète.

4 000 g = _____ kg 7 kg = _____ g

3 200 g = __ kg _____ g 5 kg 280 g = _____ g

2 015 g = __ kg _____ g 2 kg 70 g = _____ g

2. Colorie les masses marquées à utiliser pour peser un objet de 724 g. Tu dois en colorier le moins possible.

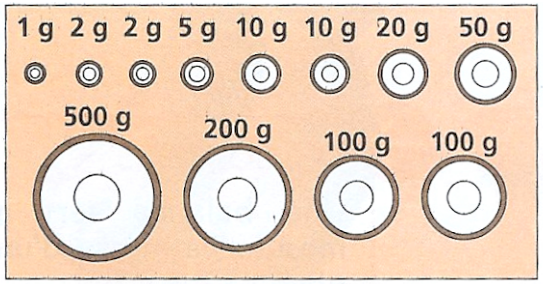

3. La famille Bougeotte part en voyage.

Calcule la masse totale de leurs bagages.