Mercredi 31 janvier
Dictée 3 semaine 4

La jeune fille préhistorique s'applique.

Elle dessine un cheval et un mammouth sur la paroi de la grotte

qui lui sert d'abri.

Appoline
12 mots bien recopiés en 6min10
1 série de TACIT: 2 bonnes réponses
Lecture: 2e paragraphe: beaucoup mieux

1 Complète les groupes nominaux suivants avec un adjectif qualificatif qui convient.

spatiale – obéissant – parfumée – agréable – cruel – magnifique

un loup

un voyage

une fleur

une fusée

un tableau

un chien

2 Trouve un adjectif pour chacun de ces noms.

un tigre

une voiture

une couverture

une table

un ogre

un prince

3 Récris ces phrases en supprimant tous les adjectifs.

La méchante sorcière jeta un sort puissant à la pauvre princesse.

Ce magnifique tigre possède un pelage roux et de larges pattes aux griffes acérées.

Géométrie / calculs

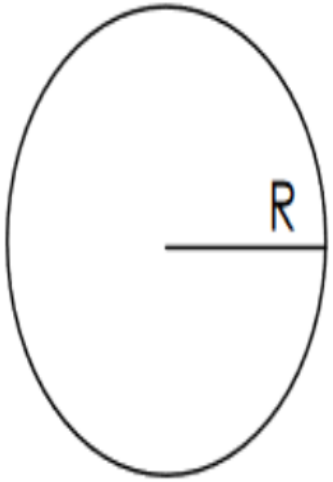

DISQUE

périmètre :

$2 \times \pi \times R$

aire :

$\pi \times R^2$

Appoline

Reproduction de figures

Points placés par l'adulte

Prénom : ..... Date : .....

GÉOMÉTRIE	Périmètres, aires et volumes Théorie - Formulaire

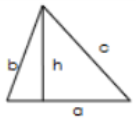

périmètre :
$a + b + c$

aire :
$\frac{a \times h}{2}$

TRIANGLE

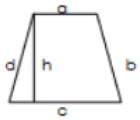

périmètre :
$a + b + c + d$

aire :
$\frac{(a + c) \times h}{2}$

TRAPÈZE



périmètre :
$(a + b) \times 2$

aire :
$a \times b$

RECTANGLE

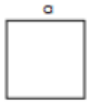

périmètre :
$a \times 4$

aire :
$a \times a = a^2$

CARRÉ

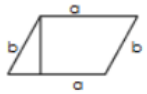

périmètre :
$(a + b) \times 2$

aire :
$a \times h$

PARALLÉLOGRAMME

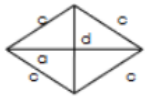

périmètre :
$c \times 4$

aire :
$\frac{a \times d}{2}$

LOSANGE

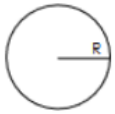

DISQUE

périmètre :
$2 \times \pi \times R$

aire :
$\pi \times R^2$

SPHÈRE

aire :
$4 \times \pi \times R^2$

volume :
$\frac{4 \times \pi \times R^3}{3}$

DISQUE - SPHÈRE

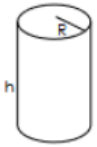

aire de la base :
$\pi \times R^2$

aire latérale :
$2 \times \pi \times R \times h$

aire totale :
$2 \pi R h + 2 \pi R^2$

volume :
$\pi \times R^2 \times h$

CYLINDRE

aire de la base :
$a \times b$

aire latérale :
$2 a c + 2 b c$

aire totale :
$2 a b + 2 a c + 2 b c$

volume :
$a \times b \times c$

PARALLÉLÉPIPÈDE RECTANGLE

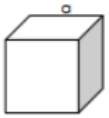

aire de la base :
a^2

aire latérale :
$4 a^2$

aire totale :
$6 a^2$

volume :
$a \times a \times a = a^3$

CUBE