HISTOIRE

Les premiers villages

Document 1: Objets du quotidien

Sur les sites de la période située entre 10 000 et 5 000 ans avant J.-C., on a découvert de nombreuses lames minuscules de pierre taillée, comme sur la photo *a*.



a Pointes de flèches en pierre

© Archives Larbor



b Poteries

© RMN/J.-G. Berizzi

1) Quelle arme de chasse associe-t-on aux objets de l'image a? En quelle matière sont-elles?

_____

_____

2) A quoi servent les objets du document b? En quoi et comment sont-ils faits?

_____

_____

_____

3) Pourquoi les hommes ont-ils eu besoin de poteries?

_____

_____

_____

4) Quels sont les changements de mode de vie des hommes de l'époque?

_____

_____

_____

Document 2: Habitations



b Dessin de reconstitution de la maison « danubienne »

HISTOIRE

Les premiers villages

1) D'où la photo a-t-elle été prise? Quel avantage cela présente-t-il?

_____

_____

2) Que représente le document b?

_____

_____

3) De quels matériaux pouvaient être faits les murs des maisons? Et les toits?

_____

_____

_____

4) Que penses-tu de la taille et de la technique de construction de ces maisons?

_____

_____

_____

_____

Document 3: Objets du quotidien

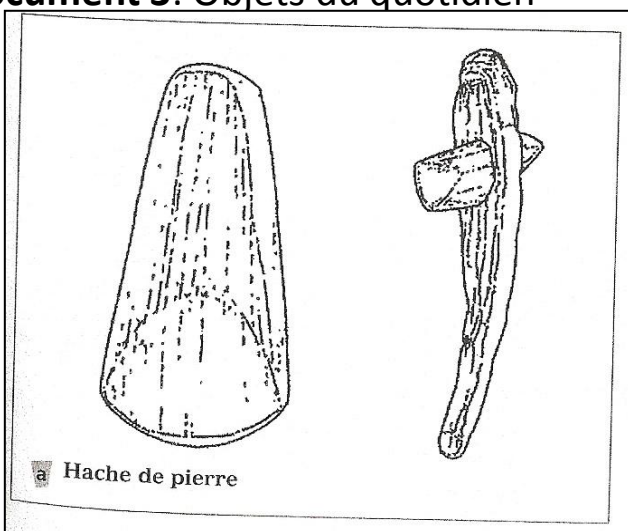

a Hache de pierre

On a retrouvé dans toute la France (et l'Europe), des centaines d'outils comme ceux représentés sur le dessin *a*, de tailles et de formes variées, neufs ou très usés.

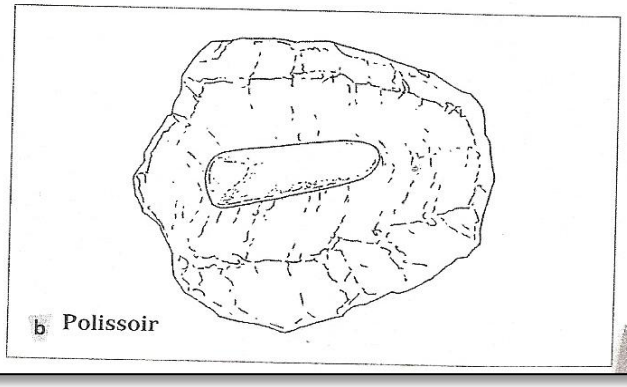

b Polissoir

5

1) En quoi est fabriqué l'outil a et à quoi servait-il?

_____

_____

_____

2) Quel est l'outil b et à quoi sert-il? Pourquoi y a-t-il une cavité en son centre?

_____

_____

_____

_____

3) Pourquoi cette outil avait-il une importance pour les hommes de cette période?

_____

_____

_____

_____

_____

Retiens.

_____

_____

_____

_____

_____

_____

_____

_____

_____

_____

_____

_____

_____

_____

_____

_____

_____