CM2

Résolution de problèmes

❶ La classe de Chloé visite le musée du Louvre. Au total, 27 personnes se sont rendues au musée dont 3 adultes accompagnateurs et 13 filles.
Combien y a-t-il de garçons dans la classe de Chloé ?

.....

❷ Dans la ville de Saint Gilles 1 289 enfants allaient à l'école l'année dernière, soit 134 enfants de moins que cette année.
Combien d'enfants vont à l'école cette année à Saint Gilles ?

→ Recopie l'énoncé sur ton cahier. Souligne la question en rouge et les données utiles en vert.

→ Quel schéma représente la situation ?

Schéma 1

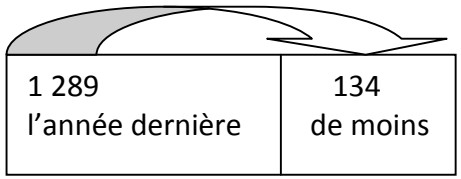

Schéma 2

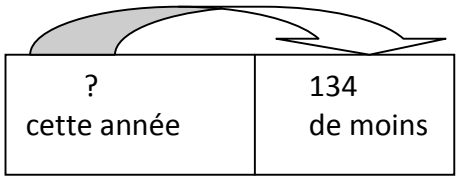

.....

❸ Un camion transporte **deux** conteneurs identiques. La masse totale du camion et de son chargement est de 20 930 kg. Le camion vide pèse 5 180 kg. Quelle est la masse **d'un** container ?

❹ Adrien possède 65€ et sa sœur Coralie 15€ de plus que lui.
Peuvent –ils acheter en commun le super Mikendo qui coûte 143€.

.....

❺ Le lycée Marcel Pagnol comptait 1 015 élèves au mois de juin. Fin octobre il en comptait 977. Entre juin et octobre, 263 élèves se sont inscrits au lycée. Combien d'élèves ont quitté le lycée durant cette période ?

.....

❻ La crêperie « Les Cocotiers » a gagné 2 286€ au mois d'août.
Elle a perdu 358€ au mois de septembre, puis elle a gagné 459€ au mois d'octobre.

Combien a t-elle gagné entre août et octobre ?

.....

❼ Combien possède Matthieu ?



http://cartablaroulette.eklablog.com/

CM2 | Résoudre des problèmes additifs et soustractifs

Résoudre des problèmes : fiche technique

Pour résoudre un problème

1. **Lis bien l'énoncé**

Repère la question qui est posée (Souligne - la en rouge) et les données utiles. (Souligne – les en vert).

2. Fais un schéma pour représenter la situation.

3. Choisis ta méthode (il n'y a pas qu'une façon de faire pour résoudre un problème !) et écris les calculs nécessaires.

Tu auras parfois besoin de plusieurs étapes pour arriver au résultat.

4. Ecris la phrase réponse.

5. Vérifie ta réponse.

Résoudre des problèmes : fiche technique

Pour résoudre un problème

1. **Lis bien l'énoncé**

Repère la question qui est posée (Souligne - la en rouge) et les données utiles. (Souligne – les en vert).

2. Fais un schéma pour représenter la situation.

3. Choisis ta méthode (il n'y a pas qu'une façon de faire pour résoudre un problème !) et écris les calculs nécessaires.

Tu auras parfois besoin de plusieurs étapes pour arriver au résultat.

4. Ecris la phrase réponse.

5. Vérifie ta réponse.

http://cartablaroulette.eklablog.com