GEOMETRIE

Trouve la réponse

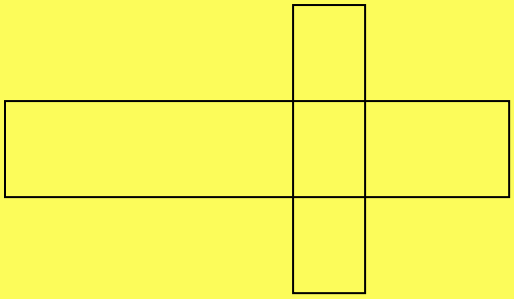

Cette figure a-t-elle un axe de symétrie ?
Si oui, combien ?

GEOMETRIE

Trouve la réponse.



Oui, 1 axe de symétrie

GEOMETRIE

Trouve la réponse

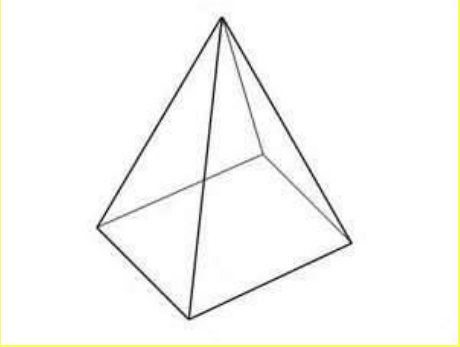

Comment s'appelle cette figure ?

GEOMETRIE

Trouve la réponse.



Une pyramide

GEOMETRIE

Trouve la réponse

Comment s'appelle cette figure ?

GEOMETRIE

Trouve la réponse.



Un cylindre

GEOMETRIE

Trouve la réponse

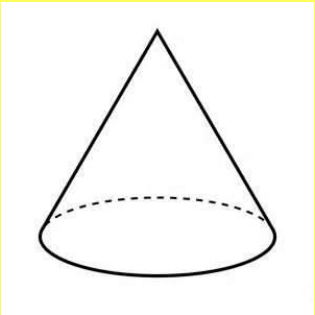

Comment s'appelle cette figure ?

GEOMETRIE

Trouve la réponse.



Un cône

GEOMETRIE

Trouve la réponse

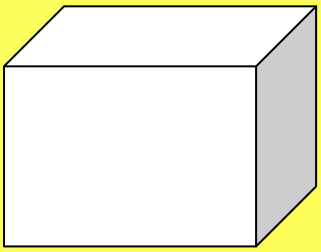

Comment s'appelle cette figure ?

GEOMETRIE

Trouve la réponse.



Un cube

GEOMETRIE

Trouve la réponse



Combien y a-t-il d'axes de symétrie ?

GEOMETRIE

Trouve la réponse.



6