## Calcule

50 - 25 = .....

150 - 50 = .....

100 - 75 = .....

100 - 20 = .....

25 x 3 = .....

50 x 5 = .....

25 x 4 = .....

75 x 4 = .....

## Problème de longueur

Lisa mesure 1 m 47 cm.
*De combien doit-elle encore grandir pour être aussi grande que son frère qui mesure 172 cm ?*

.....

.....

.....




Léo clôture son champ. *Calcule la longueur de la clôture.*

.....

.....

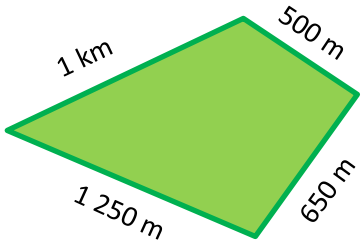


Le périmètre du champ mesure :

.....km .....m

*Unité 13 – séance 3*

http://le-stylo-de-vero.eklablog.com

## Calcule

50 - 25 = .....

150 - 50 = .....

100 - 75 = .....

100 - 20 = .....

25 x 3 = .....

50 x 5 = .....

25 x 4 = .....

75 x 4 = .....

## Problème de longueur

Lisa mesure 1 m 47 cm.
*De combien doit-elle encore grandir pour être aussi grande que son frère qui mesure 172 cm ?*

.....

.....

.....




Léo clôture son champ. *Calcule la longueur de la clôture.*

.....

.....

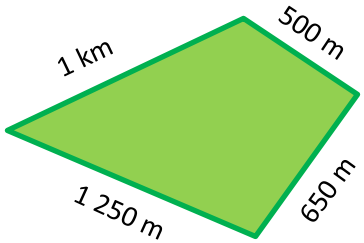


Le périmètre du champ mesure :

.....km .....m