Géométrie

Fiche 12

Les solides : la pyramide

1 Je compte le nombre de sommets, de faces. Je complète la définition.

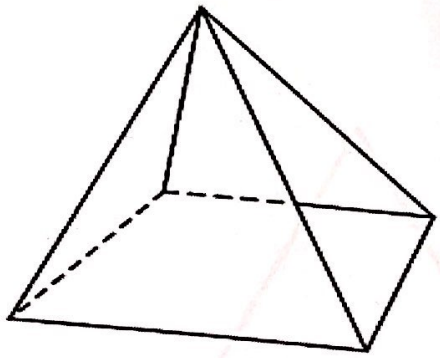

Nombres de faces : 5

Nombre de sommets : 5

Nombre d'arêtes : 8

Une pyramide a 5 faces, 5 sommets et 8 arêtes.

Toutes ses faces sont des triangles et sa base est un carré.

2 J'entoure toutes les pyramides.



Boutdegomme.eklablog.com

Scanné avec CamScanner

Géométrie

Fiche 13

Les solides : la pyramide

1 Je retrouve le patron de la pyramide parmi les autres.



Boutdegomme.eklablog.com

Scanné avec CamScanner

Géométrie

Fiche 15

Les solides : le cylindre

1 Je complète la définition.

Nombres de faces : 3

Un cylindre a 2 faces et 1 surface courbe.

Ses faces sont des cercles. Le cylindre peut rouler.

2 J'entoure tous les cylindres.

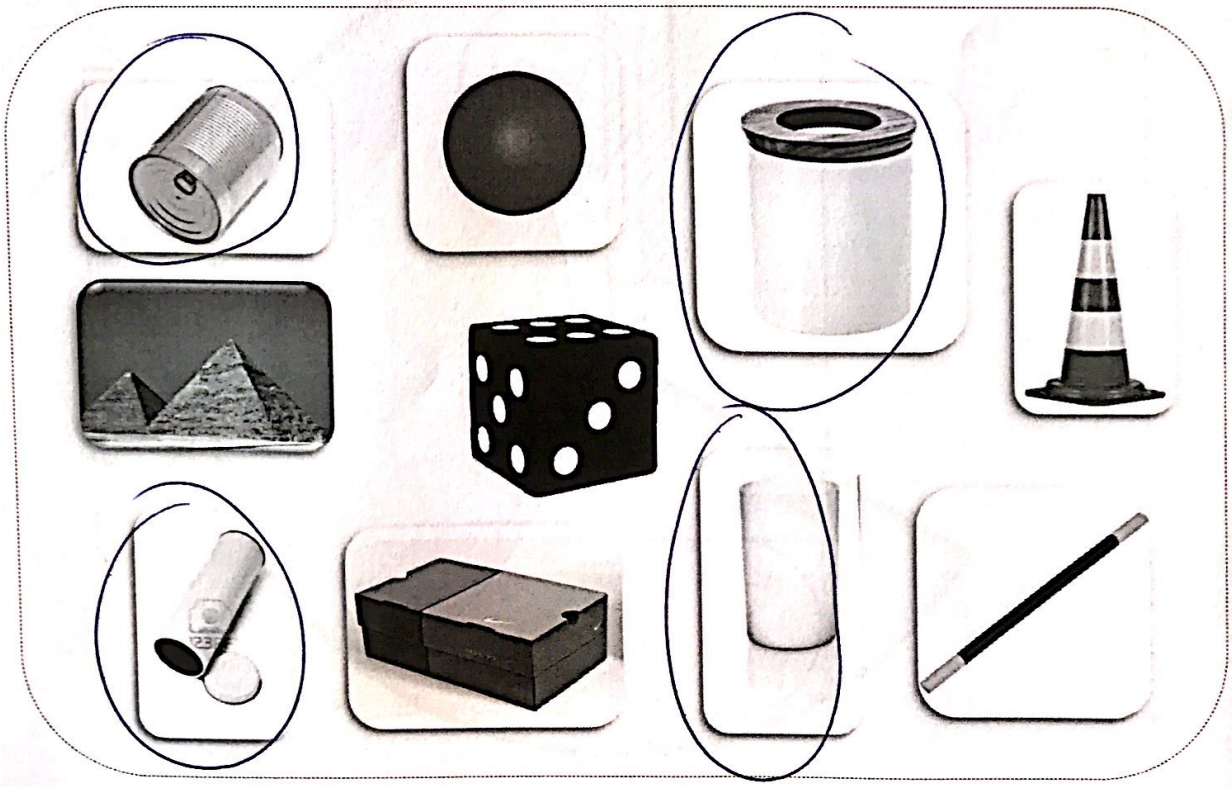

Boutdegomme.eklablog.com

Scanné avec CamScanner



Géométrie

Fiche 16

Les solides : le cylindre

1 Je retrouve le patron du cylindre parmi les autres.

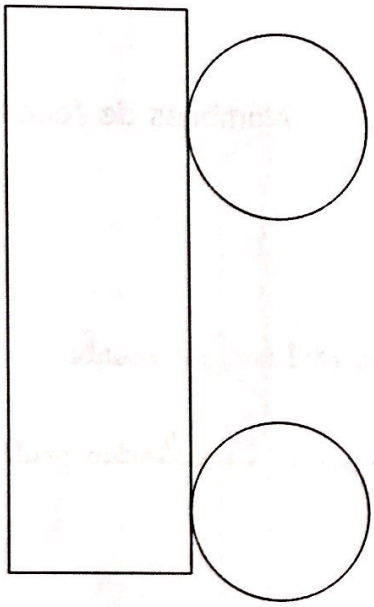







Boutdegomme.eklablog.com

Scanné avec CamScanner