GEOMETRIE

Trouve la réponse

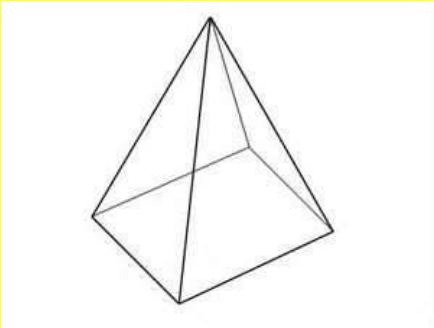

Combien y a-t-il d'arêtes dans une pyramide ?

GEOMETRIE

Trouve la réponse.



8 arêtes

GEOMETRIE

Trouve la réponse

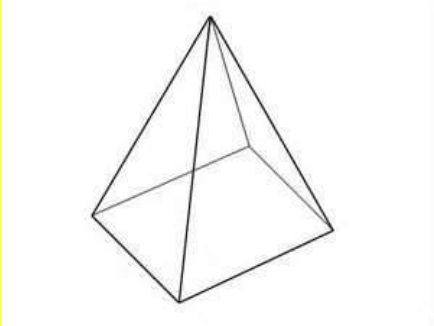

Combien y a-t-il de faces dans une pyramide ?

GEOMETRIE

Trouve la réponse.



5 faces

GEOMETRIE

Trouve la réponse

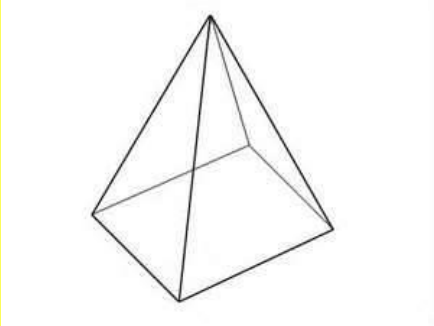

Combien y a-t-il de sommets dans une pyramide ?

GEOMETRIE

Trouve la réponse.



5 sommets

GEOMETRIE

Trouve la réponse

Combien y a-t-il d'axes de symétrie dans le drapeau du Bengladesh ?

GEOMETRIE

Trouve la réponse.



2 axes

GEOMETRIE

Trouve la réponse



Combien y a-t-il d'axes de symétrie dans le drapeau d'Hawaï ?

GEOMETRIE

Trouve la réponse.



0

GEOMETRIE

Trouve la réponse

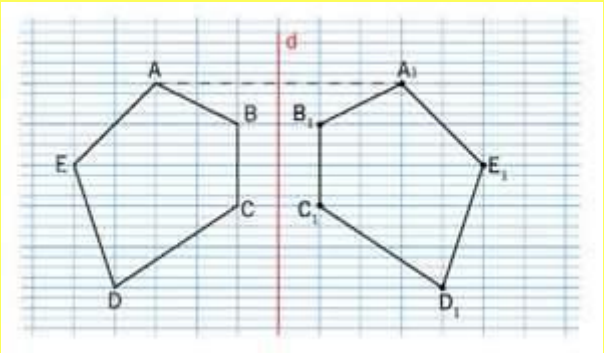

Est-ce qu'il y a un axe de symétrie ?

GEOMETRIE

Trouve la réponse.



oui