Mardi 23 juin Maths

Activités ritualisées

- Sur l'ardoise, écris le nombre suivant 169.

  Ex : 170, c'est 100 et 70 (famille des soixante-dix).

  Même chose avec le nombre qui vient après 680, après 897 et après 579.
- Sur l'ardoise, combien y a-t-il de centaines dans : 150 + 150 + 130 + 170 ?

Calcul mental

Complète les calculs :

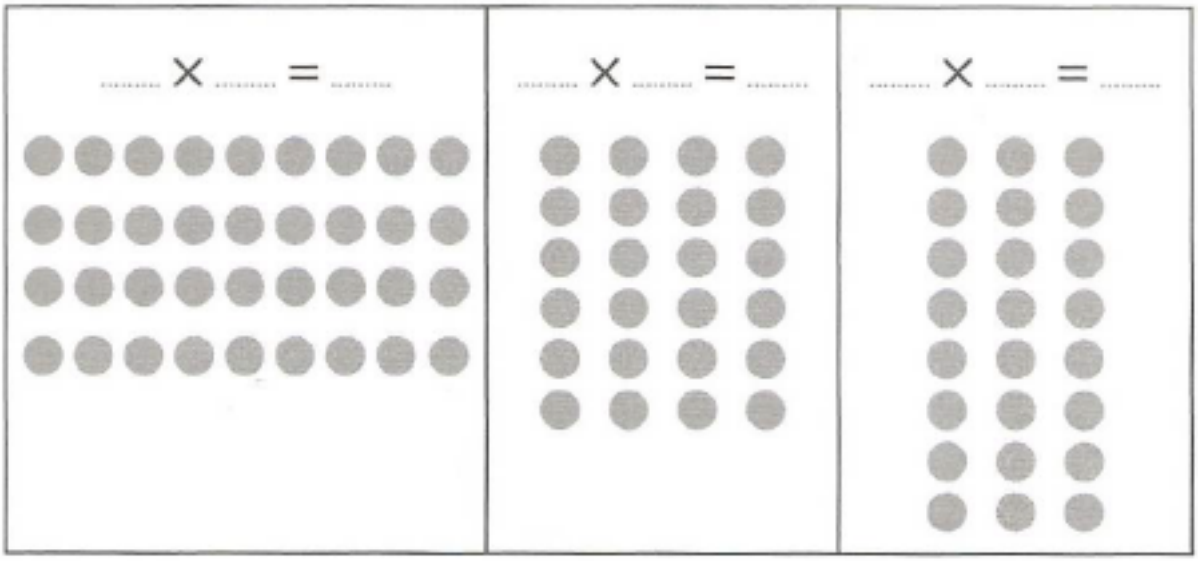

Problème

<u>Résous le problème suivant :</u> (avec **un dessin** et **un calcul** + **une phrase-réponse**).

Pour préparer la fête d'anniversaire, maman a ramené 18 parts de cake, 6 parts de tarte au citron et 9 parts de tarte au chocolat.

Combien de parts de gâteau y a-t-il au total ?

Apprentissage

- <u>Problème températures</u>

  Lis bien le graphique puis réponds aux questions.

Dans la classe, les élèves ont noté la température la plus chaude observée le matin à la récréation pour chaque mois.

Ils ont écrit la température sur un graphique.

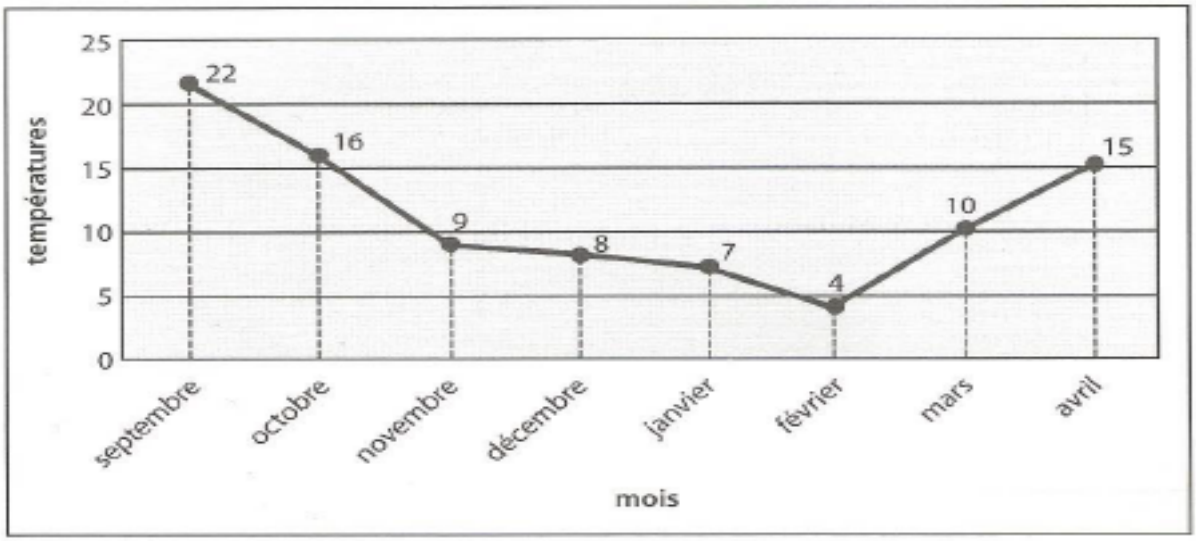

1 Quelle température faisait-il en décembre ? .....

2 Quelle température faisait-il en février ? .....

3 Quelle température faisait-il en avril ? .....

4 Combien de degrés ont été perdus entre octobre et novembre ?

.....

.....

- <u>Facultatif : les pyramides</u>

  Complète les pyramides.

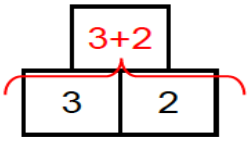

La case au-dessus de deux autres est obtenue en additionnant les deux nombres

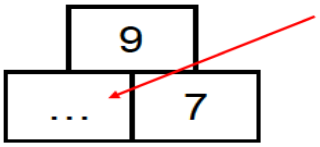

Pour trouver ce nombre,
On utilise la règle de la pyramide :
...+7 =9
Donc le nombre qui manque c'est 2

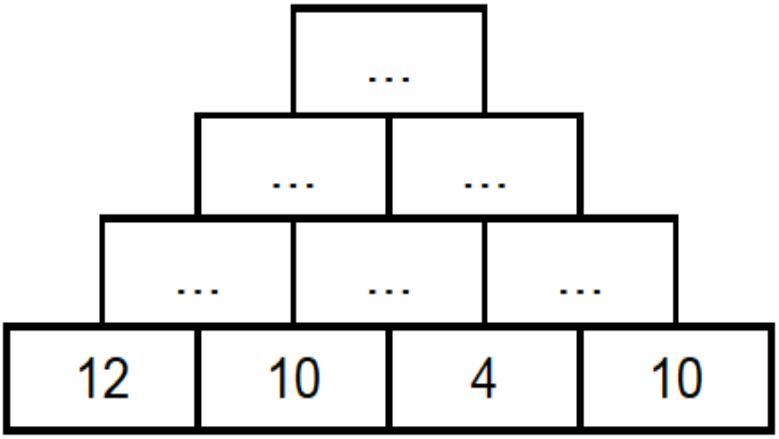
...
... ...
... ...
12 10 4 10

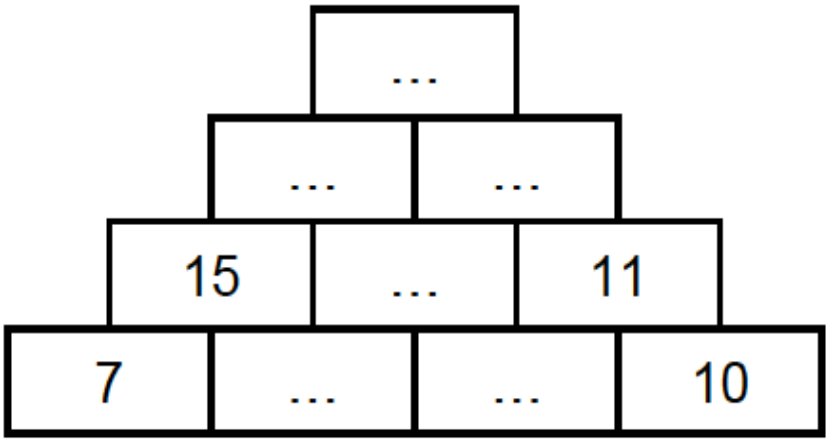
...
... ...
15 ... 11
7 10