Prénom : .....

Fichier de problèmes

1	2	3	4	5
6	7	8	9	10

Mimiflexi x Audymaikresse

1

Hugo prépare un gâteau au chocolat. Il lui faut 3 œufs. Il a une boite de 10 œufs.

Combien lui restera-t-il d'œufs ?

Schéma :

Calcul :

Réponse :

.....

.....

2

Marina a 14 billes rouges et 17 billes bleues.



Combien a-t-elle de billes au total ?

Schéma :

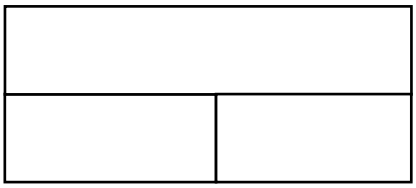

Calcul :

Réponse :

.....

.....

Mimiflexi x Audymaikresse

3

Rémi avait 42 trombones. Il en donne à Cécile. Maintenant, il lui en reste 32.

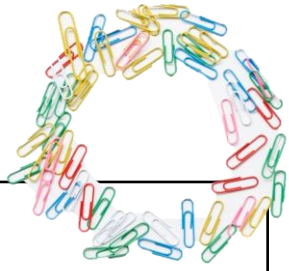

Combien a-t-il donné de trombones à Cécile ?

Schéma :

Calcul :

Réponse :

.....

.....

4

Un escargot avance de 26 centimètres et encore de 12 centimètres.

Combien de centimètres a-t-il parcourus en tout ?

Schéma :

Calcul :

Réponse :

.....

.....

Mimiflexi x Audymaikresse

5

Dans une animalerie il y a 26 souris. Il y a 14 souris grises et les autres sont blanches.

Combien de souris blanches y a-t-il ?

Schéma :

Calcul :

Réponse :

.....

.....

6

Séverine avait 3 érables japonais dans une jardinière. Elle en a planté. Maintenant, elle en a 10 au total.

Combien a-t-elle planté d'érables ?

Schéma :

Calcul :

Réponse :

.....

.....

Mimiflexi x Audymaikresse

7

Il y a 67 places dans le car. 46 passagers se sont déjà installés.

Combien de places libres reste-t-il ?

Schéma :

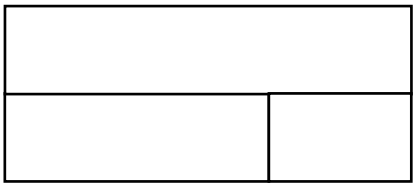

Calcul :

Réponse :

.....

.....

8

Lucas a 12 bonbons. Il en donne 4 à Paul.

Combien de bonbons lui reste-t-il ?

Schéma :

Calcul :

Réponse :

.....

.....

Mimiflexi x Audymaikresse

9

Cathy achète un livre à 5€, un stylo à 2€ et une trousse à 6€.

Combien va-t-elle payer ?

Schéma :

Calcul :

Réponse :

.....

.....

10

Sami veut acheter un bouquet de roses à 17€ pour sa maman. Il n'a que 10€.

Combien lui manque-t-il d'argent ?

Schéma :

Calcul :

Réponse :

.....

.....

Mimiflexi x Audymaikresse