Prénom : …… Date : ……

LES LONGUEURS

1./ Sans utiliser de règle graduée, reporte les longueurs des 4 segments suivants sur la droite en dessous en prenant le point P comme extrémité commune :

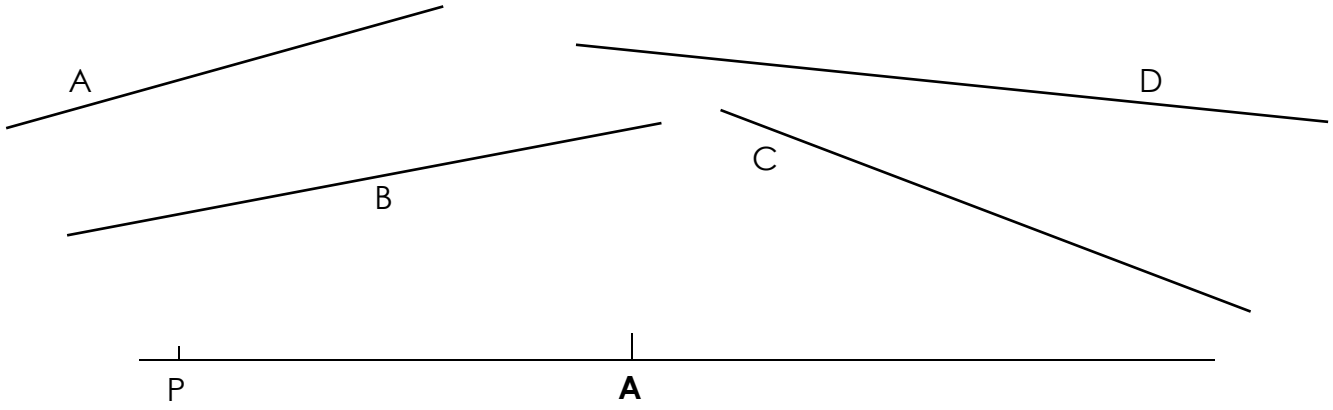

- Quel instrument as-tu utilisé ?

……

2./ Sans utiliser de règle graduée, reporte 4 fois la longueur du segment [AB] sur la droite D, à partir du point P :

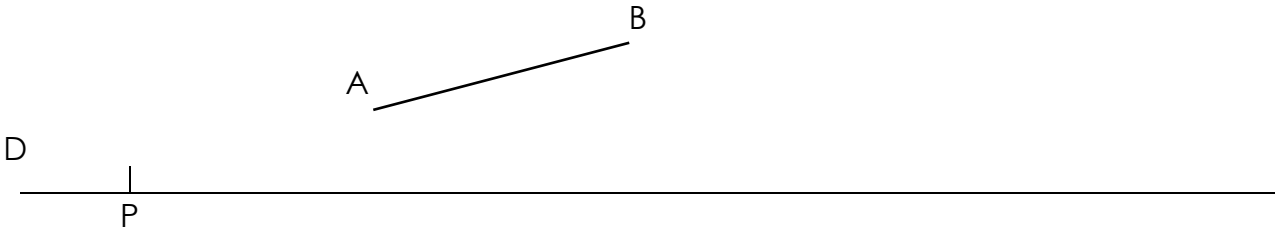

3./ Sans utiliser de règle graduée, trouve quelle figure a le périmètre le plus grand. (Tu peux utiliser les droites en dessous pour reporter les mesures des différents côtés des figures)

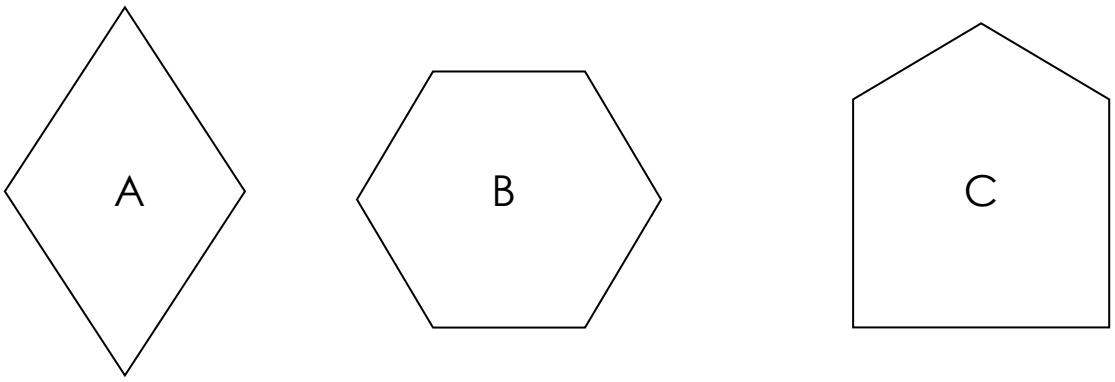



La figure qui a le plus grand périmètre est la figure : .....

LES LONGUEURS

1./ Sans utiliser de règle graduée, trouve quel est le plus petit et le plus grand des segments suivants :

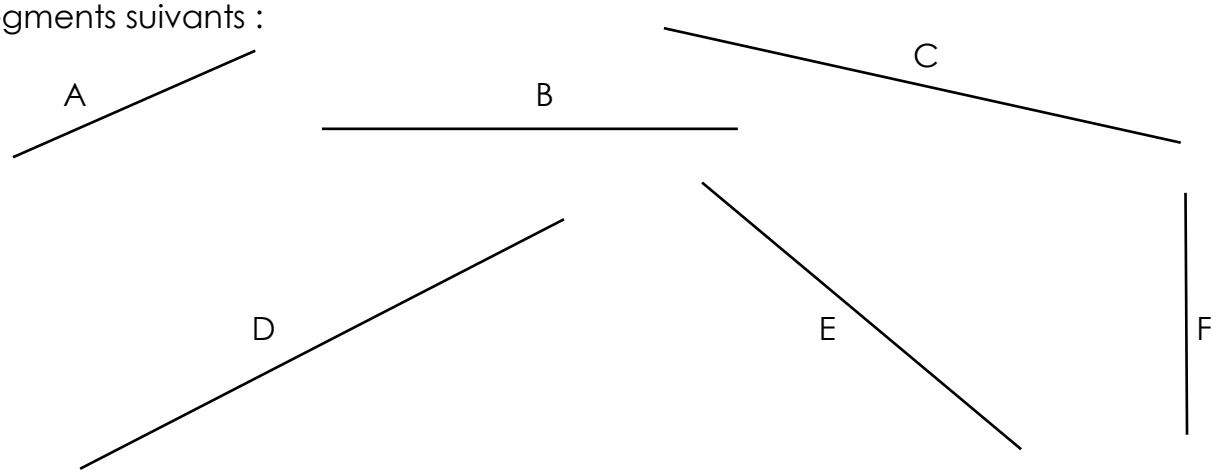

- Le segment le plus court est le segment .....
- Le segment le plus long est le segment .....

- Deux segments sont de même mesure. Ce sont les segments ..... et .....

- Vérifie tes réponses à l'aide d'une règle graduée.

- Reporte la mesure de ces segments dans le tableau ci-dessous en suivant l'exemple :

A	B	C	D	E	F
3 cm 5 mm	.....	.....	.....	.....	.....
3,5 cm	.....	.....	.....	.....	.....

2./ Mesure et indique la longueur de chacun des côtés de ces figures et calcule leurs périmètres :

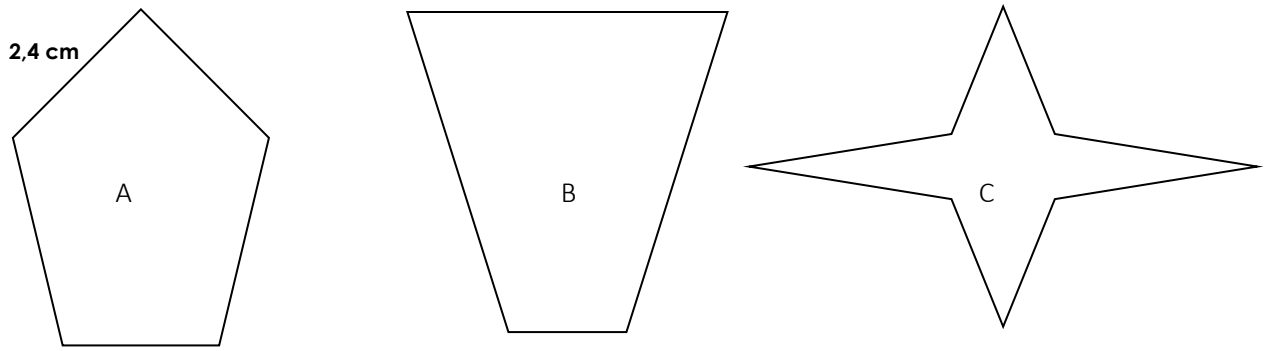

A	**B**	**C**
2,4 + ...	.....	.....
.....	.....	.....
=	=	= .....