24 Comprendre le sens de la multiplication (3)

✔ Si je connais 4 x 6, alors je connais aussi 6 x 4.

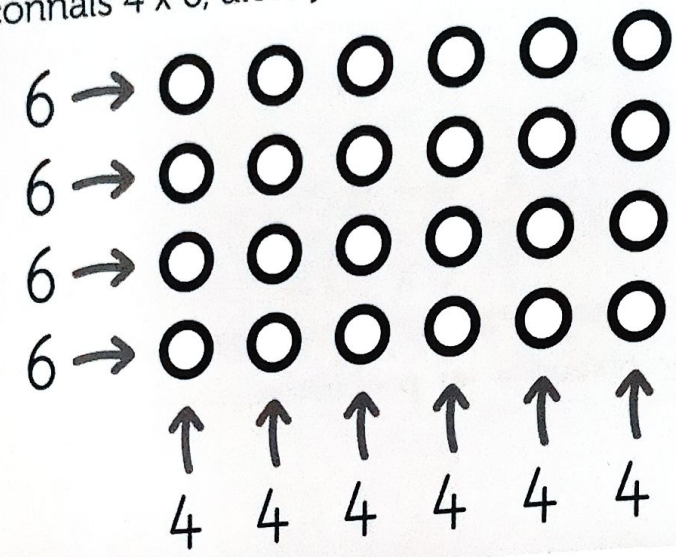

$4 \times 6 = 24$

ou

$6 \times 4 = 24$

Dessine la boite à gâteaux qui correspond à chaque multiplication.

1



4 x 3

3 x 6

2 x 5

Écris les multiplications pour trouver le nombre de fleurs.

2



..... x ..... = ...

ou

..... x ..... = ...

Relie.



3 Barre les calculs qui ne correspondent pas au dessin.

7 fois 3 | 7 + 3 | 7 x 5 | 3 + 7 | 3 x 7 | 7 x 3



8 fois 2 | 2 + 8 | 2 x 8 | 8 x 2 | 4 x 8 | 8 + 2



8 x 4 | 4 fois 5 | 5 x 4 | 5 + 4 | 4 x 5 | 4 + 5

4 Complète.

3 x 4 = 4 x 3

9 x 5 = ... x .....

3 x 2 = ... x .....

6 x 2 = ... x .....

7 x 10 = ... x .....

8 x 1 = ... x .....

5 Utilise ta calculatrice pour résoudre le problème dans ton cahier.

Dans la boite,
il y a 5 lignes de 6 gâteaux.

Combien de gâteaux y a-t-il dans la boite?

6 Utilise ta calculatrice pour résoudre le problème dans ton cahier.

Combien y a-t-il de chocolats dans cette boite?



Colorie les 5 nombres qui se suivent.

169 172 175 160 173

180 171 167 170 177