Voici le plan du quartier de Noélia.
Sa maison est située en (K,7).

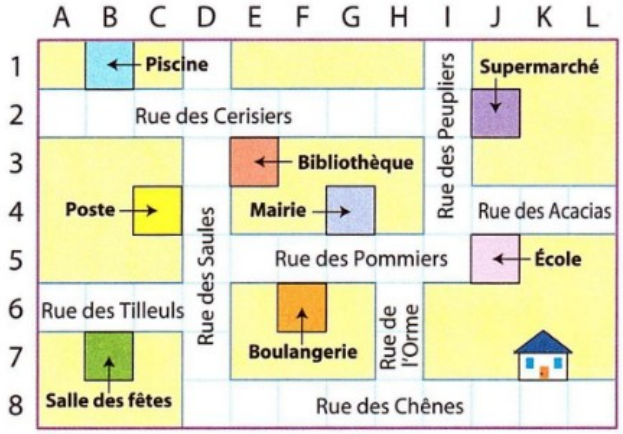

A. Écris le nom du bâtiment qui est en :

- (B,1) : .....
- (G,4) : .....
- (J,2) : .....
- (E,3) : .....

B. Écris le code de :

- l'école : .....
- la boulangerie : .....
- la salle des fêtes : .....
- la Poste : .....

C. Tous les samedis, Noélia part de chez elle, et se rend à son activité préférée. Voici son parcours : rue des Chênes, rue de l'Orme, rue des Pommiers, rue des Saules, rue des Cerisiers à gauche.

- **Trace** son parcours.
- Où Noélia se rend-elle ? .....

1.

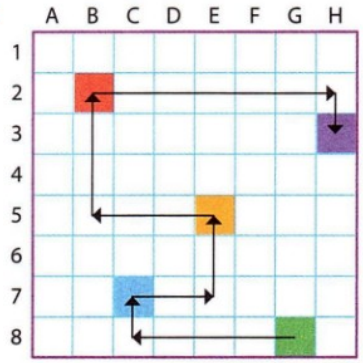

a) **Écris** le code des cases de couleur.

(.....,.....) (.....,.....)
(.....,.....) (.....,.....)
(.....,.....)

b) **Finis** de coder le parcours tracé sur le plan.

(G,8) ; (C,8) ; .....
.....

2.

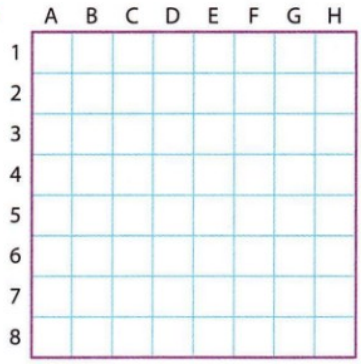

a) **Colorie** les cases demandées de la bonne couleur.

(A,6) (F,5)
(H,8) (G,3)
(D,7)

b) **Trace** le parcours suivant :

(A,2) ; (H,2) ; (H,8) ; (C,8) ; (C,4) ; (G,4) ; (G,7) ; (E,7) ; (E,5).