86 Moitié, tiers, quart

➥ **Calcul mental :** Trouver le quotient exact de divisions du type $n : 2$ ($q < 10$).
Ex. : $10 : 2 = ?$; $14 : 2 = ?$

Je comprends

➥ **Activité de découverte :** Notion de quart, notion de tiers.

La **moitié** de la boite : 6 œufs.



Pour trouver la moitié, on **divise par 2**.

$12 : 2 = 6$

(On vérifie : $2 \times 6 = 12$.)

Le **tiers** de la boite : 4 œufs.

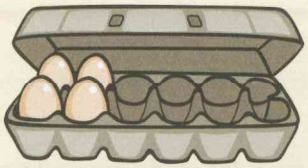

Pour trouver le tiers, on **divise par 3**.

$12 : 3 = 4$

(On vérifie : $3 \times 4 = 12$.)

Le **quart** de la boite : 3 œufs.

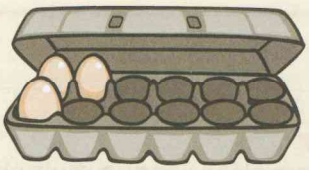

Pour trouver le quart, on **divise par 4**.

$12 : 4 = 3$

(On vérifie : $4 \times 3 = 12$.)

Je m'entraîne

1 *

Entoure la **moitié** des billes, puis **complète**.

a. La moitié de 4 = ?



4 : ..... = ...

..... × ..... = 4

La moitié de 4 est .....

b. La moitié de 10 = ?



10 : ..... = ...

..... × ..... = 10

La moitié de 10 est .....

c. La moitié de 14 = ?

14 : ..... = ...

..... × ..... = 14

La moitié de 14 est .....

2 *

Entoure le **tiers** des billes, puis **complète**.

a. Le tiers de 9 = ?



9 : ..... = ...

..... × ..... = 9

Le tiers de 9 est .....

b. Le tiers de 15 = ?



15 : ..... = ...

..... × ..... = 15

Le tiers de 15 est .....

c. Le tiers de 21 = ?



21 : ..... = ...

..... × ..... = 21

Le tiers de 21 est .....

➥ **Objectif :** Calculer la moitié, le tiers et le quart de nombres d'usage courant.