Je découvre les multiplications :

A la pâtisserie !

De nombreux clients sont venus à la pâtisserie. Ce matin, tous les plateaux étaient remplis !
Compte le nombre de friandises de chaque sorte, lorsque le plateau était complet !

Mon calcul :

Ma réponse :

Il y avait ..... gâteaux.

Mon calcul :

Ma réponse :

Il y avait ..... gâteaux.



Mon calcul :

Ma réponse :

Il y avait ..... gâteaux.

Observe les plaques de chocolat… Une petite souris est venue les grignoter…
Combien de carrés comptait chaque boîte au départ ?

Mon calcul :

Ma réponse :

Il y avait ..... carrés.

Mon calcul :

Ma réponse :

Il y avait ..... carrés.



Mon calcul :

Ma réponse :

Il y avait ..... carrés.

Mon calcul :

Ma réponse :

Il y avait ..... carrés.