

Mathématiques CE2 – Année 2014/2015 – Bilan 4

Date : _____

Ton prénom : _____

1. *Calcule ces soustractions.*

4 3 6	6 1 3	8 0 0	5 6 2
- 4 8	- 2 0 9	- 1 5 3	- 2 3 6
. . .	. . .	. . .	. . .

2. *Complète avec les signes > ou <.*

701 ..... 69 294 ..... 195 99 ..... 928 505 155

3. *Ecris chaque nombre dans la bonne case* : *Les nombres doivent être rangés du plus petit au plus grand.* 210 , 180 , 325 , 91 , 208

80		100				309	

4. *Enigme : trouves les nombres A et B qui ont chacun 3 chiffres.*

Lequel des deux nombres est le plus petit ? .....

A 8 . 1 **B** 7 . .

Trouve et complète les nombres avec ces informations :

- **B** a le même chiffre pour ses centaines et pour ses dizaines.
- Le chiffre des dizaines de **A** est plus grand que le chiffre des dizaines de **B**.
- Le chiffre des unités de **B** est plus petit que le chiffre des unités de **A**.

5. *Géométrie : reproduit ce triangle à partir du point déjà placé.*

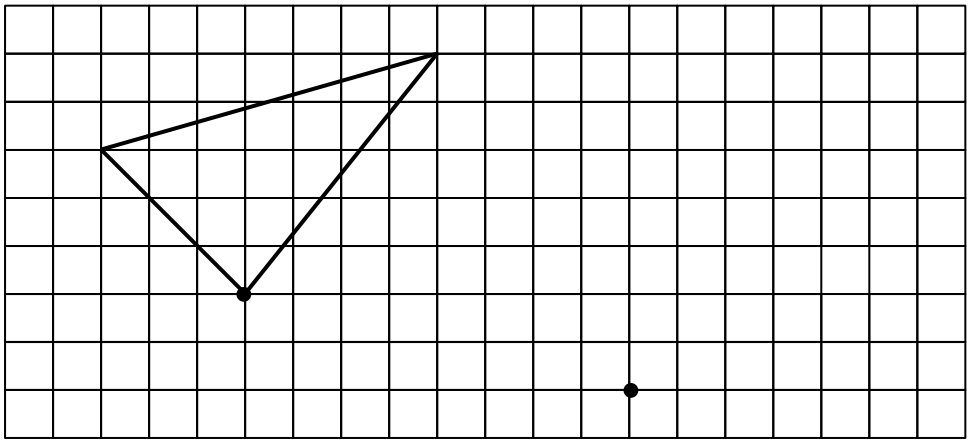



Je sais calculer des soustractions en colonnes (exercice 1)	
Je sais comparer deux nombres, utiliser les signes < et > et les ranger par ordre croissant (exercices 2, 3, 4)	
Je sais reproduire un triangle sur quadrillage. (exercice 5)	