mon prénom :

Evaluation : Mathématiques CE2 (3)

la date :

Compétence du LSUN :	Non atteint	Partiellement atteint	Atteint	Dépassé
(Se) repérer et (se) déplacer dans l'espace en utilisant ou en élaborant des représentations.				

Exercice 1 : **Reproduis** la figure.

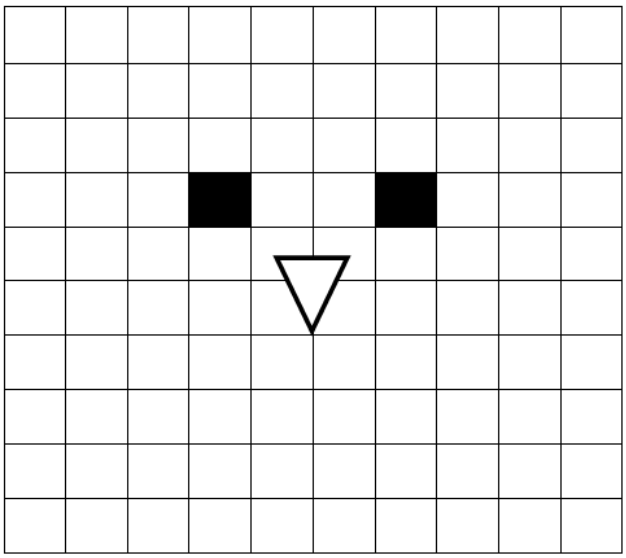

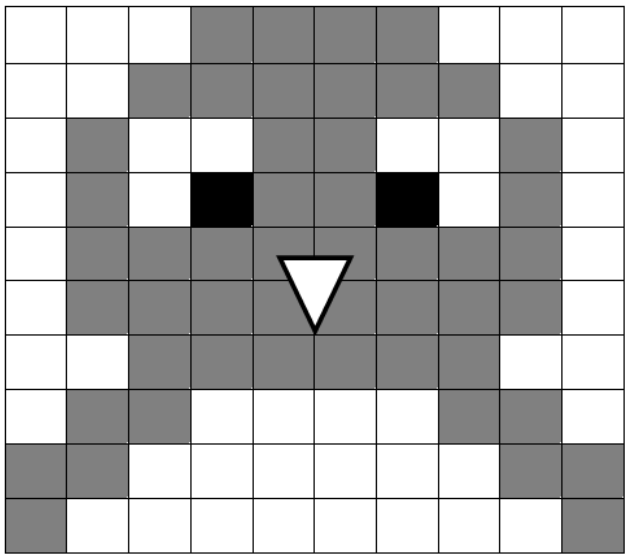

Exercice 2 : **Écris** la position de chaque enfant. **Place** les figures.

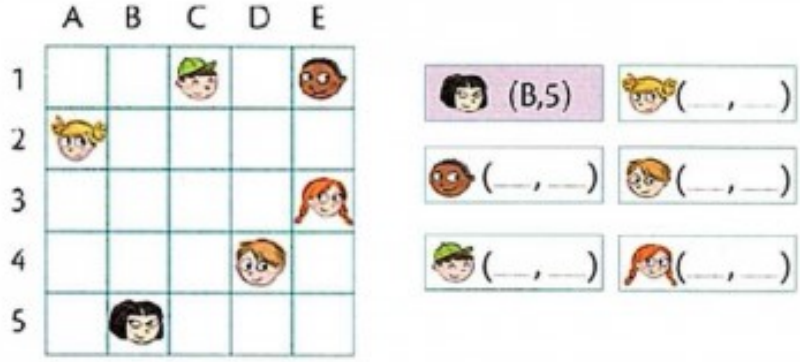

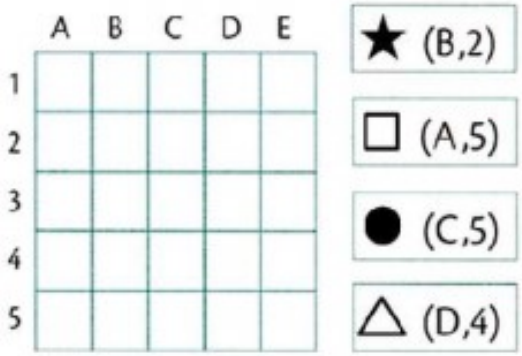

Exercice 3 : **Décode** et **trace** le trajet de Voyou pour qu'il récupère les balles. **Code** avec des flèches et des nombres le trajet de Bella pour qu'elle récupère son os.

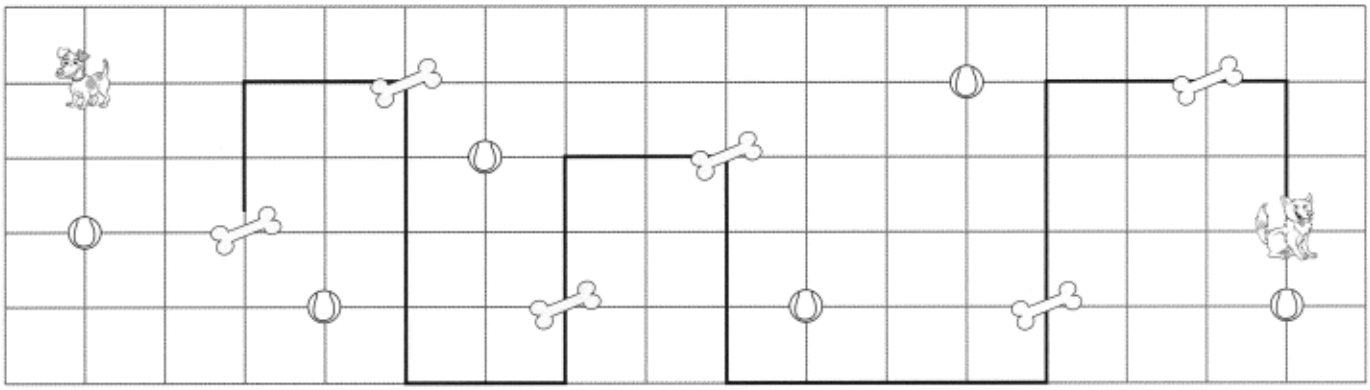

Voyou		3	↓	5	→	2	↑	1	→	1	↓	3	→	1	↓	2	→	3	↑	2	→	3	↓	2	→
Bella																									