41 Utiliser un tableau à double entrée

✔ Je sais utiliser un tableau à double entrée.

1 Colorie la voiture en respectant les indications données dans le tableau.

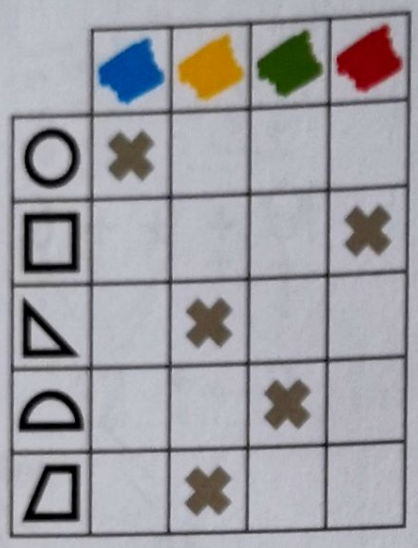



2 Trace les croix dans les bonnes cases du tableau.





Le nombre mystère: entoure l'étiquette qui ne correspond à aucune collection.

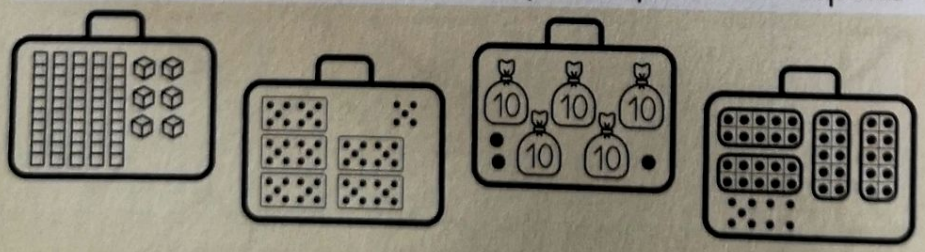

53 65 55 49 56

3 Cherche toutes les voitures que l'on peut fabriquer.



4 Lola et Sami ont commandé des jouets.

	5€	2€	5€	7€	3€
Lola	✖		✖	✖	
Sami		✖		✖	✖

Calcule ce que doit payer Lola.

Lola doit payer ..... euros.

Calcule ce que doit payer Sami.

Sami doit payer ..... euros.

Le nombre mystère : entoure l'étiquette qui ne correspond à aucune addition.