NUMERATION et CALCULS

Léa a dans un porte-monnaie :

Elle veut acheter un pantalon qui coûte 30€

A-t-elle assez d'argent ?

Est-ce qu'il en manque ou en reste ?

Combien ?

NUMERATION et CALCULS

Trouve la réponse.



Non-il manque 1€

NUMERATION et CALCULS

Rachel joue au jeu de l'oie.
Elle est sur case 6.
Elle lance

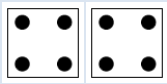

.

Sur quelle case va-t-elle arriver ?

NUMERATION et CALCULS

Trouve la réponse.

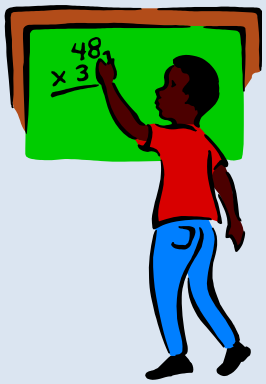

14

NUMERATION et CALCULS

Sam a dans son porte-monnaie :

Il veut acheter un costume qui coûte 45€.

Que restera t-il ?

NUMERATION et CALCULS

Trouve la réponse.

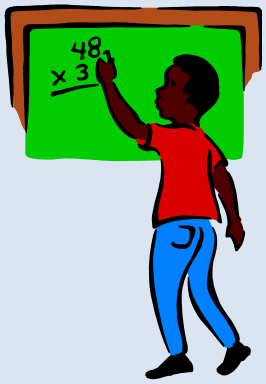

25