Prénom : **Date :**

EVALUATION DE GEOMETRIE CM1, Le cercle.

- Connaître un vocabulaire spécifique.
- Construire une figure à partir d'un programme de construction.
- Savoir reproduire une figure donnée.

1. Complète les étiquettes sur les caractéristiques du cercle :

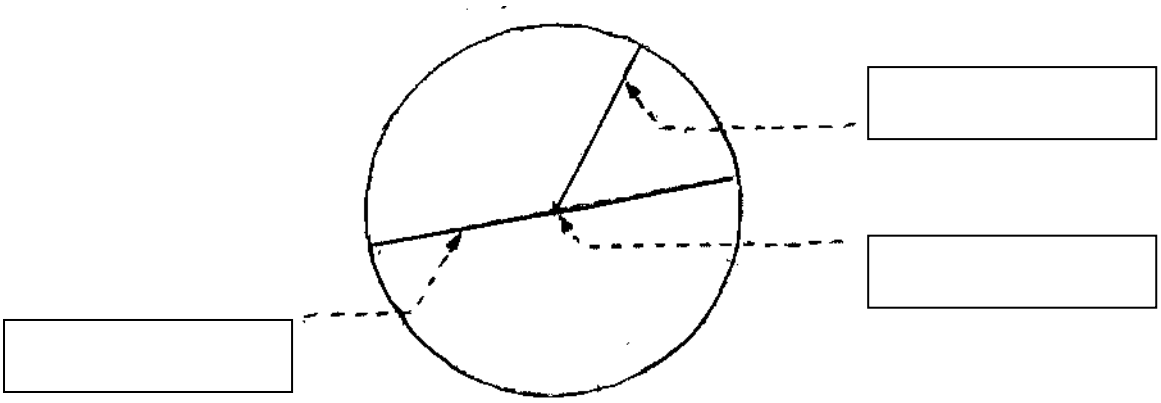

2. Suis et applique les programmes de construction suivants au dos de la feuille :

A) Place un point O.
Trace le cercle de centre O et de rayon 3 cm.
Trace le cercle de centre 0 et de rayon 4 cm.
Trace le cercle de centre 0 et de rayon 5 cm.

B) Place le point I.
Trace le cercle de centre I et de rayon 3 cm.
Trace un diamètre [AB].
Trace le cercle de centre A et de rayon [AI].
Trace le cercle de centre B et de rayon [BI].
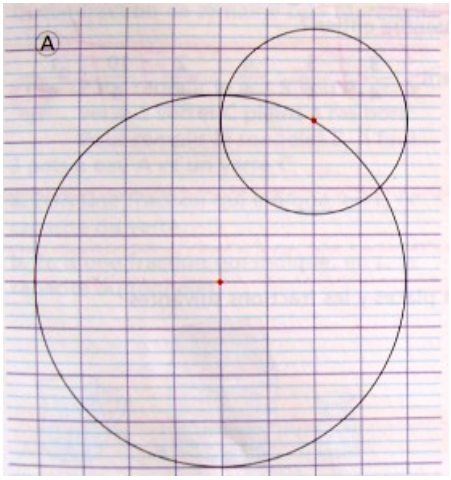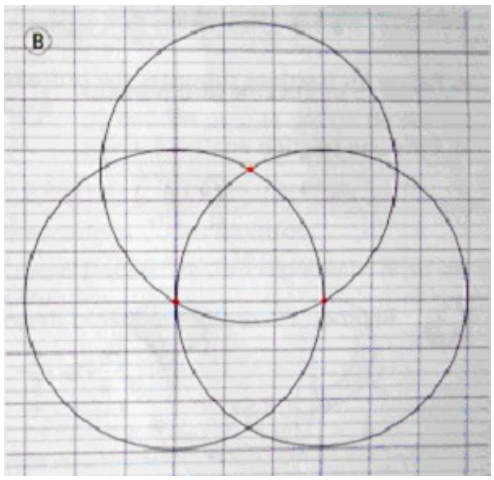
3. Trace les figures ci-dessous sur une feuille de classeur :