NUMERATION et CALCULS

Mamie achète 3 pains à 50 cents pièce.

Combien va-t-elle payer ?

Choisis la bonne réponse.

- ☐ 1 c
- ☐ 90 c
- ☐ 1€50



NUMERATION et CALCULS

Choisis la bonne réponse.

1€50

NUMERATION et CALCULS

Romain achète 4 bonbons à 20 cents chacun.

Combien va-t-il payer ?

Choisis la bonne réponse.

- ☐ 40 c
- ☐ 80 c
- ☐ 20 c

NUMERATION et CALCULS

Choisis la bonne réponse.

80 cents

NUMERATION et CALCULS

Yaren achète 15 maquillages à 5€ le maquillage.

Combien va-t-elle payer ?

Choisis la bonne réponse.

- ☐ 75 €
- ☐ 20 €
- ☐ 10 €

NUMERATION et CALCULS

Choisis la bonne réponse.

75 €

NUMERATION et CALCULS

Choisis la bonne réponse.

12 €

NUMERATION et CALCULS

Un enfant achète 3 glaces. Chaque glace coûte 4 €.

Combien va-t-il dépenser ?

Choisis la bonne réponse.

- ☐ 4 €
- ☐ 12 €
- ☐ 3 €

NUMERATION et CALCULS

Choisis la bonne réponse.

50 €

NUMERATION et CALCULS

Papa achète 5 livres à 10 € le livre.

Combien va-t-il payer ?

Choisis la bonne réponse.

- ☐ 50 €
- ☐ 20 €
- ☐ 40 €



NUMERATION et CALCULS

Choisis la bonne réponse.

260 €

NUMERATION et CALCULS

Maman achète 20 jeux à 10 € chacun et une console à 60 €

Combien va-t-elle payer ?

Choisis la bonne réponse.

- ☐ 80 €
- ☐ 260 €
- ☐ 90 €