Géométrie n° ....

Connaître et décrire des solides

Figures	Noms	Particularités
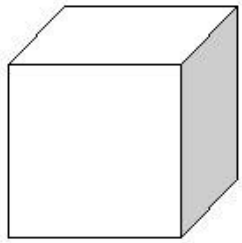	**un cube**	- Nombre de faces : 6 - Nombre d'arêtes : 12 - Nombre de sommets : 8 - Nature des faces : 6 carrés
	**un parallélépipède**	- Nombre de faces : 6 - Nombre d'arêtes : 12 - Nombre de sommets : 8 - Nature des faces : 6 rectangles (ou 2 carrés et 4 rectangles)
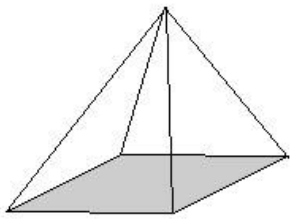	**une pyramide**	- Nombre de faces : 5 - Nombre d'arêtes : 8 - Nombre de sommets : 5 - Nature des faces : 1 carré et 4 triangles isocèles (ou 1 rectangle et 4 triangles isocèles)
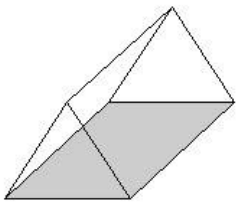	**un prisme**	- Nombre de faces : 5 - Nombre d'arêtes : 9 - Nombre de sommets : 6 - Nature des faces : 2 triangles et 3 rectangles
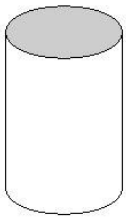	**un cylindre**	- Nombre de faces : 3 - Nombre d'arêtes : 0 - Nombre de sommets : 0 - Nature des faces : 2 disques et 1 rectangle